This is a digital copy of a book that was preserved for generations on library shelves before it was carefully scanned by Google as part of a project to make the world's books discoverable online.

It has survived long enough for the copyright to expire and the book to enter the public domain. A public domain book is one that was never subject to copyright or whose legal copyright term has expired. Whether a book is in the public domain may vary country to country. Public domain books are our gateways to the past, representing a wealth of history, culture and knowledge that's often difficult to discover.

Marks, notations and other marginalia present in the original volume will appear in this file - a reminder of this book's long journey from the publisher to a library and finally to you.

Usage guidelines

Google is proud to partner with libraries to digitize public domain materials and make them widely accessible. Public domain books belong to the public and we are merely their custodians. Nevertheless, this work is expensive, so in order to keep providing this resource, we have taken steps to prevent abuse by commercial parties, including placing technical restrictions on automated querying.

We also ask that you:

+ *Make non-commercial use of the files* We designed Google Book Search for use by individuals, and we request that you use these files for personal, non-commercial purposes.

+ *Refrain from automated querying* Do not send automated queries of any sort to Google's system: If you are conducting research on machine translation, optical character recognition or other areas where access to a large amount of text is helpful, please contact us. We encourage the use of public domain materials for these purposes and may be able to help.

+ *Maintain attribution* The Google "watermark" you see on each file is essential for informing people about this project and helping them find additional materials through Google Book Search. Please do not remove it.

+ *Keep it legal* Whatever your use, remember that you are responsible for ensuring that what you are doing is legal. Do not assume that just because we believe a book is in the public domain for users in the United States, that the work is also in the public domain for users in other countries. Whether a book is still in copyright varies from country to country, and we can't offer guidance on whether any specific use of any specific book is allowed. Please do not assume that a book's appearance in Google Book Search means it can be used in any manner anywhere in the world. Copyright infringement liability can be quite severe.

About Google Book Search

Google's mission is to organize the world's information and to make it universally accessible and useful. Google Book Search helps readers discover the world's books while helping authors and publishers reach new audiences. You can search through the full text of this book on the web at `http://books.google.com/`

Über dieses Buch

Dies ist ein digitales Exemplar eines Buches, das seit Generationen in den Regalen der Bibliotheken aufbewahrt wurde, bevor es von Google im Rahmen eines Projekts, mit dem die Bücher dieser Welt online verfügbar gemacht werden sollen, sorgfältig gescannt wurde.

Das Buch hat das Urheberrecht überdauert und kann nun öffentlich zugänglich gemacht werden. Ein öffentlich zugängliches Buch ist ein Buch, das niemals Urheberrechten unterlag oder bei dem die Schutzfrist des Urheberrechts abgelaufen ist. Ob ein Buch öffentlich zugänglich ist, kann von Land zu Land unterschiedlich sein. Öffentlich zugängliche Bücher sind unser Tor zur Vergangenheit und stellen ein geschichtliches, kulturelles und wissenschaftliches Vermögen dar, das häufig nur schwierig zu entdecken ist.

Gebrauchsspuren, Anmerkungen und andere Randbemerkungen, die im Originalband enthalten sind, finden sich auch in dieser Datei – eine Erinnerung an die lange Reise, die das Buch vom Verleger zu einer Bibliothek und weiter zu Ihnen hinter sich gebracht hat.

Nutzungsrichtlinien

Google ist stolz, mit Bibliotheken in partnerschaftlicher Zusammenarbeit öffentlich zugängliches Material zu digitalisieren und einer breiten Masse zugänglich zu machen. Öffentlich zugängliche Bücher gehören der Öffentlichkeit, und wir sind nur ihre Hüter. Nichtsdestotrotz ist diese Arbeit kostspielig. Um diese Ressource weiterhin zur Verfügung stellen zu können, haben wir Schritte unternommen, um den Missbrauch durch kommerzielle Parteien zu verhindern. Dazu gehören technische Einschränkungen für automatisierte Abfragen.

Wir bitten Sie um Einhaltung folgender Richtlinien:

+ *Nutzung der Dateien zu nichtkommerziellen Zwecken* Wir haben Google Buchsuche für Endanwender konzipiert und möchten, dass Sie diese Dateien nur für persönliche, nichtkommerzielle Zwecke verwenden.

+ *Keine automatisierten Abfragen* Senden Sie keine automatisierten Abfragen irgendwelcher Art an das Google-System. Wenn Sie Recherchen über maschinelle Übersetzung, optische Zeichenerkennung oder andere Bereiche durchführen, in denen der Zugang zu Text in großen Mengen nützlich ist, wenden Sie sich bitte an uns. Wir fördern die Nutzung des öffentlich zugänglichen Materials für diese Zwecke und können Ihnen unter Umständen helfen.

+ *Beibehaltung von Google-Markenelementen* Das "Wasserzeichen" von Google, das Sie in jeder Datei finden, ist wichtig zur Information über dieses Projekt und hilft den Anwendern weiteres Material über Google Buchsuche zu finden. Bitte entfernen Sie das Wasserzeichen nicht.

+ *Bewegen Sie sich innerhalb der Legalität* Unabhängig von Ihrem Verwendungszweck müssen Sie sich Ihrer Verantwortung bewusst sein, sicherzustellen, dass Ihre Nutzung legal ist. Gehen Sie nicht davon aus, dass ein Buch, das nach unserem Dafürhalten für Nutzer in den USA öffentlich zugänglich ist, auch für Nutzer in anderen Ländern öffentlich zugänglich ist. Ob ein Buch noch dem Urheberrecht unterliegt, ist von Land zu Land verschieden. Wir können keine Beratung leisten, ob eine bestimmte Nutzung eines bestimmten Buches gesetzlich zulässig ist. Gehen Sie nicht davon aus, dass das Erscheinen eines Buchs in Google Buchsuche bedeutet, dass es in jeder Form und überall auf der Welt verwendet werden kann. Eine Urheberrechtsverletzung kann schwerwiegende Folgen haben.

Über Google Buchsuche

Das Ziel von Google besteht darin, die weltweiten Informationen zu organisieren und allgemein nutzbar und zugänglich zu machen. Google Buchsuche hilft Lesern dabei, die Bücher dieser Welt zu entdecken, und unterstützt Autoren und Verleger dabei, neue Zielgruppen zu erreichen. Den gesamten Buchtext können Sie im Internet unter `http://books.google.com` durchsuchen.

NYPL RESEARCH LIBRARIES
3 3433 06909683 6



Geometry
(I.C)

Geometrische Aufgaben

nach

der Methode der Griechen

bearbeitet

von

Dr. W. A. Diesterweg

ord. Professor der Mathematik auf der königl. preuſs. Rheinuniversität.

Mit XIV. Kupfertafeln.

Berlin
bey Georg Reimer
1825.

THE NEW YORK
PUBLIC LIBRARY

ASTOR, LENOX AND
TILDEN FOUNDATIONS

Den Herren Professoren

M. BLAND
in Cambridge,

IO. WILH. CAMERER
in Stuttgart,

KARL FR. HAUBER
in Maulbronn,

IOHN LESLIE
in Edinburg,

den gründlichen Kennern

der Geometrie der Griechen,

mit ausgezeichneter Hochachtung

gewidmet

von dem Verfasser.

Vorrede.

Da die geometrische Analysis nichts anderes zum Gegenstande hat, als die Zurückführung der Auflösung einer Aufgabe, oder des Beweises eines Lehrsatzes auf die näheren, oder entfernteren Bedingungen, von welchen die Auflösung, oder der Beweis abhangt, so leuchtet die Wichtigkeit des Studiums derselben für den jungen Mathematiker von selbst in die Augen. Eine vieljährige Erfahrung hat auch den Unterzeichneten gelehrt, dafs gerade diejenigen unter den Studierenden, welche das grössere Talent für das mathematische Studium besitzen, das grössere Interesse für das Studium der geome-

Sammlung

Geometrischer Aufgaben.

Aufgabe 1. (*Fig.* 1.)

Ein Dreieck zu beschreiben, in welchem die Grundlinie der gegebenen geraden Linie g, der Winkel der Spitze dem gegebenen Winkel α, und die Schenkelsumme der gegebenen geraden Linie S gleich sey.

Analysis.

Es sey $\triangle ABC$ das verlangte, so liegt, wegen der gegebenen Grundlinie BC und des gegebenen Winkels BAC, der Punkt A auf dem Umfange eines der Gröfse und, wenn BC als der Lage nach gegeben angesehen wird, der Lage nach gegebenen Kreisabschnittes (s. des Apollonius von Perga ebene Oerter, wiederhergestellt von Rob. Simson, übersetzt von Camerer, Leipz. 1796. pag. 33.). Macht man EA=AC und zieht die gerade Linie EC, so ist $BEC=\frac{1}{2}BAC=\frac{1}{2}\alpha$, also liegt gleichfals der Punkt E auf dem Umfange eines der Lage und Gröfse nach gegebenen Kreisabschnittes (s. Apollonius l. c.). Da überdiefs $BE=\left\{\begin{matrix} BA+\left\{\begin{matrix} AE \\ AC \end{matrix}\right. \\ S \end{matrix}\right.$ so liegt der Punkt E auch auf dem Umfange eines anderen, der Gröfse und Lage nach gegebenen Kreises (Apollonius ebene Oerter pag. 33.), folglich ist der Punkt E, mithin die Lage der geraden Linie BE (Eu-

klids Data, verb. von R. Simson, übers. von Schwab, Stuttgart 1780. Satz 29.), somit der Punkt A (Dat. 28.) und das ganze Dreieck ABC (Dat. 29.) gegeben.

Construction.

Man beschreibe über BC=g einen des Winkels α fähigen Kreisabschnitt BOC, mache BD=DC, BDO=R, ziehe die gerade Linie BO, und beschreibe aus O als Mittelpunkt mit einem Radius =BO einen Kreis. Auch werde aus B als Mittelpunkt mit einem Radius =S ein Kreis beschrieben, welcher den zuletzt beschriebenen in E erreiche. Zieht man die den zuerst beschriebenen Kreis in A schneidende gerade Linie BE, und verbindet die Punkte B, C mit A durch die geraden Linien BA, AC, so ist △BAC das verlangte.

Determination.

Vermöge El. I. 20. muſs $S > g$ seyn.

Damit der dritte Kreis den zweiten Kreis erreiche, muſs seyn $S \leqq BR$ (Euklids Elemente III. 15.), wenn BR ein Durchmesser des zweiten Kreises ist.

Nun ist $\left.\begin{matrix} CB \\ g \end{matrix}\right\} : BR = \sin.\frac{1}{2}\alpha : 1$ (Diesterwegs Lehrbuch der Trigonometrie. Bonn 1824. Lehrsatz 11.)

also muſs seyn $g : S \geqq \sin.\frac{1}{2}\alpha : 1$ (El. V. 8.)

Beweis.

Es ist $g : S \gtreqless \left\{\begin{matrix} \sin.\frac{1}{2}\alpha : 1 \\ CB : BR \end{matrix}\right.$

also $S \leqq BR$ (El. V. 10.).

Da auch $S > BC$ seyn muſs, so berührt (Fig. 1. a.), oder schneidet (Fig. 1. b.) der dritte Kreis den Bogen

BEC in einem Punkte E. Auch ist, wenn die gerade Linie EC gezogen wird, $BAC = \left\{\begin{matrix} E \\ \frac{1}{2}BAC \end{matrix}\right\} + ACE$ (El. III. 20.)

also $\frac{1}{2}BAC = ACE$

folglich $EA = AC$

mithin $BA + AC = \left\{\begin{matrix} BA + AE \\ BE \\ S \end{matrix}\right.$

Da auch $BAC = \alpha$ (Constr.), so ist $\triangle ABC$ das verlangte.

Zusatz 1.

Der Punkt A (Fig. 1. a.) bestimmt eine gröfsere Schenkelsumme, als jeder andere Punkt des Bogens BAC, und jeder demselben näher liegende eine gröfsere, als der entferntere.

Zusatz 2.

Im Fall des Schneidens giebt es zwey Dreiecke mit der gegebenen Eigenschaft, wie von selbst erhellet.

Anmerkung.

In ganz ähnlicher Art läfst sich die Aufgabe auflösen, wenn statt der Schenkelsumme die Schenkeldifferenz gegeben ist.

Aufgabe 2.

Ein Dreieck zu beschreiben, in welchem die Grundlinie und Höhe gegebenen geraden Linien, der Winkel der Spitze einem gegebenen Winkel gleich seyn.

Analysis.

Wenn die Grundlinie als der Lage nach gegeben angenommen wird, so liegt wegen der der Gröfse nach

gegebenen Grundlinie und des gegebenen Winkels der Spitze die Spitze auf einem der Gröfse und Lage nach gegebenen Kreisumfange (Apollonius ebene Oerter p. 33.). Wegen der gegebenen Höhe liegt dieselbe auf einer der Lage nach gegebenen geraden Linie (Apollonius ebene Oerter p. 35.). Sie ist also gegeben (Dat. 28.), somit das ganze Dreieck gegeben.

Constr. Det. Bew.

ergeben sich aus dem Gesagten von selbst.

Anmerkung.

Ist statt der Höhe die Gröfse der von der Spitze zu dem Halbirungspunkte der Grundlinie gezogenen geraden Linie gegeben, so wird die Aufgabe eben so leicht aufgelöset, als die vorhergehende.

Aufgabe 3. (*Fig.* 2.)

Ein Dreieck zu beschreiben, in welchem die Grundlinie der gegebenen geraden Linie g, der Winkel der Spitze dem gegebenen Winkel α, das Rechteck der Schenkel dem Quadrate der gegebenen geraden Linie β gleich sey.

Analysis.

Es sey $\triangle ACB$ das verlangte, so liegt, wenn AB als der Lage nach gegeben angenommen wird, der Punkt C wegen der der Gröfse nach gegebenen Grundlinie AB und des gegebenen Winkels ACB, auf einem der Gröfse und Lage nach gegebenen Kreisumfange (Apollonius ebene Oerter pag. 33.). Wenn O der Mittelpunkt und CR der Diameter dieses Kreises ist, auch die gerade Linie BR gezogen wird, so ist, wenn $CKA = R$,

$\triangle ACK \sim \triangle BCR$ (El. VI. 4.)

also $AC : CK = RC : CB$

folglich $RC \cdot CK = \left\{ \begin{matrix} AC \cdot CB \\ \beta^2 \end{matrix} \right.$ $\begin{matrix} \text{(El. VI. 16.)} \\ \text{(p. hyp.)} \end{matrix}$

mithin $RC : \beta = \beta : CK$ (El. VI. 17.)

demnach ist CK (Dat. 2.) der Gröfse nach gegeben, also liegt C auf einer der Lage nach gegebenen geraden Linie (Apoll. ebene Oerter p. 35.), folglich ist (Dat. 28.) der Punkt C, somit $\triangle ABC$ gegeben.

Construction.

Man beschreibe über der geraden Linie AB, welche $= g$ gemacht wird, einen des Winkels α fähigen Kreisabschnitt, verbinde den Punkt A mit dem Mittelpunkte O durch die gerade Linie AO, mache $BAG = BAE = R$, $EA = AO$, $DA = \frac{1}{2}\beta$, $FA = \beta$, $AFG = AED$, $GC \# AB$, und verbinde den Durchschnitt dieser Linie und des Kreises mit den Punkten A, B durch die geraden Linien AC, CB, so ist $\triangle ABC$ das verlangte.

Determination.

Damit GC den Kreis erreiche, mufs $AG \overset{=}{<} LH$ seyn, wenn $AL = LB$, $ALH = R$, und H der Durchschnitt der Linie LH mit dem Umfange des Kreises ist.

Es ist $\left\{ \begin{matrix} LA \\ \frac{1}{2}g \end{matrix} \right\} : AO \left\} \begin{matrix} \\ g : 2AO \end{matrix} \right\} = \sin.\alpha : 1$ (El. III. 20.)

Ferner ist $EA : \left\{ \begin{matrix} AD \\ \frac{1}{2}\beta \end{matrix} \right\} = \left\{ \begin{matrix} FA \\ \beta \end{matrix} \right\} : AG$ (El. VI. 4.)

$\left. \begin{matrix} 2EA \\ 2AO \end{matrix} \right\} : \beta$

also ist $g : \beta = \beta . \sin.\alpha : AG$

Endlich ist $AL, \frac{1}{2}g\} : LH = 1 : \cot.\frac{1}{2}\alpha$ (Diesterwegs Trigon. Lehrs. 11 Zus. 2.)

folglich $LH = \frac{1}{2}g \cdot \cot.\frac{1}{2}\alpha$

mithin mufs seyn

$$g : \beta \gtrless \left\{ \begin{array}{l} \beta \sin.\alpha \\ 2\beta \sin.\frac{1}{2}\alpha \cdot \cos.\frac{1}{2}\alpha \\ 4\beta \overline{\sin.\frac{1}{2}\alpha^2} \end{array} \right\} : \frac{1}{2}g \cdot \cot.\frac{1}{2}\alpha$$

(Diesterwegs Trigonom. pag. 13.)

$$: g$$

somit $g^2 \gtrless 4\beta^2 \overline{\sin.\frac{1}{2}\alpha^2}$ (Propositionum de rationibus inter se diversis demonstrationes ed. Hauber, Tub. 1793. §. 53.)

also $g \gtrless 2\beta \sin.\frac{1}{2}\alpha$,

Beweis.

Es ist $g \gtrless 2\beta \sin.\frac{1}{2}\alpha$ (Det.)

also $g^2 \gtrless 4\beta^2 \overline{\sin.\frac{1}{2}\alpha^2}$

folglich $g : \beta \left\{ \gtrless \left\{ \begin{array}{l} 4\beta \overline{\sin.\frac{1}{2}\alpha^2} : g \text{ (Hauber §. 53.)} \\ \beta \sin.\alpha : \frac{1}{2}g \cdot \cot.\frac{1}{2}\alpha \end{array} \right.$

$\beta \sin.\alpha : AG \left\{ \right.$ LH, wie aus der Det. erhellet,

mithin ist $AG \lessgtr LH$ (El. V. 10.)

demnach berührt (Fig. 2. a.), oder schneidet (Fig. 2. b.) die Linie GC den Kreis. Auch ist

$AC \cdot CB = 2AO \cdot CK$, wenn $CKA = R$ (El. VI. 4. 14.)

$$= \left\{ \begin{array}{l} 2EA \cdot AG \\ 2DA \cdot AF \end{array} \right\} \text{(Constr.)}$$

$$= \beta^2 \text{ (El. VI. 17.).}$$

Da auch $ACB = \alpha$, $AB = g$, so ist $\triangle ABC$ das verlangte.

Zusatz 1.

Es erhellet von selbst, dafs es im Fall eines Durchschnittes (Fig. 2. b.) zwey Dreiecke mit der gegebenen Eigenschaft giebt.

Zusatz 2.

Da $g \gtreqless 2\beta \sin.\frac{1}{2}\alpha$ seyn mufs (Det.)

also $\beta : g \lesseqgtr 1 ; 2\sin.\frac{1}{2}\alpha$ (Hauber §. 52.)

folglich $\beta ; \frac{1}{2}g \lesseqgtr \begin{cases} 1 : \sin.\frac{1}{2}\alpha \\ HA : AL \end{cases}$

so mufs $\beta \lesseqgtr AH$ seyn.

Zusatz 3.

Da (Fig. 2. b.) $AH.HB = \begin{cases} 2OA.AL, \text{ wenn die gerade Linie HB gezogen wird (El. VI. 4. 14.)} \\ 2OA.AQ, \text{ wenn } HQ \# AG, \end{cases}$

so ist $AH.HB > \begin{cases} 2OA.AG \\ AC.CB \end{cases}$

also bestimmt der Punkt H ein gröfseres Rechteck, als jeder andere Punkt des Bogens AHB, und jeder demselben näher liegende ein gröfseres, als der entferntere.

Zusatz 4.

Wenn auch $g \gtreqless 2\beta \cos.\frac{1}{2}\alpha$

also $\beta : g \lesseqgtr 1 : 2\cos.\frac{1}{2}\alpha$ (Hauber §. 52.)

folglich $\beta : \frac{1}{2}g \gtreqless \begin{cases} 1 : \begin{cases} \cos.\frac{1}{2}\alpha \\ \sin.AH^1L, \end{cases} & \text{wenn (Fig. 2. b.) HL bis zu d. Durchschnitte } H^1 \text{ mit dem Kreise verlängert wird.} \\ H^1A : AL, & \text{wenn die gerade Linie } AH^1 \text{ gezogen wird.} \end{cases}$

mithin $\beta \gtreqless H^1A$ (El. V. 10.)

somit $\beta^2 \gtreqless \begin{cases} H^1A^2 \\ AH^1 . H^1B, & \text{wenn man die gerade Linie } H^1B \text{ zieht (El. 1. 4.),} \\ 2AO . H^1L, & \text{wenn } G^1A = AG \text{ gemacht wird,} \end{cases}$

$2OA . AG$

$2OA . AG^1$

demnach $AG^1 \gtreqless LH^1$

also berührt, oder schneidet auch die gerade Linie G^1C, welche $\#AB$ gezogen wird, den Kreisumfang, und bestimmt ein Dreieck AH^1B, oder zwey Dreiecke AC^1B auf der gegebenen Grundlinie mit einem Winkel an der Spitze, welcher den Winkel α zu 2R ergänzt, und einem Rechtecke der Schenkel AC, CB, welches $= 2AO.CK = \begin{cases} 2OA.AG^1 \\ \beta^2. \end{cases}$

Aufgabe 4.

Ein Dreieck zu beschreiben, in welchem die Grundlinie der gegebenen geraden Linie g, der Winkel der Spitze dem gegebenen Winkel α und das Schenkelverhältnifs dem Verhältnifse der gegebenen geraden Linien $p : q$ gleich sey.

Analysis.

Es sey $\triangle BAC$ das verlangte, so ist dasselbe wegen des gegebenen Winkels der Spitze und des gegebenen Verhältnisses der Seiten der Art nach (Dat. 44.), wegen der gegebenen Grundlinie auch der Gröfse nach (Dat. 56.); mithin sind die Seiten desselben (Dat. 60.), somit ist das Dreieck gegeben.

Construction.

Man beschreibe über der geraden Linie $BC=g$ einen des gegebenen Winkels α fähigen Kreisabschnitt BAC, mache $BCD=\alpha$, $CP=p$, $CQ=q$, $BD \nparallel PQ$, und ziehe den Durchschnitt A der Linie BD mit dem Kreisbogen durch die gerade Linie AC mit dem Punkte C zusammen, so ist $\triangle ABC$ das verlangte.

Beweis.

Es ist $\triangle BAC \sim \triangle BCD$ (El. VI. 4.)

also $BA:AC=BC:CD$

$=PC:CQ$

$= p:q$

Da auch $BC=g$, $BAC=\alpha$, so hat $\triangle$ BAC die gegebenen Eigenschaften.

Aufgabe 5. (*Fig.* 4.)

Ein Dreieck zu beschreiben, in welchem die Grundlinie der gegebenen geraden Linie g, der Winkel der Spitze dem gegebenen spitzen Winkel α, und die Summe der Quadrate der Schenkel dem Doppelten des Quadrates der gegebenen geraden Linie β gleich sey.

Analysis. (Fig. 4. b.)

Es sey $\triangle ABC$ das verlangte, so ist, wenn $AEB=R$, $BA^2=AE^2+EB^2$, $AC^2=AE^2+EC^2$ (El. I. 47.).

also $\left.\begin{matrix} BA^2+AC^2 \\ 2\beta^2 \end{matrix}\right\} = 2AE^2+\left\{\begin{matrix} BE^2+EC^2 \\ 2BD^2+2DE^2 \end{matrix}\right\}$ (El. II. 9.)

$=2BD^2+2DA^2$

folglich $\beta^2=\left\{\begin{matrix} BD^2 \\ \frac{1}{4}g^2 \end{matrix}\right\}+DA^2$

mithin $\beta^2-\frac{1}{4}g^2=DA^2$

demnach ist DA^2, somit auch DA gegeben; also liegt der Punkt A auf dem Umfange eines der Gröfse, und wenn BC auch als der Lage nach gegeben angesehen wird, auch der Lage nach gegebenen Kreises (Dat. 30.). Da er auch wegen des gegebenen Winkels BAC und der der Gröfse nach gegebenen Linie BC auf dem Umfange eines der Gröfse, und in so fern BC auch der Lage nach gegeben ist, auch der Lage nach gegebenen Kreisabschnittes liegt (Apollonius ebene Oerter p. 33.), so ist derselbe, und mit ihm das Dreieck gegeben.

Construction.

Man mache $BC=g$, $BD=DC$, $BDO=R$, beschreibe aus B als Mittelpunkt mit einem Radius $=\beta$ einen Kreis, welcher der Linie DO in O begegne, beschreibe aus D als Mittelpunkt mit einem Radius $=DO$ einen Kreis, welcher den Kreisbogen BAC in A erreiche, und ziehe die geraden Linien BA, AC, so ist $\triangle ABC$ das verlangte.

Determination.

Da vermöge El. II. 13. die Summe der Quadrate der Schenkel, welche einen spitzen Winkel einschliefsen,

> als das Quadrat der gegenüber liegenden Seite, so muſs seyn, $2\beta^2 > g^2$. Damit der aus D als Mittelpunkt mit einem Radius $=BO$ beschriebene Kreis den über BC liegenden Kreisbogen erreiche, muſs seyn

$$OD \leqq DM$$

also $OD^2 \leqq DM^2$

$\beta^2 - \frac{1}{4}g^2 \leqq \frac{1}{4}g^2 \cot.\frac{1}{2}\alpha^2$, weil $BD : DM = 1 : \cot.\frac{1}{2}\alpha$

also $DM = \frac{1}{2}g.\cot.\frac{1}{2}\alpha$

folglich $\beta^2 \leqq \frac{1}{4}g^2 \operatorname{cosec}.\frac{1}{2}\alpha^2$

mithin $\beta \leqq \frac{1}{2}g \operatorname{cosec}.\frac{1}{2}\alpha$.

Beweis.

Es ist $2\beta^2 > g^2$ (Det.)

also $\beta^2 > \frac{1}{2}g^2$

folglich $\beta^2 > \frac{1}{4}g^2$, BD^2

mithin $\beta > BD$

demnach schneidet der aus B als Mittelpunkt mit einem Radius $=\beta$ beschriebene Kreis die Linie DO.

Ferner ist $\beta^2 - \frac{1}{4}g^2 > \frac{1}{4}g^2$, OD^2, DC^2

also $OD > DC$

Auch ist $\beta \leqq \frac{1}{2}g.\operatorname{cosec}.\frac{1}{2}\alpha$

also $\beta^2 \leqq \frac{1}{4}g^2.\operatorname{cosec}.\frac{1}{2}\alpha^2$

folglich $\left.\begin{matrix}\beta^2-\frac{1}{4}g^2\\ OD^2\end{matrix}\right\}\begin{matrix}=\\<\end{matrix}\left\{\begin{matrix}\frac{1}{4}g^2\,.\,\overline{\cot.\frac{1}{2}\alpha}^2\\ DM^2\end{matrix}\right.$

mithin $OD\begin{matrix}=\\<\end{matrix}DM$

demnach berührt (Fig. 4. a), oder schneidet (Fig. 4. b.) der aus D als Mittelpunkt mit einem Radius $=DO$ beschriebene Kreis den Kreisbogen BAC.

Ueberdiefs ist $BA^2+AC^2=\left\{\begin{matrix}\left\{\begin{matrix}BE^2+EC^2\\ 2BD^2+2DE^2\end{matrix}\right\}+2EA^2\\ 2BD^2+\left\{\begin{matrix}2DA^2\\ 2DO^2\end{matrix}\right.\\ 2BO^2\\ 2\beta^2\end{matrix}\right.$

Da auch $BAC=\alpha$, $BC=g$, so ist $\triangle ABC$ das verlangte.

Zusatz 1.

Es erhellet von selbst, dafs es im Fall eines Durchschnittes zwey Dreiecke mit der gegebenen Eigenschaft giebt.

Zusatz 2.

Da (Fig. 4. b.) $BM^2+MC^2=2BD^2+2DM^2$

$BA^2+AC^2=2BD^2+\left\{\begin{matrix}2DA^2\\ 2DO\end{matrix}\right.$

und $DM>DO$

also $2BD^2+2DM^2>2BD^2+2DO^2$

so ist auch $BM^2+MC^2>BA^2+AC^2$

folglich bestimmt der Punkt M eine gröfsere Summe der Quadrate der Schenkel, als jeder andere Punkt des Bogens BAC. Auch bestimmt jeder demselben näher liegende eine gröfsere Summe der Quadrate, als der entferntere.

Anmerkung.

Wenn der Winkel α nicht $< R$, so wird die Aufgabe in ganz ähnlicher Weise behandelt.

Aufgabe 6. (*Fig.* 5.)

Ein Dreieck zu beschreiben, in welchem die Grundlinie der gegebenen geraden Linie g, der Winkel der Spitze dem gegebenen Winkel α, und der Unterschied der Quadrate der Schenkel dem Quadrate der gegebenen geraden Linie β gleich sey.

Analysis.

Es sey ACB das verlangte Dreieck, so ist, wenn $ADC = R$,

$$CA^2 - AD^2 = DC^2$$
$$= CB^2 - BD^2$$

also $AC^2 - CB^2 = AD^2 - DB^2$
$\beta^2 = (AD+DB)(AD-DB)$

folglich $AD+DB : \beta = \beta : AD-DB$ (El. VI. 17.)

Da $AD+DB = g$, oder $AD-DB = g$, je nachdem $g \gtrless \beta$, so ist $g : \beta = \beta : AD \mp DB$, mithin ist AD der Gröfse (Dat. 2.), und wenn AB als der Lage nach gegeben angenommen wird, auch der Lage nach, somit der Punkt D, demnach die gerade Linie DC der Lage nach (Dat. 32.) gegeben. Da auch der Punkt C wegen der der Lage und Gröfse nach gegebenen AB und des gegebenen Winkels α auf dem Umfange eines der Gröfse und Lage nach gegebenen Kreisabschnittes liegt (Apollonius ebene Oerter pag. 33.), so ist der Punkt C (Dat. 28.), somit das Dreieck ABC gegeben.

Constr. Det. Bew.

ergeben sich aus dem Gesagten von selbst.

Aufgabe 7. (*Fig.* 6.)

Ein Dreieck zu beschreiben, in welchem die Grundlinie der gegebenen geraden Linie g, der Winkel der Spitze dem gegebenen Winkel α, und die Summe der Schenkelsumme und der Höhe der gegebenen geraden Linie S gleich sey.

Analysis.

Es sey $\triangle QMB$ das verlangte, so ist wegen des gegebenen Winkels BQM das Verhältniss

$$(BQ+QM)^2-BM^2 : \triangle BQM$$

(Dat. 76.) gegeben,

das ist $x^2-g^2 : g\frac{S-x}{2}$

wenn BQ+QM mit x bezeichnet wird.

---

also ist x^2-g^2 : $g(S-x)$ gegeben,

$(x+g)(x-g)$

$Bx.xC$ $\quad g.Ax$

wenn BM=MC gemacht und MA=S, Mx=x gesetzt wird,

folglich ist, vermöge Apollonius von Perga de sect. determinata, frey bearbeitet von Diesterweg, Bonn 1822. Buch I. Aufgabe 3. Fall 1., der Punkt x, mithin die Linie Mx gegeben, demnach die Aufgabe auf Aufg. 1. reducirt.

Construction.

Man nehme BM=MC=KB=g, MA=S, MBR=α, TBM=$\frac{1}{2}$MBR, BL nach Belieben, LG$\#$TB, LBG=R=LBH, HB=2BL, HE$\#$KG, durch C und den Durchschnitt E der Linien HE, AC auf verschiedenen Seiten von AE, ACF=R=AED, DE=EB, FC=CA, beschreibe über der geraden Linie DF als Durchmesser

einen Kreis, welcher die Linie CA in x schneide, beschreibe über BM einen Kreisabschnitt, welcher des Winkels α fähig ist, mache auf der Seite von AM, auf welcher dieser Abschnitt liegt, BAP=R, PA=Ax, PQ∥AB, und ziehe von B, M gerade Linien zu dem Punkte Q, in welchem PQ mit dem Kreisbogen über BM zusammentrifft, so ist △BMQ das verlangte.

Determination.

Damit PQ dem Umfange des auf BM beschriebenen Abschnittes begegne, muſs, wenn BU=UM, BUW=R, und W auf dem Umfange des Abschnittes liegt, seyn

$$\left.\begin{matrix} PA \\ Ax \end{matrix}\right\} = < UW$$

Es ist $\left.\begin{matrix} KB \\ g \end{matrix}\right\} : BE = GB : \left\{\begin{matrix} BH \\ 2BL \end{matrix}\right.$

$$= \tan.\tfrac{1}{2}\alpha : 2$$

also $BE = \frac{2g}{\tan.\frac{1}{2}\alpha}$

somit $MV = \frac{g}{\tan.\frac{1}{2}\alpha}$, wenn CV=VE;

und $ME = \frac{2g}{\tan.\frac{1}{2}\alpha} - g$

$$= \frac{2g - g\tan.\frac{1}{2}\alpha}{2}$$

folglich $EV = \frac{2g - g\tan.\frac{1}{2}\alpha - g}{\tan.\frac{1}{2}\alpha}$

$$= \frac{g(1 - \tan.\frac{1}{2}\alpha)}{\tan.\frac{1}{2}\alpha}$$

mithin $EV^2 = \frac{g^2(1 - \tan.\frac{1}{2}\alpha)^2}{\tan.\frac{1}{2}\alpha^2}$

demnach $\left.\begin{matrix} DE : FC \\ AC . BE \\ \frac{(S+g)2g}{\tan.\frac{1}{2}\alpha} \end{matrix}\right\} = XV^2 = \frac{g^2(1-\tan.\frac{1}{2}\alpha)^2}{\tan.\frac{1}{2}\alpha^2}$

also

$$\left.\begin{matrix} \frac{2gS\tan.\frac{1}{2}\alpha + 2g^2\tan.\frac{1}{2}\alpha + g^2 - 2g^2\tan.\frac{1}{2}\alpha + g^2\tan.\frac{1}{2}\alpha^2}{\tan.\frac{1}{2}\alpha^2} \\ \frac{g^2\sec.\frac{1}{2}\alpha^2 + 2gS\tan.\frac{1}{2}\alpha}{\tan.\frac{1}{2}\alpha^2} \end{matrix}\right\} = XV^2$$

folglich $\frac{\sqrt{g^2\sec.\frac{1}{2}\alpha^2 + 2gS\tan.\frac{1}{2}\alpha}}{\tan.\frac{1}{2}\alpha} = XV$

mithin $MX = \frac{\sqrt{g^2\sec.\frac{1}{2}\alpha^2 + 2gS\tan.\frac{1}{2}\alpha} - g}{\tan.\frac{1}{2}\alpha}$

demnach $AX = \frac{S\tan.\frac{1}{2}\alpha + g - \sqrt{g^2\sec.\frac{1}{2}\alpha^2 + 2gS\tan.\frac{1}{2}\alpha}}{\tan.\frac{1}{2}\alpha}$

Ferner ist $\left.\begin{matrix} BU \\ \frac{1}{2}g \end{matrix}\right\} : UW = 1 : \cot.\frac{1}{2}\alpha$

also $UW = \frac{1}{2}g.\cot.\frac{1}{2}\alpha$

folglich mufs seyn

$$\frac{S\tan.\frac{1}{2}\alpha + g - \sqrt{g^2\sec.\frac{1}{2}\alpha^2 + 2gS.\tan.\frac{1}{2}\alpha}}{\tan.\frac{1}{2}\alpha} < \frac{1}{2}g\cot.\frac{1}{2}\alpha$$

mithin $S\tan.\frac{1}{2}\alpha + \frac{1}{2}g < \sqrt{g^2\sec.\frac{1}{2}\alpha^2 + 2gS\tan.\frac{1}{2}\alpha}$

somit $S^2\tan.\frac{1}{2}\alpha^2 + gS\tan.\frac{1}{2}\alpha + \frac{1}{4}g^2 < g^2\sec.\frac{1}{2}\alpha^2 + 2gS\tan.\frac{1}{2}\alpha$

demnach $S^2\tan.\frac{1}{2}\alpha^2 - gS\tan.\frac{1}{2}\alpha + \frac{1}{4}g^2 < g^2\sec.\frac{1}{2}\alpha^2$

somit $S \tan.\frac{1}{2}\alpha - \frac{1}{2}g \lessdot g \sec.\frac{1}{2}\alpha$

also $S \sin.\frac{1}{2}\alpha - \frac{1}{2}g \cos.\frac{1}{2}\alpha \lessdot g$

folglich $S \lessdot$
$$\begin{cases} \frac{g(1+\frac{1}{2}\cos.\frac{1}{2}\alpha)}{\sin.\frac{1}{2}a} \\ g\left(\frac{1}{\sin\frac{1}{2}\alpha}+\frac{\cos.\frac{1}{2}\alpha}{2\sin.\frac{1}{2}\alpha}\right) \\ g(\operatorname{cosec}.\frac{1}{2}\alpha+\frac{1}{2}\cot.\frac{1}{2}\alpha) \\ g\,(\operatorname{cosec}\frac{1}{2}\alpha+\cot.\frac{1}{4}\alpha-\frac{1}{2}\cot.\frac{1}{2}\alpha) \\ g(\cot.\frac{1}{4}\alpha-\frac{1}{2}\cot.\frac{1}{2}\alpha) \end{cases}$$
(Diesterwegs trigonometrische Formeln. Bonn 1822. §. 5.)

Beweis.

Es ist $S \lessdot g(\cot.\frac{1}{4}\alpha - \frac{1}{2}\cot.\frac{1}{2}\alpha)$ (Det.)

also $PA \lessdot UW$, wie aus der Determ. erhellet, folglich berührt, oder schneidet die Linie PQ den Kreis.

Verm. Apoll. de Sect. det. Buch I. Aufg. 3. Fall 1.

Bew. ist $g.Ax : \left\{\begin{matrix} Bx.xC \\ xM^2-MB^2 \end{matrix}\right\} = GB : \left\{\begin{matrix} BH \\ 2BL \end{matrix}\right.$

$= QN : 2NO$, wenn $OQ = QM$, $BNQ = R$;

folglich

$$xM^2-MB^2 : \left\{\begin{matrix} g.Ax \\ g.AP \end{matrix}\right\} = 2NO : QN = (MQ+QB)^2-MB^2 : \begin{cases} \triangle MQB \\ MB.QZ \end{cases}$$
(Dat. 76.)
wenn $QZB = R$;

mithin $xM^2-MB^2 = (MQ+QB)^2-MB^2$

somit $xM^2 = (MQ+QB)^2$

demnach $xM = MQ+QB$

Construction.

Man mache $GKH=\alpha$, $GK=KH$, ziehe die gerade Linie GH, nehme $KAG=R$, $FA=g=AD=DB$, $DC=S$, $LA=2AH$, $LE\#KF$, richte auf einerley Seite von AB in E, B die Perpendikel NE, OB auf AB auf, mache $NE=EA$, $OB=BC$, ziehe die gerade Linie NO, beschreibe über derselben einen die Linie DC in x erreichenden Halbkreis, und über AF einen des Winkels α fähigen Kreisabschnitt, mache auf derselben Seite von AC, auf welcher dieser Abschnitt liegt, $AxP=R$, $Px=xC$, $PM\#AB$, und verbinde mit den Punkten A, F den Durchschnitt M der Linie PM mit dem Umfange jenes Abschnittes, so ist $\triangle AFM$ das verlangte.

Determination.

Damit der Halbkreis über NO die Linie EB erreiche, mufs verm. Apoll. de sect. det. Buch I. Aufg. 3. Fall 3.

$$\text{seyn}\quad KA:\begin{Bmatrix}AL\\2AH\end{Bmatrix}\gtrless g:\begin{Bmatrix}AC+CB-2\sqrt{AC.CB}\\ g+S+S-g-2\sqrt{(g+S)(S-g)}\\ 2S-2\sqrt{S^2-g^2}\end{Bmatrix}$$

$$1:2\tan.\tfrac{1}{2}\alpha$$

$$\text{also}\quad 1:\tan.\tfrac{1}{2}\alpha\gtrless g:S-\sqrt{S^2-g^2}.$$

Damit die Linie PM den über AF beschriebenen Abschnitt erreiche, mufs, wenn $AR=RF$, $ARU=R$, gemacht, auch RU bis zum Durchschnitt U mit dem Umfange des Abschnittes verlängert wird, seyn $\begin{matrix}Px\\xC\end{matrix}\Big\}\leqq RU$.

Es ist $\left.\begin{matrix}FR\\ \frac{1}{2}g\end{matrix}\right\}: RU = 1 : \cot.\frac{1}{2}\alpha$

also $RU = \frac{1}{2}g\cot.\frac{1}{2}\alpha$.

Auch ist $\left.\begin{matrix}FA\\ g\end{matrix}\right\} : AE = KA : \left\{\begin{matrix}AL\\ 2AH\end{matrix}\right.$
$= 1 : 2\tan.\frac{1}{2}\alpha$

folglich $AE = 2g\tan.\frac{1}{2}\alpha$

mithin $BA - AE = \left\{\begin{matrix}2g - 2g\tan.\frac{1}{2}\alpha\\ 2g(1 - \tan.\frac{1}{2}\alpha)\end{matrix}\right.$

somit $\left.\begin{matrix}\frac{BA-AE}{2}\\ VE\end{matrix}\right\} = g(1 - \tan.\frac{1}{2}\alpha)$

demnach $VE^2 = g^2(1 - \tan.\frac{1}{2}\alpha)^2$

Es ist aber $\left.\begin{matrix}Cx \,.\, xE\\ EV^2 - Vx^2\end{matrix}\right\} = \left\{\begin{matrix}BO \,.\, EN\\ BC \,.\, EA\end{matrix}\right.$ (s. Apollonius von Perga de sectione rationis, frey bearbeitet von Diesterweg, Berlin 1824. p. 1.)

(El. II. 5.)

also $\left.\begin{matrix}g^2(1 - \tan.\frac{1}{2}\alpha)^2 - (S - g)2g\tan.\frac{1}{2}\alpha\\ g^2 - 2g^2\tan.\frac{1}{2}\alpha + g^2\tan.\frac{1}{2}\alpha^2 - 2Sg\tan.\frac{1}{2}\alpha + 2g^2\tan.\frac{1}{2}\alpha\\ g^2\sec.\frac{1}{2}\alpha^2 - 2gS\tan.\frac{1}{2}\alpha\end{matrix}\right\} = Vx^2$

folglich

$$Ex(=EV - Vx) = g(1 - \tan.\tfrac{1}{2}\alpha) - \sqrt{g^2\sec.\tfrac{1}{2}\alpha^2 - 2gS\tan.\tfrac{1}{2}\alpha}$$

demnach

$$Cx = (CA - AL - Ex) = S + g - 2g\tan.\tfrac{1}{2}\alpha - g(1 - \tan.\tfrac{1}{2}\alpha) + \sqrt{g^2\sec.\tfrac{1}{2}\alpha^2 - 2gS\tan.\tfrac{1}{2}\alpha}$$

$$= S - g\tan.\tfrac{1}{2}\alpha + \sqrt{g^2\sec.\tfrac{1}{2}\alpha^2 - 2gS\tan.\tfrac{1}{2}\alpha}$$

mithin muſs seyn

$$\tfrac{1}{2}g\cot.\tfrac{1}{2}\alpha \gtreqless S - g\tan.\tfrac{1}{2}\alpha + \sqrt{g^2\sec.\tfrac{1}{2}\alpha^2 - 2gS\tan.\tfrac{1}{2}\alpha}$$

somit

$$g(\cot.\tfrac{1}{2}\alpha+2\tan.\tfrac{1}{2}\alpha)-2S \overset{=}{>} 2\sqrt{g^2\overline{\sec.\tfrac{1}{2}\alpha}^2-2gS\tan.\tfrac{1}{2}\alpha}$$

demnach

$$(g(\cot.\tfrac{1}{2}\alpha+2\tan.\tfrac{1}{2}\alpha)-2S)^2 \overset{=}{>} 4(g^2\overline{\sec.\tfrac{1}{2}\alpha}^2-2gS\tan.\tfrac{1}{2}\alpha)$$

also $g^2((\cot.\tfrac{1}{2}\alpha+2\tan.\tfrac{1}{2}\alpha)^2-4\overline{\sec.\tfrac{1}{2}\alpha}^2)$

$$g^2\overline{\cot.\tfrac{1}{2}\alpha}^2$$

$$-\left\{\begin{matrix}4gS(\cot\tfrac{1}{2}\alpha+2\tan.\tfrac{1}{2}\alpha-2\tan.\tfrac{1}{2}\alpha)\\ 4gS.\cot.\tfrac{1}{2}\alpha\end{matrix}\right\}+4S^2 \overset{=}{>} 0$$

folglich $2S-g\cot.\tfrac{1}{2}\alpha \overset{=}{>} 0$

mithin $S \overset{=}{>} \tfrac{1}{2}g\cot.\tfrac{1}{2}\alpha$

somit $\left.\begin{matrix}\cot.\tfrac{1}{2}\alpha:1\\ 1:\tan.\tfrac{1}{2}\alpha\end{matrix}\right\} \overset{=}{<} S:\tfrac{1}{2}g$

Beweis.

Da $1:\tan.\tfrac{1}{2}\alpha \overset{=}{>} g:S-\sqrt{S^2-g^2}$, und $1:\tan.\tfrac{1}{2}\alpha \overset{=}{<} S:\tfrac{1}{2}g$, so erreicht sowohl der Kreis über NO die Linie EB, als die Linie PM den Umfang des über AF beschriebenen Abschnittes.

Vermöge Apoll. de sect. det. Buch I. Aufg. 3. Fall 3. Bew. ist $FA.Cx:Ax.xB=KA:AL$

also $\left.\begin{matrix}Ax.xB\\ \text{(El. II.5.) } AD^2-Dx^2\end{matrix}\right\} : \left\{\begin{matrix}\tfrac{1}{2}AF.Cx\\ \tfrac{1}{2}AF.Px\end{matrix}\right\} \begin{matrix}=4HA:AK\\ =4FW:WM,\end{matrix}$ wenn $ZM=MF$, $FW=WZ$, $MWF=R$,

$=AF^2-(AM-MF)^2 : \left\{\begin{matrix}\triangle AMF, \text{ (Dat. 76. Zus.)}\\ \tfrac{1}{2}AF.MS, \text{ wenn } MSF=R,\end{matrix}\right.$

folglich $AD^2-Dx^2=AF^2-(AM-MF)^2$

mithin $Dx=AM-MF$

somit $\left.\begin{matrix}Dx+xC\\ DC\\ S\end{matrix}\right\}=AM-MF+\left\{\begin{matrix}Px\\ MS\end{matrix}\right.$

Da auch $AF=g$, $AMF=\alpha$, so ist $\triangle AMF$ das verlangte.

Zusatz.

Es erhellet von selbst, dafs es im Fall eines Durchschnittes der Linie PM mit dem Bogen zwey Dreiecke mit der verlangten Eigenschaft giebt, und dafs, im Fall eines Durchschnittes des Kreises über NO mit EC, der zweite Durchschnitt x ein zweites Paar mit der gegebenen Eigenschaft bestimmt.

Anmerkung.

Fermat hat diese Aufgabe behandelt wie folgt.

Analysis. (Fig. 8. b.)

Es sey $\triangle BAC$ das verlangte, so ist, wenn $ADB=B=CMA$ genommen wird,

$BC.AD:BA.AC=\left\{\begin{matrix}BA.CM:BA.AC\\ MC:CA\\ BC:a,\end{matrix}\right.$ wenn a so bestimmt wird, dafs MC:CA=BC:a, wobey a gegeben ist, (Dat. 62. und 2.)

$\left.\begin{matrix}\\ \\ \\ \\ BC.AD:a.AD\end{matrix}\right.$

also $BA.AC$ $=a.AD$

$GA.AC$ } wenn um $\triangle BAC$ ein Kreis beschrieben, $BV=VC$, $BVE=R$ gemacht, aus dem Durchschnitte E der Linie VE mit dem Kreise als Mittelpunkt ein Kreis mit einem Radius $=EB$ beschrieben, und CA bis zu dem Durchschnitte desselben in G verlängert wird;

$HA.AK$ } wenn H, K, die Endpunkte des durch A, E gezogenen Durchmessers sind.

Ferner ist $EAC=EBC$

also $AEF=\begin{cases} BEV \\ \frac{1}{2}BAC \end{cases}$, wenn $AEF=R$,

folglich ist $\triangle AEF$ der Art nach, somit das Verhältnifs $EA:AF$ gegeben. Bestimmt man b so,

dafs $a:\frac{1}{2}b=EA:AF$, so ist b gegeben

und $2a.AF=b.AE$

folglich $HA.AK+b.AE=\begin{cases} a.AD+2a.AF \\ a(AD+2AF) \\ a(AD+CA-AG) \\ a(AD+CA-AC) \\ a.S \end{cases}$ (El. III. 20.)

mithin $b.AE-\left\{\begin{matrix} (EB-HA^2.AK) \\ EA^2 \\ (b-EA)AE \end{matrix}\right\}=aS-EB^2$

demnach ist $(b-EA)EA$, und da $b-EA+EA=b$ gegeben ist, EA (Dat. 86.) der Gröfse, und in so fern BC der Lage nach gegeben ist, der Lage nach, somit das Dreieck BAC der Gröfse und Lage nach gegeben.

Construction.

Auf der gegebenen geraden Linie $BC=g$ beschreibe man einen des Winkels α fähigen Kreisabschnitt, mache

BV=VE, BVE=R, verlängere VE bis zum Durchschnitt mit dem Kreise in E; x, ziehe den Diameter BQO, mache ERO=R, RS=S, beschreibe über OS als Durchmesser einen Halbkreis, welcher einem in B auf BO aufgerichteten Perpendikel in L begegne, ziehe die gerade Linie EB, schneide von der Verlängerung derselben NB=BL ab, ziehe die gerade Linie Bx, beschreibe aus x als Mittelpunkt mit einem Radius =xB einen Kreis, welcher der durch N mit Bx parallel gezogenen geraden Linie NT in T begegne, fälle von T ein Perpendikel Ty auf Bx, nehme in dem auf BC liegenden Kreisabschnitte EA=By, und ziehe die geraden Linien BA, AC, so ist △ABC das verlangte.

Beweis.

Es ist BOx = { BEV (El. III. 21.) / AEF (El. III. 21.), wenn AFE=R,

also OB : Bx = EA : AF (El. VI. 4.)

folglich OB : { 2Bx / BW } = { EA / By } : 2AF wenn Wx=xB;

mithin, 2AF . OB = WB . By.

Da BO . AD = { BA . AC (Schol. in libr. VI. El. p. III. ed. Pfleiderer. Tub. 1802. §. 158.)
GA . AC, wenn CA in ihrer Verlängerung dem aus E als Mittelpunkt mit einem Radius =EB beschriebenen Kreise begegnet, (El. III. 20.)
HA . AK (El. III. 35.), weil HK ein durch A gehender Durchmesser dieses Kreises ist.
$HE^2 - EA^2$ (El. II. 5.)
$EB^2 - By^2$ (Constr.)

so ist

$$\left.\begin{matrix} BO.AD+2AF.OB \\ BO(AD+2AF) \end{matrix}\right\} = \left\{\begin{matrix} BE^2 \\ OB.BR \end{matrix}\right\} + \begin{cases} WB.By-By^2 \\ By.yW \text{ (El. VI. 8. 17.)} \\ Ty^2 \text{ (El. VI. 8. 17.)} \\ BL^2 \\ OB.BS \text{ (El. VI. 8. 17.)} \end{cases}$$

$$= OB.RS$$

demnach $AD+2AF=RS$

d. i. $AD+CA-AB=S$

Da auch $BC=g$, $BAC=\alpha$, so ist $\triangle ABC$ das gesuchte.

Aufgabe 9. (*Fig.* 9.)

Ein Dreieck zu beschreiben, in welchem die Grundlinie der gegebenen geraden Linie g, der Winkel der Spitze dem gegebenen Winkel α, und der Ueberschufs der Schenkelsumme über die Höhe der gegebenen geraden Linie d gleich sey.

Analysis.

Bezeichnet man die Schenkelsumme mit x, also die Höhe mit x—d, so ist, vermöge Dat. 76., $x^2-g^2 : \frac{g(x-d)}{2}$

also $x^2-g^2 : g(x-d)$

$(x+g)(x-g)$

gleich einem gegebenen Verhältnisse, das ist, wenn $AD=DC=g$, $BD=d$, $Dx=x$ gesetzt wird, $Ax.xC : g.Bx$ gleich einem gegebenen Verhältnisse, mithin läfst sich der Punkt x, nach Apollonius de sect. det. Buch I. Aufg. 4, und zwar nach Fall 2, wenn $g>d$ finden, somit sind die Linien Dx, Cx, also ist auch das Dreieck gegeben.

Construction.

Man mache QIO=α, PI=IO, ziehe die gerade Linie OP, nehme DAP=R=EAP, EA=2AP, FA=g=AD=DC, DB=d, errichte zu verschiedenen Seiten von AC in G, C die Perpendikel HG, ACK auf AC, mache HG=GA, KC=CB, beschreibe über der geraden Linie HK als Durchmesser einen die verlängerte AC in x schneidenden Halbkreis, über AD einen des Winkels α und einen anderen des Winkels $\frac{1}{2}\alpha$ fähigen Kreisabschnitt, und aus D als Mittelpunkt mit einem Radius =Dx einen Kreis, welcher dem Umfange des letzteren Abschnittes in L begegne, ziehe die gerade Linie DL, welche den Umfang des ersteren Abschnittes in M schneide, und verbinde M mit A durch die gerade Linie MA, so ist $\triangle$AMD das verlangte.

Determination.

Damit der Umfang des aus D als Mittelpunkt beschriebenen Kreises dem Umfange des über AD beschriebenen, des Winkels $\frac{1}{2}\alpha$ fähigen Abschnittes begegne, muſs, wenn DRN der Durchmesser des dazu gehörigen Kreises ist, seyn ND$\geqq$Dx.

Es ist $\left.\begin{matrix} AD \\ g \end{matrix}\right\} : DN = \sin.\frac{1}{2}\alpha : 1$

also $DN = \frac{g}{\sin.\frac{1}{2}\alpha}$

$= g.\mathrm{cosec}.\frac{1}{2}\alpha.$

Ferner ist $\left.\begin{matrix} AE \\ 2AP \\ 1 : 2\cot.\frac{1}{2}\alpha \end{matrix}\right\} = \left\{\begin{matrix} FA \\ g \end{matrix}\right\} : AG$

folglich $AG = 2g\cot.\frac{1}{2}\alpha$

mithin $\left.\begin{matrix} AG.BC \\ HG.KC \\ Gx.xC \end{matrix}\right\} = 2g(g-d)\cot.\frac{1}{2}\alpha$

$$Vx^2 - \left\{\begin{matrix} VC^2 \\ \left(\frac{CA-AG}{2}\right)^2 \\ \left(\frac{2g-2g\cot.\frac{1}{2}\alpha}{2}\right)^2 \\ g^2(1-\cot.\frac{1}{2}\alpha)^2 \end{matrix}\right\}$$

(Apollonius de sect. det. p. 5.) (El. II. 5.), wenn GV=VC;

demnach

$$Vx^2 = \left\{\begin{matrix} g^2(1-\cot.\frac{1}{2}\alpha)^2 + 2g(g-d)\cot.\frac{1}{2}\alpha \\ g^2 - 2g^2\cot.\frac{1}{2}\alpha + g^2\cot.\frac{1}{2}\alpha^2 + 2g^2\cot.\frac{1}{2}\alpha - 2gd\cot.\frac{1}{2}\alpha \\ g^2(1+\cot.\frac{1}{2}\alpha^2) - 2gd\cot.\frac{1}{2}\alpha \\ g^2.\operatorname{cosec}.\frac{1}{2}\alpha^2 - 2gd\cot.\frac{1}{2}\alpha \end{matrix}\right.$$

somit $Vx = \sqrt{g^2\operatorname{cosec}.\frac{1}{2}\alpha^2 - 2gd\cot.\frac{1}{2}\alpha}$

also $Gx = g(1-\cot.\frac{1}{2}\alpha) + \sqrt{g^2\operatorname{cosec}.\frac{1}{2}\alpha^2 - 2gd\cot.\frac{1}{2}\alpha}$

folglich $Ax = g(1+\cot.\frac{1}{2}\alpha) + \sqrt{g^2\operatorname{cosec}.\frac{1}{2}\alpha^2 - 2gd\cot.\frac{1}{2}\alpha}$

mithin $Dx = g\cot.\frac{1}{2}\alpha + \sqrt{g^2\operatorname{cosec}.\frac{1}{2}\alpha^2 - 2gd\cot.\frac{1}{2}\alpha}$

demnach muſs seyn

$$g\operatorname{cosec}.\tfrac{1}{2}\alpha \gtreqless g\cot.\tfrac{1}{2}\alpha + \sqrt{g^2\operatorname{cosec}.\tfrac{1}{2}\alpha^2 - 2gd\cot.\tfrac{1}{2}\alpha}$$

somit $g(\operatorname{cosec}.\frac{1}{2}\alpha - \cot.\frac{1}{2}\alpha) \gtreqless \sqrt{g^2\operatorname{cosec}.\frac{1}{2}\alpha^2 - 2gd\cot.\frac{1}{2}\alpha}$

also $g^2\operatorname{cosec}.\frac{1}{2}\alpha^2 - 2g^2\operatorname{cosec}.\frac{1}{2}\alpha.\cot.\frac{1}{1}\alpha + g^2\cot.\frac{1}{2}\alpha^2$

$$\gtreqless g^2\operatorname{cosec}.\tfrac{1}{2}\alpha^2 - 2gd\cot.\tfrac{1}{2}\alpha$$

folglich $g^2\cot.\frac{1}{2}\alpha - 2g^2\operatorname{cosec}.\frac{1}{2}\alpha + 2gd \left\{ \begin{matrix} = \\ > \end{matrix} \right\} 0$

$g^2(\cot.\frac{1}{2}\alpha - 2\operatorname{cosec}.\frac{1}{2}\alpha) + 2gd \left\{ \begin{matrix} = \\ > \end{matrix} \right\}$

demnach $g \left\{ \begin{matrix} = \\ > \end{matrix} \right\} \left\{ \begin{matrix} \frac{2d}{2\operatorname{cosec}.\frac{1}{2}\alpha - \cot.\frac{1}{2}\alpha} \\ \frac{d}{\operatorname{cosec}.\frac{1}{2}\alpha - \frac{1}{2}\cot.\frac{1}{2}\alpha} \end{matrix} \right.$

also $g : d \left\{ \begin{matrix} = \\ > \end{matrix} \right\} \left\{ \begin{matrix} 1 : \operatorname{cosec}.\frac{1}{2}\alpha - \frac{1}{2}\cot.\frac{1}{2}\alpha \\ 1 : \operatorname{cosec}\frac{1}{2}\alpha - \cot.\frac{1}{2}\alpha + \frac{1}{2}\cot.\frac{1}{2}\alpha \\ 1 : \tan.\frac{1}{4}\alpha + \frac{1}{2}\cot.\frac{1}{2}\alpha \end{matrix} \right.$ (Diesterwegs trigonomet. Formeln §. 5)

Beweis.

Es ist $g : d \left\{ \begin{matrix} = \\ > \end{matrix} \right\} 1 : \tan.\frac{1}{4}\alpha + \frac{1}{2}\cot.\frac{1}{2}\alpha$

also erreicht der aus D als Mittelpunkt beschriebene Kreis den Umfang des über AD beschriebenen, des Winkels $\frac{1}{2}\alpha$ fähigen Abschnittes, wie aus der Determination leicht hervorgehet.

Ferner ist, verm. Apoll. de sect. det. Buch I. Aufg. 4. Fall 2. Bew.

$\left. \begin{matrix} g \,.\, Bx \\ g(xD - DB) \\ g(Dx - d) \end{matrix} \right\} : Ax \,.\, xC = DA : \left\{ \begin{matrix} AE \\ 2AP \end{matrix} \right.$

also $Ax \,.\, xC \left\{ \begin{matrix} : \frac{1}{2}g(Dx - d) = 4PA : AD \\ Dx^2 - DC^2 \\ DL^2 \\ (DM+MA)^2 \end{matrix} \right.$

$\left. \begin{matrix} \\ \\ - DA^2 \\ \end{matrix} \right\} = 4AT : TA$, wenn die gerade Linie AL gezogen und MTA = R gemacht wird;

$= (DM+MA)^2 - DA^2 : \triangle AMD$

folglich $\frac{1}{2}g(Dx-d) = \left\{\begin{array}{l}\triangle AMD \\ \frac{1}{2}g.h\end{array}\right.$, wenn mit h des Dreieckes AMD Höhe bezeichnet wird;

mithin $Dx-d=h$

somit $\left.\begin{array}{l}Dx-h \\ DM+MA-h\end{array}\right\} = d.$

Da auch $DMA=\alpha$, $AD=g$, so ist $\triangle AMD$ das verlangte.

Zusatz.

Es erhellet von selbst, dafs es im Fall eines Durchschnittes zwey Dreiecke mit der gegebenen Eigenschaft giebt.

Aufgabe 10. (*Fig.* 10.)

Ein Dreieck zu beschreiben, in welchem die Grundlinie der gegebenen geraden Linie g, der Winkel der Spitze den gegebenen Winkel α, der Ueberschufs der Höhe über die Schenkeldifferenz der gegebenen geraden Linie d gleich sey.

Analysis. (Fig. 10. a.)

Bezeichnet man die Schenkeldifferenz mit x, also die Höhe mit d+x, so ist, vermöge Dat. 76. Zusatz, das Verhältnifs

$$t^2-x^2 : g\frac{(d+x)}{2}$$

also auch $g-x^2 : g(d+x)$ gegeben,

das ist $\angle x . xC : g : Bx$ gegeben, wenn $AD=DC=g$, $DB=d$, $Dx=x$ gesetzt wird, folglich läfst sich verm. Apoll. de sect. det. Buch I. Aufg. 3. der Punkt x, mithin sowohl Dx, als Bx finden, und das Dreieck construiren.

Anmerkung.

Dieselbe Aufgabe hat Fermat in folgender Weise behandelt.

Analysis. (Fig. 10. b.)

Es sey $\triangle BAC$ das verlangte, so ist, wenn $ADB = R = CMA$,

$BC.AD : BA.AC = \begin{cases} BA.CM : BA.AC \text{ (El. I. 41.)} \\ MC : CA \\ BC : a, \text{ wenn } MC:CA = BC:a, \text{ wobey a, wegen des (Dat. 62.2.) gegebenen Verhältnisses MC:CA, gegeben ist;} \\ BC.AD : a.AD \end{cases}$

also $BA.AC = a.AD$

$GA.AC$ (El. III. 20.) wenn um $\triangle BAC$ ein Kreis beschrieben, $BV = VC$, $BVE = R$ gemacht, und aus dem Durchschnitte E der Linie VE mit dem Bogen BEC als Mittelpunkt, mit einem Radius = der geraden Linie BE, ein Kreis beschrieben, und CA bis zum Durchschnitt G mit demselben verlängert wird.

$HA.AK$ (El. III. 35.) wenn H, K die Endpunkte des durch A gezogenen Durchmessers des zuletzt beschriebenen Kreises sind.

Ferner ist $EAC = EBC$ (El. III. 21.)

also $AEF = \begin{cases} BEV \text{ (El. VI. 4.), wenn } AEF = R; \\ \frac{1}{2}BAC \text{ (El. III. 21.)} \end{cases}$

folglich ist $EA : AF$ ein gegebenes Verhältnis.

Bestimmt man b so, dafs $a : \frac{1}{2}b = EA : AF$, so ist b gegeben (Dat. 2.), und $2a.AF = b.AE$ (El. VI. 16.)

$$\text{mithin } HA.AK-b.AE=\begin{cases}a(AD-2AF)\\ a(AD-(CA-AG))\\ a(AD-(CA-AB))\\ a.d\end{cases}$$

$$\text{somit } HE^2-\begin{cases}HA.AK\\ AE^2\\ AE(AE+b)\end{cases}+b.AE\Big\}=AF^2-a.d$$

demnach ist AE(AE+b), und da AE+b−AE=b gegeben ist, so ist (Dat. 86.) AE der Gröfse, und in so fern BC als der Lage nach gegeben angesehen wird, auch der Lage nach, somit der Punkt A, und das ganze Dreieck gegeben.

Construction.

Man beschreibe über der geraden Linie BC=g einen Kreisabschnitt, welcher des Winkels α fähig ist, mache BV=VC, BVE=R, verlängere VE bis zum Durchschnitt mit dem Kreise in E, x, ziehe den Durchmesser BO, mache ERO=R, RS=d, OSL=R, ziehe von B zu dem Durchschnitte L der Linie SL mit dem Umfange des Kreises die gerade Linie BL, nehme auf der geraden Linie BE, oder ihrer Verlängerung die Linie NB=BL, beschreibe aus x als Mittelpunkt mit einem Radius =xN einen Kreis, welcher der verlängerten geraden Linie xB in y begegne, mache die Sehne EA=By, und ziehe die geraden Linien BA, AC, so ist △ABC das verlangte.

Beweis.

Es ist, wenn die gerade Linie Ox gezogen wird,

$$BOX=\begin{cases}BEV\ (El.\ III.\ 21.)\\ AEF, \text{ wenn } AFE=R, (El.\ VI.\ 4.)\end{cases}$$

also $OB : Bx = EA : AF$

folglich $OB : \left\{\begin{matrix}2Bx\\BW\end{matrix}\right\} = \left\{\begin{matrix}EA\\By\end{matrix}\right\} : \left\{\begin{matrix}2AF\\\end{matrix}\right\}$ wenn $Wx = xB$;

mithin $2AF . OB = WB . By$ (El. VI. 16.).

Da $BO . AD = \left\{\begin{matrix}BA . AC\\GA . AC\\HA . AK\\HE^2 - EA^2\\EB^2 - By^2\end{matrix}\right.$

(Schol. in libr. VI. Elem. ed. Pfleiderer. Tub. 1802. p. III. §. 158.)

$GA . AC$, wenn die Verlängerung von CA dem aus E als Mittelpunkt mit EB als Radius beschriebenen Kreise in G begegnet, und El. III. 20.;

$HA . AK$, wenn HK ein durch A laufender Durchmesser dieses Kreises ist (El. III. 35.);

$HE^2 - EA^2$ (El. II. 5.)

$EB^2 - By^2$ (Constr.)

so ist

$$BO(AD - 2AF) = \left\{\begin{matrix}EB^2 - By(WB + By)\\OB . BR - \left\{\begin{matrix}Wy . yB \text{ (El. VI. 8. 17.)}\\yx^2 - Bx^2 \text{ (El. II. 6.)}\\BN^2 \text{ (El. I. 47.)}\\BL^2 \text{ (Constr.)}\end{matrix}\right.\\OB . BS \text{ (El. VI. 8, 17.)}\end{matrix}\right.$$

$$= OB . RS$$

demnach $AD - 2AF = \left\{\begin{matrix}RS\\d\end{matrix}\right\}$

$AD - (CA - AB)$

Da auch $BC = g$, $BAC = \alpha$, so ist $\triangle ABC$ das verlangte.

Aufgabe 11. (*Fig.* 11.)

Ein Dreieck zu beschreiben, in welchem die Grundlinie der gegebenen geraden Linie g, der Winkel der Spitze dem gegebenen Winkel α, und das Verhältniß

der Schenkelsumme zur Höhe dem gegebenen Verhältnifs p : q gleich sey.

Analysis.

Bezeichnet man die Schenkelsumme mit x, also die Höhe mit $\frac{q}{p}x$, so ist wegen des gegebenen Winkels α, verm. Dat. 76. das Verhältnifs

$$x^2-g^2 : \frac{q}{2p}gx$$

also auch $x^2-g^2 : gx$ } gegeben;
das ist Ax . xC : g . Bx } wenn man AB=BC=g macht, und Bx=x setzt;

folglich läfst sich, verm. Apoll. de sect. det. Buch I. Aufg. 4. Fall 2., der Punkt x, somit die Linie Bx finden, und das Dreieck construiren.

Aufgabe 12. (*Fig.* 12.)

Ein Dreieck zu beschreiben, in welchem die Grundlinie der gegebenen geraden Linie g, der Winkel der Spitze dem gegebenen Winkel α, und das Verhältnifs der Schenkeldifferenz zur Höhe dem gegebenen Verhältnifs p : q gleich sey.

Analysis. (Fig. 12. a.)

Bezeichnet man die Schenkeldifferenz mit x, also die Höhe mit $\frac{q}{p}x$, so ist, vermöge Dat. 76. Zus., das Verhältnifs $g^2-x^2 : \frac{q}{2p}gx$

also auch $g^2-x^2 : gx$ } gegeben,
das ist Ax . xC : g . Bx } wenn man AB=BC macht, und

$Bx=x$ setzt, folglich läfst sich, verm. Apoll. de sect. det. Buch I. Aufg. 3. Fall 2., der Punkt x, somit die Linie Bx finden, und das Dreieck construiren.

Construction.

Man mache $HPK=\alpha$, $HP=PK$, ziehe die gerade Linie HK, nehme $HA=AK$, $AL=p$, $AM=q$, $LO\#PM$, $QA=2AK$, $DA=g=AB=BC$, $QE\#DO$, lege durch C und den Durchschnitt E der Linie AC, QE zu verschiedenen Seiten von AE Perpendikel auf AE, nehme $FE=EA$, $GC=CB$, beschreibe über der geraden Linie GF einen Halbkreis, welcher die Linie AB in x schneide, und über AB einen Kreisabschnitt, welcher des Nebenwinkels des Winkels PHA fähig ist, lege in denselben die Sehne BT, welche über T hinaus nach R verlängert werde, ziehe die gerade Linie AT, und mache $RAT=ATR$, so ist, wenn R der Durchschnitt der Linien BR, AR ist, $\triangle ABR$ das verlangte.

Beweis.

Vermöge Apoll. de sect. determ. Buch I. Aufg. 3. Fall 2. ist

$$\left.\begin{matrix} Ax.xC : DA.Bx \\ AB^2-Bx^2 : DA.Bx \\ \left\{\begin{matrix} g^2-Bx^2 : AB.RV \\ AB.RV : DA.Bx \end{matrix}\right. \end{matrix}\right\} = QA : AO$$

$$= \left\{\begin{matrix} 2AK : AP \\ AP : AO \end{matrix}\right\}$$

d. h. QA:AO ist angesehen als aus den Verhältnissen 2AK:AP AP:AO zusammengesetzt, und so in den übrigen Doppelparenthesen dieses Beweises.

$$= \left\{\begin{matrix} 2AK : AP \\ MA : AL \end{matrix}\right\}$$

$$= \left\{\begin{matrix} 2AK : AP \\ q : p \end{matrix}\right\}$$

$$= \left\{\begin{matrix} 2TU : UR \\ q : p \end{matrix}\right\}$$

wenn die gerade Linie AU in U halbirt, und die gerade Linie RU gezogen ist;

$$= \left\{ \begin{matrix} AB^2-(BR-RA)^2 : 2\triangle ABR \\ q : p \end{matrix} \right\} \text{ (Dat. 76. Zus.)}$$

$$= \left\{ \begin{matrix} g^2-Bx^2 : AB \,.\, RV \\ q : p \end{matrix} \right\}, \text{ wenn } AVR = R;$$

also ist auch $\left\{ \begin{matrix} AB \,.\, RV : DA \,.\, Bx \\ RV : BR-RA \end{matrix} \right\} = q : p$

Da auch $AB = g$, und $BFA = PHD$

also $RTA = PHA$

folglich $BRA = HPK = \alpha$

so ist $\triangle BRA$ das verlangte.

Anmerkung.

Dieselbe Aufgabe hat Pascal in folgender Weise behandelt.

Analysis (Fig. 12. b.)

Es sey $\triangle ABC$ das verlangte, sey ein Kreis um dasselbe beschrieben, und arc. BE = arc. EC; es sey aus E als Mittelpunkt mit einem Radius $= EB$ ein Kreis beschrieben, welcher der Verlängerung von CA in G begegne, sey $EFA = R$; so ist, wenn die geraden Linien EC, BG gezogen werden,

$$\left\{ \begin{matrix} BAC \\ BGC + ABG \end{matrix} \right\} = BEC = 2BGC$$

also $ABG = BGC$

folglich $GA = AB$.

Da $GF = FC$

so ist $\left\{ \begin{matrix} FG - GA \\ AF \end{matrix} \right\} = FC - AB$

mithin $2AF = CA - AB$

demnach $DA:2AF = \left\{\begin{matrix} DA:CA-AB \\ q:p \end{matrix}\right.$

somit $\left.\begin{matrix} DA:AF \\ DA.BC:AF.BC \\ AB.CM \end{matrix}\right\} = q:\frac{1}{2}p$

wenn $AMC = R$.

Ferner ist $\left.\begin{matrix} AC:CM \\ BA.AC:AB.CM \end{matrix}\right\} = 1:\sin.\alpha$

also $BA.AC:AF.BC = q:\frac{1}{2}p.\sin.\alpha$

Auch ist $\left.\begin{matrix} FA:AE \\ FA.BC:AE.BC \end{matrix}\right\} = \left\{\begin{matrix} \sin.\ AEF \\ \cos.\ EAF \\ \cos.\ EBC \\ \sin.\frac{1}{2}BEC \\ \sin.\frac{1}{2}\alpha \end{matrix}\right\} : 1$

folglich $BA.AC:AE.BC = \left\{\begin{matrix} q.\sin.\frac{1}{2}\alpha:\frac{1}{2}p.\sin.\frac{1}{2}\alpha \\ q:p.\cos.\frac{1}{2}\alpha \\ KL:BC, \\ KL.AE:AE.BC, \end{matrix}\right.$ (Diesterwegs trigonom. Formeln §. 4.) wenn $q:p\cos.\frac{1}{2}\alpha = KL:BC$;

mithin $\left.\begin{matrix} BA.AC \\ GA.AC \\ HA.AK \end{matrix}\right\} = KL.AE$ (El. III. 35.)

somit $HA.AL = KL.EH$.

Es ist $CB:\left\{\begin{matrix} BE \\ EH \end{matrix}\right\} = \sin.\alpha:\cos.\frac{1}{2}\alpha = 2\sin.\frac{1}{2}\alpha:1$

also $EH = \frac{CB}{2\sin.\frac{1}{2}\alpha}$.

Da auch $CB:KL = p\cos.\frac{1}{2}\alpha:q$

so ist $CB^2:EH.KL = \left\{\begin{matrix} 2p\sin.\frac{1}{2}\alpha.\cos.\frac{1}{2}\alpha:q \\ p\sin.\alpha:q \end{matrix}\right.$

$$\text{also } EH.KL=\frac{q}{p\sin.\alpha}CB^2$$

$$\text{folglich } KL=\frac{qCB^2.2\sin.\frac{1}{2}\alpha}{p\sin.\alpha.CB}$$

$$=\frac{q}{p\cos.\frac{1}{2}\alpha}BC.$$

$$\text{Da } CB:\left\{\begin{matrix}2EH\\KH\end{matrix}\right\}=\sin.\tfrac{1}{2}\alpha:1$$

$$\text{so ist } KH=\frac{CB}{\sin.\frac{1}{2}\alpha}$$

folglich

$$LH=\left(\frac{q}{p\cos.\frac{1}{2}\alpha}+\frac{1}{\sin.\frac{1}{2}\alpha}\right)BC=\frac{q\sin.\frac{1}{2}\alpha+p\cos.\frac{1}{2}\alpha}{\sin.\alpha}2BC$$

mithin

$$\left.\begin{matrix}HA.AL\\\frac{q}{p\sin.\alpha}CB^2\end{matrix}\right\}\begin{matrix}(=HA(LH-HA))\\=HA\frac{q\sin.\frac{1}{2}\alpha-p\cos.\frac{1}{2}\alpha}{\sin.\alpha}(2BC-HA)\end{matrix}$$

demnach läfst sich HA, somit AE=EH—HA, der Gröfse nach finden. Da, wegen der gegebenen Linie BC und des gegebenen Winkels BAC, der um das Dreieck zu beschreibende Kreis der Gröfse, und, wenn BC der Lage nach gegeben ist, auch der Lage nach gegeben ist, so ist der Punkt E, also der Punkt A, somit das Dreieck ABC der Gröfse und Lage nach gegeben.

Construction.

Man beschreibe über der geraden Linie BC=g einen Kreisabschnitt, welcher des Winkels α fähig ist, mache BV=VC, BVE=R, von dem Durchschnitte E der Linie VE mit dem Umfange des Abschnittes an trage

man auf die Verlängerung von VE die Linien EP=BC, EO=q, EN=p, ziehe PQ∥BC, und verlängere dieselbe, bis sie der Verlängerung von BE in Q begegne, mache OR∥NQ, ET=TR, TEW=R, verlängere EW, bis sie dem aus E als Mittelpunkt mit einem Radius =EB beschriebenen Kreise in W begegne, mache UT=TW, AE=EU, und ziehe die geraden Linien BA, AC, so ist △ABC das verlangte.

Beweis.

Es ist RU.UE+TE² = TU² (El. II. 6.)
TW²
WE² } +ET²
EB² }

also RU.UE } = EB²
RE.EU + UE² } CE²
EA² } CA²+AE²-2CA.AF (El. II. 13.)

folglich RE.EU = CA²—2CA.AF
CF²—FA² (El. II. 7.)
CA.AG
CA.AB
AD.Ex

mithin RE:Ex = AD: EU (El. VI. 16.)
EA

Es ist xE:EB = BE:EV
AE:EF

und BE:EQ = VE: EP
2BV
EF:2FA

demnach RE:EQ } = AD: 2FA
OE:EN } CA—AB
q:p }

Da auch CB=g, BAC=α, so ist △ABC das verlangte.

Aufgabe 13. (*Fig.* 13.)

Ein Dreieck zu beschreiben, in welchem die Grundlinie der gegebenen geraden Linie g, der Winkel der Spitze einem gegebenen Winkel, und der Radius des in dasselbe beschriebenen Kreises der gegebenen geraden Linie r gleich sey.

Analysis.

Es sey △ABC das verlangte, so ist verm. Dat. 76. das Verhältnifs $(BA+AC)^2-BC^2 : 2\triangle ABC$

also auch $\left.\begin{matrix}(BA+AC)^2-BC^2\\ (BA+AC+BC)(BA+AC-BC)\end{matrix}\right\} : \left\{\begin{matrix}2\triangle ABC\\ (BA+AC+CB)r\end{matrix}\right.$

$BA+AC-CB : r$

gegeben, folglich $BA+AC-\left\{\begin{matrix}CB\\ g\end{matrix}\right.$ (Dat. 2.)

mithin BA+AC

somit das Dreieck ABC nach Aufg. 1. gegeben.

Aufgabe 14. (*Fig.* 14.)

Ein Dreieck ABC zu beschreiben, in welchem die Grundlinie AB der gegebenen geraden Linie g, der Winkel der Spitze ACB dem gegebenen Winkel α gleich sey, und in welches sich um den Winkel ACB ein Rhombus beschreiben lasse, dessen Seite einer der Gröfse nach gegebenen geraden Linie β gleich sey, und dessen dem Winkel ACB gegenüberliegende Winkelspitze auf die Seite AB falle.

Analysis.

Es sey ACB das gesuchte Dreieck, auch DECF der in dasselbe zu beschreibende Rhombus, so ist, wenn um das Dreieck ein Kreis beschrieben, die Diagonale CD des Rhombus gezogen und bis zu dem Durchschnitte G mit dem Kreise verlängert, auch die gerade Linie AG gezogen wird, $\left.\begin{matrix} ACG=GCB \\ =GAB \end{matrix}\right\}$ (El. III. 21.)

also $\triangle AGD \backsim \triangle AGC$ (El. VI. 4.)

folglich $CG : GA = AG : GD$

mithin $CG . GD = AG^2$ (El. VI. 17.)

Da wegen der der Gröfse nach gegebenen geraden Linie $AB=g$ und des der Gröfse nach gegebenen Winkels $ACB=\alpha$, der Kreis der Gröfse, und in so fern AB als der Lage nach gegeben angenommen wird, auch der Lage nach gegeben ist, so ist, weil die Diagonale CD des Rhombus den Winkel ACB halbirt, also auch arc. AG=arc. GB ist, der Punkt G, mithin die gerade Linie AG der Gröfse nach, folglich auch CG . GD gegeben. Da auch $CG-GD=CD$ gegeben ist, so ist (Dat. 85.) GC der Gröfse nach gegeben. Da der Punkt G gegeben ist, so liegt C auf dem Umfange eines der Lage nach gegebenen Kreises (Apollonius ebene Oerter pag. 33.). Da C auch auf dem Umfange des um das Dreieck ABC beschriebenen, der Lage nach gegebenen Kreises liegt, so ist der Punkt C, somit das Dreieck ABC gegeben.

Construction.

Man beschreibe über der geraden Linie $AB=g$ einen Kreisabschnitt, welcher des Winkels α fähig ist, hal-

bire AB in N, ziehe durch N den Durchmesser MG dieses Kreises, verbinde die Punkte A, G durch die gerade Linie AG, errichte in G auf AG ein Perpendikel LG, schneide auf demselben die Linie KG= der Diagonale PR des über der Linie β mit dem gegebenen Winkel QPS=α beschriebenen Rhombus PQRS, halbire GK in H, ziehe die gerade Linie HA, beschreibe aus H als Mittelpunkt mit dem Radius HA einen Kreis, welcher die Linie GL in L schneide, lege in den zuerst beschriebenen Kreis die Sehne CG=GL, und ziehe die geraden Linien AC, CB, so ist $\triangle$ABC das verlangte.

Determination.

Damit die Sehne CG=GL in den zuerst beschriebenen Kreis gelegt werden könne, muſs $LG \leqq GM$ seyn.

Es ist $\left.\begin{matrix}NA\\ \frac{1}{2}g\end{matrix}\right\} : AO \Big\} = \sin.\alpha : 1$

$g : \left\{\begin{matrix}2AO\\ MG\end{matrix}\right\}$

also $MG = \frac{g}{\sin.\alpha}$

Ferner ist $GA : \left\{\begin{matrix}AN\\ \frac{1}{2}g\end{matrix}\right\} = 1 : \left\{\begin{matrix}\sin.AGN\\ \cos.GAB\\ \cos.\frac{1}{2}\alpha\end{matrix}\right.$

also $AG = \frac{g^2}{2\cos.\frac{1}{2}\alpha}$

folglich $AG^2 \Big\} = \frac{g}{4\cos.\frac{1}{2}\alpha^2}$

$AH^2 - AG^2 \Big\} = \frac{1}{4}g^2\overline{\sec.\frac{1}{2}\alpha^2}$

Auch ist $\left.\begin{matrix}QP\\ \beta\end{matrix}\right\} : PR = \sin.\frac{1}{2}\alpha : \left\{\begin{matrix}\sin.\alpha\\ 2\sin.\frac{1}{2}\alpha.\cos.\frac{1}{2}\alpha\end{matrix}\right.$

$= 1 : 2\cos.\frac{1}{2}\alpha$

mithin $PR = 2\beta\cos.\frac{1}{2}\alpha$

somit $\left.\begin{matrix}\frac{1}{2}PR\\ HG\end{matrix}\right\} = \beta\cos.\frac{1}{2}\alpha$

demnach $AH^2 - \beta^2\overline{\cos.\frac{1}{2}\alpha}^2 = \frac{1}{4}g^2\overline{\sec.\frac{1}{2}\alpha}^2$

also $AH^2 = \frac{1}{4}g^2\overline{\sec.\frac{1}{2}\alpha}^2 + \beta^2\overline{\cos.\frac{1}{2}\alpha}^2$

folglich $\left.\begin{matrix}AH+HG\\ LG\end{matrix}\right\} = \sqrt{\frac{1}{4}g^2\overline{\sec.\frac{1}{2}\alpha}^2 + \beta^2\overline{\cos.\frac{1}{2}\alpha}^2} + \beta\cos.\frac{1}{2}\alpha$

mithin mufs seyn

$$\sqrt{\frac{1}{4}g^2\overline{\sec.\frac{1}{2}\alpha}^2 + \beta^2\overline{\cos.\frac{1}{2}\alpha}^2} + \beta\cos.\frac{1}{2}\alpha \overline{\underset{<}{=}} g.\operatorname{cosec}.\alpha$$

somit

$$\frac{1}{4}g^2\overline{\sec.\frac{1}{2}\alpha}^2 + \beta^2\overline{\cos.\frac{1}{2}\alpha}^2 \overline{\underset{<}{=}} g^2\overline{\operatorname{cosec}.\alpha}^2 - 2g\beta\cos.\tfrac{1}{2}\alpha.\operatorname{cosec}.\alpha + \beta^2\overline{\cos.\tfrac{1}{2}\alpha}^2$$

demnach $\frac{1}{4}g^2\overline{\sec.\frac{1}{2}\alpha}^2 \overline{\underset{<}{=}} g^2\overline{\operatorname{cosec}.\alpha}^2 - 2g\beta\cos.\frac{1}{2}\alpha.\operatorname{cosec}.\alpha$

also $\frac{\frac{1}{4}g}{\overline{\cos.\frac{1}{2}\alpha}^2} \overline{\underset{<}{=}} \frac{g}{4\sin.\frac{1}{2}\alpha\overline{\cos.\frac{1}{2}\alpha}^2} - \frac{2\beta\cos.\frac{1}{2}\alpha}{2\sin.\frac{1}{2}\alpha.\cos.\frac{1}{2}\alpha}$

folglich $g\overline{\sin.\frac{1}{2}\alpha}^2 \overline{\underset{<}{=}} g - 4\beta\sin.\tfrac{1}{2}\alpha.\overline{\cos.\tfrac{1}{2}\alpha}^2$

mithin $4\beta\sin.\frac{1}{2}\alpha\overline{\cos.\frac{1}{2}\alpha}^2 \overline{\underset{<}{=}} g\overline{\cos.\frac{1}{2}\alpha}^2$

somit $4\beta\sin.\frac{1}{2}\alpha \overline{\underset{<}{=}} g.$

Beweis.

Es ist $4\beta\sin.\frac{1}{2}\alpha \overline{\underset{<}{=}} g$, also ist $LG \overline{\underset{<}{=}} GM$, wie aus der Determination hervorgehet.

Da $GL > LH$

so ist $LG > AH$

also $LG > AG$ (El. I. 19.)

folglich $LG > GN$ (El. I. 19.)

mithin erreicht ein aus G als Mittelpunkt mit einem Radius $= GL$ beschriebener Kreis den Bogen AM.

Ferner ist $ACG = \begin{cases} GCB \\ GAN \end{cases}$

also $CG \cdot GA = AG : GD$

folglich $CG : GD = \begin{cases} AG^2 \\ AH^2 - HG^2 \\ GL \cdot LK \end{cases}$

mithin $CG : GL = LK : GD$

somit $LK = GD$

demnach $GL - LK \left\} = \begin{cases} CG - GD \\ CD \end{cases} \right.$
GK
PR

Da $ACD = DCB$, so ist, wenn $ED \# BC$ gezogen wird, $DCB \} = CDE$
$ACD \}$

also $CE = ED$

folglich, wenn man $DF \# CE$ macht, ECFD ein Rhombus. Da überdiefs $DCE = \begin{cases} \frac{1}{2}\alpha \\ QPR \end{cases}$, $CDE = \begin{cases} DCE \\ QPR \\ QRP \end{cases}$, so ist

$CE = \begin{cases} AQ \\ \beta \end{cases}$, also ist $\triangle ABC$ das verlangte.

Anmerkung.

Durch diese Aufgabe findet auch die andere ihre Auflösung: ein Dreieck zu beschreiben, in welchem die Grundlinie, der Winkel der Spitze und Segment der den Winkel der Spitze halbirender geraden Linie, welches zwischen der Spitze und der Grundlinie liegt, gegeben seyen.

Aufgabe 15. (*Fig.* 15.)

Ein Dreieck zu beschreiben, dessen Grundlinie, Höhe und Schenkelsumme den gegebenen geraden Linien g, h, S gleich seyen.

Analysis.

Es sey ABC das gesuchte Dreieck, so ist sowohl S^2-g^2, als gh, mithin $S^2-g^2 : gh$ (Dat. 2.)

somit $S^2-g^2 : \left\{ \begin{matrix} \frac{1}{2}gh \\ \triangle ABC \end{matrix} \right.$

also der Winkel ACB (Dat. 76. Conv.) gegeben, folglich die Aufgabe auf Aufg. 1. reducirt.

Construction.

Man mache AB=g, ABE=R, auf der Verlängerung von AB die gerade Linie FB=h, beschreibe über der geraden Linie AF einen die Verlängerung von EB in G erreichenden Halbkreis, und aus A als Mittelpunkt mit einem Radius = S einen Kreis, welcher BE in E schneide, nehme HB=BG, KG∥HE, verbinde den Durchschnitt K der Linien BF, GK mit dem Halbirungspunkte L der geraden Linie BE durch die gerade Linie KL, nehme MLK=KLB, BN∥ML, BU=UA, BUN=R, beschreibe aus dem Durchschnitte N der Li-

nien RN, NU als Mittelpunkte einen Kreis mit einem Radius $=NB$, verlängere UN bis zum Durchschnitt mit dem Umfange desselben in Q, beschreibe aus Q als Mittelpunkt einen Kreis mit einem Radius = der geraden Linie QA, welcher von dem zweiten Kreise in R erreicht werde, ziehe die den Umfang des aus N als Mittelpunkt mit einem Radius $=NB$ beschriebenen Kreises in C schneidende gerade Linie AR, und verbinde B mit C durch die gerade Linie BC, so ist ABC das verlangte Dreieck.

Determination.

Damit der Umfang des zweiten Kreises den Umfang des aus Q als Mittelpunkt beschriebenen Kreises erreiche, muſs $S \gtreqless 2AQ$ seyn (El. III. 15.).

Es ist $UA : AQ = \begin{cases} \sin . AQU : 1 \\ \sin . BLK : 1 \\ BK : KL \end{cases}$

also $\left.\begin{matrix} UA \\ \frac{1}{2}g \end{matrix}\right\} : 2AQ = \begin{cases} BK : 2KL \\ \left.\begin{matrix} EB . BK \\ HB . BG \end{matrix}\right\} : 2EB . KL \\ \left.\begin{matrix} AB . BF \\ gh \end{matrix}\right\} \end{cases}$ (El. VI. 4. 16.)

folglich muſs seyn $\frac{1}{2}g : S \begin{cases} = \\ < \end{cases} gh : 2BE . KL$ (El. V. 8.)

$gh : 2hS$

mithin $hS \gtreqless \begin{cases} BE . KL \\ BE\sqrt{KB^2 + BL^2} \end{cases}$

somit $2hS \geqq BE\sqrt{4KB^2+BE^2}$

demnach $\left(\frac{2hS}{BE}\right)^2 \geqq 4BK^2+BE^2$

also
$$\left.\begin{array}{l} \left(4\left(\frac{hS}{BE}\right)^2-BK^2\right) \\ 4\left(\frac{hS}{BE}+BK\right)\left(\frac{hS}{BE}-BK\right) \\ 4\left(\frac{hS+EB.BK}{BE}\right)\left(\frac{hS-EB.BK}{BE}\right) \\ 4\left(\frac{hS+gh}{BE}\right)\left(\frac{hS-gh}{BE}\right) \\ \frac{4h^2(S+g)(S-g)}{BE^2} \\ \frac{4h^2(S^2-g^2)}{BE^2} \\ 4h^2 \end{array}\right\} \geqq \left\{\begin{array}{l} BE^2 \\ S^2-g^2 \end{array}\right.$$

mithin $4h^2+g^2 \geqq S^2$.

Beweis.

Es ist $4h^2+g^2 \geqq S^2$ (Det.)

also erreicht der Umfang des zweiten Kreises den Umfang desjenigen, welcher Q zum Mittelpunkte hat.

Ferner ist $(AC+CB)^2-AB^2 : \triangle ABC = 4RV : VC$ (Dat. 76.)

also $(AC+CB)^2-AB^2 : 2\triangle ABC = \left\{\begin{array}{l} 2RV:VC \\ 2LB:BK \text{ (El. III. 21. VI. 1.)} \\ EB:BK \\ EB^2 : BG^2 \text{ El. VI. 20. Zus.} \end{array}\right.$

S^2-g^2 $\quad$ gh

folglich $2\triangle ABC \} = gh$, wenn $CDB = R$;
$g.CD \}$

mithin $g : g = h : CD$

somit $CD = h$.

Da auch $AB = g$, so ist $\triangle ABC$ das verlangte.

Zusatz.

Es erhellet von selbst, dafs es im Fall eines Durchschnittes der Kreise, welche A, Q zu Mittelpunkten haben, zwey Dreiecke mit den verlangten Eigenschaften giebt.

Aufgabe 16. (*Fig.* 15.)

Ein Dreieck zu beschreiben, dessen Grundlinie, Höhe und Schenkeldifferenz den gegebenen geraden Linien g, h, d gleich seyen.

Analysis.

Es sey ACB das gesuchte Dreieck, so ist sowohl $g^2 - d^2$, als gh, also $g^2 - d^2 : gh$

somit $g^2 - d^2 : \{ \frac{1}{2}gh$;
$\triangle ABC \}$

folglich der Winkel ACB (Dat. 76. Zus. Conv.) gegeben, mithin die Aufgabe auf Aufg. 1. Anm. reducirt.

Aufgabe 17.

Ein Dreieck zu beschreiben, in welchem die Grundlinie und Höhe gegebenen geraden Linien, das Schenkelverhältnifs einem gegebenen Verhältnifse gleich sey.

Analysis.

Wenn die Grundlinie als der Lage nach gegeben angesehen wird, so liegt, wegen der gegebenen Höhe, die Spitze auf einer der Lage nach gegebenen geraden Linie (Dat. 37.). Wegen des gegebenen Verhältnifses der Schenkel liegt die Spitze auf einem der Gröfse und Lage nach gegebenen Kreisumfange (Apoll. ebene Oerter pag. 215.). Also liegt die Spitze im Durchschnitt beider Oerter, ist also gegeben, somit ist △ABC gegeben.

Andere Analysis. (Fig. 16.)

Es sey △ABC das verlangte, es sey auch CO die den Winkel ACB halbirende gerade Linie, und seyen O, G die Durchschnittspunkte derselben mit AB und dem in dem Halbirungspunkte F der Linie AB auf AB aufgerichteten Perpendikel FG. Macht man OGK=R, und verlängert GK bis zum Durchschnitt mit der durch O der Linie FG parallel gezogenen geraden Linie OK, so ist, wenn KO bis zum Durchschnitt M mit der geraden Linie CM, welche der AB parallel ist, verlängert wird,

△COM ∽ △KOG (El. VI. 4.)

also CO : OM = KO : OG

folglich $\frac{CO \cdot OG}{AO \cdot OB} = KO \cdot OM$ (El. VI. 16.)

mithin MO : OB = AO : OK (El. VI. 16.).

Da AC : CB = AO : OB, so ist wegen des gegebenen Verhältnifses AC:CB, das Verhältnifs AO:OB, somit wegen der gegebenen AB=g sowohl AO, als OB (Dat. 8.) gegeben. Da MO=CD=h, so ist OK der Gröfse nach, somit wegen der der Lage nach gegebenen OK der

Punkt K gegeben. Da OGK=R, so liegt G auf dem Umfange eines der Gröfse und Lage nach gegebenen Halbkreises. Weil er auch auf der der Lage nach gegebenen Linie FG liegt, so ist der Punkt G, demnach die gerade Linie GOC der Lage nach gegeben. Da CDB=R, CD=h, so ist auch CM der Lage nach gegeben (Dat. 37.), also auch der Durchschnitt C der Linien OC, CM (Dat. 28.) folglich das Dreieck ABC gegeben.

Aufgabe 18.

Ein Dreieck zu beschreiben, in welchem die Grundlinie und Höhe den gegebenen geraden Linien g, h, das Rechteck der Schenkel dem Quadrate der gegebenen geraden Linie a gleich sey.

Analysis.

Da g, h gegeben sind, also auch g.h gegeben ist, so ist $a^2 : gh$, somit $a^2 : \frac{1}{2}gh$, folglich der Winkel der Spitze (Dat. 62. Conv.) gegeben, mithin die Aufgabe auf die andere leicht auflösbare reducirt: ein Dreieck zu beschreiben, dessen Grundlinie, Höhe und Winkel der Spitze gegeben sind.

Anmerkung.

Robert Simson behandelt diese Aufgabe nach folgender

Analysis. (Fig. 2. b.)

Es sey $\triangle ABC$ das verlangte, so ist, wenn CK seine Höhe, und CR der Durchmesser des um das Dreieck beschriebenen Kreises ist, auch die gerade Linie BR gezogen worden ist, wird $\triangle ACK \sim \triangle BCR$ (El. III. 21. VI. 4.)

also $AC : CK = RC : CB$

folglich $\left.\begin{matrix} AC \cdot CB \\ \alpha^2 \end{matrix}\right\} = RC \cdot CK$ (El. VI. 16.)

mithin $\left.\begin{matrix} KC \\ h \end{matrix}\right\} : \alpha = \alpha : RC$ (El. VI. 17.)

demnach ist RC (Dat. 2.), somit auch die Hälfte OC der Gröſse nach gegeben. Wird AB als der Lage nach gegeben angenommen, so ist, wenn LA=AB, der Punkt L, und wenn ALO=R, die Lage der Linie LO (Dat. 32.), also auch der Mittelpunkt des um das Dreieck zu beschreibenden Kreises (Apoll. ebene Oerter pag. 32. Dat. 28.), folglich der Kreis der Gröſse und Lage nach gegeben, auf dessen Umfange die Spitze C liegt. Da wegen der der Gröſse nach gegebenen CK die Spitze C auch auf der geraden Linie CG liegt (Dat. 37.), welche in der Entfernung CK=h der Linie AB parallel gezogen wird, so ist der Punkt C, somit das Dreieck ABC gegeben.

Aufgabe 19. (*Fig.* 4. b.)

Ein Dreieck zu beschreiben, in welchem die Grundlinie und Höhe gegebenen geraden Linien, die Summe der Quadrate der Schenkel dem Quadrate einer gegebenen geraden Linie gleich sey.

Analysis.

Es sey $\triangle ABC$ das verlangte, so liegt, wenn die Grundlinie BC als der Lage nach gegeben angesehen wird, die Spitze A, wegen der gegebenen Höhe AE, auf einer der Lage nach gegebenen geraden Linie (Dat. 37.). Wenn BC in D halbirt, und die gerade Linie DA gezogen wird, so liegt die Spitze wegen der der Gröſse

nach gegebenen Grundlinie und der gegebenen Summe der Quadrate der Schenkel auf einem der Lage und Gröfse nach gegebenem Kreisumfange, wie in Aufgabe 4. dargethan ist, also ist die Spitze, somit das Dreieck gegeben.

Aufgabe 20.

Ein Dreieck zu beschreiben, in welchem die Grundlinie und Höhe gegebenen geraden Linien, der Unterschied der Quadrate der Schenkel einem gegebenen Quadrate gleich sey.

Analysis.

Da, wenn die Grundlinie als der Lage nach gegeben angesehen wird, wegen der gegebenen Höhe die Spitze auf einer der Lage nach gegebenen geraden Linie liegt, wie Aufg. 19., und da, wegen der der Gröfse nach gegebenen Grundlinie und der gegebenen Differenz der Quadrate der Schenkel, die Spitze auch auf einer andern der Lage nach gegebenen geraden Linie liegt, wie in Aufg. 5. dargethan wurde, so ist die Spitze, somit das Dreieck gegeben.

Aufgabe. 21. (*Fig.* 17.)

Ein Dreieck zu beschreiben, in welchem der Winkel der Spitze einem gegebenen Winkel, die Summe der Grundlinie und Höhe, und die Schenkelsumme den gegebenen geraden Linie S, a gleich seyen.

Analysis.

Bezeichnet man die Grundlinie mit x, also die Höhe mit S—x, so ist verm. Dat. 76. das Verhältnifs

$$a^2-x^2 : \frac{x(S-x)}{2}$$

also auch $a^2-x^2 : x(S-x)$

d. i. $Ax \cdot xC : Bx \cdot xD$ } gegeben, wenn AB=BC=a, Bx=x, BD=S gesetzt wird, also läfst sich, verm. Apoll. de sect. det. Buch II. Aufg. 1., der Punkt x, somit Bx und das Dreieck finden.

Aufgabe 22. (*Fig.* 18.)

Ein Dreieck zu beschreiben, in welchem der Winkel der Spitze einem gegebenen Winkel, die Summe der Grundlinie und Höhe, und die Schenkeldifferenz den gegebenen geraden Linien S, d gleich seyen.

Analysis.

Bezeichnet man die Grundlinie mit x, also die Höhe mit S—x, so ist verm. Dat. 76. Zus. das Verhältnifs

$$x^2-d^2 : \frac{x(S-x)}{2}$$

also auch $x^2-d^2 : x(S-x)$

d. i. $Ax \cdot xC : Bx \cdot xD$ } gegeben, wenn AB=BC=d, Bx=x, BD=S gesetzt wird, also läfst sich, verm. Apoll. de sect. det. Buch I. Aufg. 2. Fall 2., der Punkt x, somit Bx und das Dreieck finden.

Aufgabe 23.

Ein Dreieck zu beschreiben, in welchem der Winkel der Spitze einem gegebenen Winkel, die Summe der Grundlinie und Höhe einer gegebenen geraden Linie, und das Verhältnifs der Schenkel einem gegebenen Verhältnifse gleich sey.

Analysis.

Wegen des gegebenen Winkels der Spitze und des gegebenen Verhältnifses der Schenkel ist das Dreieck der Art nach (Dat. 44.), also das Verhältnifs der Grundlinie zur Höhe (Dat. 50.) gegeben. Da auch die Summe der Grundlinie und Höhe gegeben ist, so ist sowohl die Grundlinie, als die Höhe gegeben (Dat. 8.), folglich läfst sich das Dreieck finden.

Aufgabe 24.

Ein Dreieck zu beschreiben, in welchem der Winkel der Spitze einem gegebenen Winkel, die Summe der Grundlinie und Höhe der gegebenen geraden Linie S, und das Rechteck der Schenkel dem Quadrate der gegebenen geraden Linie b gleich sey.

Analysis.

Bezeichnet man die Grundlinie mit x, also die Höhe mit S—x, so ist verm. Dat. 62. das Verhältnifs

$$b^2 : \frac{x(S-x)}{2}$$

also auch $b^2 + x(S-x)$ gegeben

folglich $x(S-x)$ gegeben (Dat. 2.).

Da $x+S-x = S$, so ist (Dat. 86.) x, folglich das Dreieck gegeben.

Aufgabe 25. (*Fig.* 19.)

Ein Dreieck zu beschreiben, in welchem der Winkel der Spitze dem gegebenen Winkel α, die Summe der Grundlinie und Höhe, und der Umfang den gegebenen geraden Linien S, U gleich seyen.

Analysis.

Bezeichnet man die Grundlinie mit x, also die Höhe mit S—x, und die Schenkelsumme mit U—x, so ist verm. Dat. 76. das Verhältnifs

$$(U-x)^2-x^2 : \frac{x(S-x)}{2}$$

also $\left.\begin{matrix}(U-x)^2-x^2\\ U^2-2Ux\\ 2U(\frac{1}{2}U-x)\end{matrix}\right\} : \left\{x(S-x)\right\}$ gegeben,

folglich auch $U(\frac{1}{2}U-x) : x(S-x)$

d. i. $U.Bx : Ax.xC$ gegeben, wenn $AB=\frac{1}{2}U$, $Ax=x$, $AC=S$ gesetzt wird, mithin läfst sich, verm. Apoll. de sect. det. Buch. I. Aufg. 3. Fall 2., der Punkt x, somit Ax, und das Dreieck finden.

Construction.

Man mache $LHK=\alpha$, verlängere LH um $PH=HK$, ziehe die gerade Linie PK, nehme $HAP=R$, verlängere HA zu beiden Seiten, mache $BA=AO=OM=\frac{1}{2}U$, $QA=AH$, $QE \parallel MP$, $AC=S$, nehme $AEF=R=ACG$ zu verschiedenen Seiten von AE, $FE=EA$, $GC=CB$, beschreibe über der geraden Linie FG einen Halbkreis, welcher die gerade Linie AB in x schneide, und über Ax einen Kreisabschnitt, welcher des Winkels α fähig ist, mache $AxU=R$, $Ux=xC$, $UN \parallel AB$, und verbinde den Durchschnitt N der Linie NU mit dem Umfange des über Ax beschriebenen Abschnittes mit den Punkten A, x durch die geraden Linien AN, Nx, so ist ANx das verlangte Dreieck.

Determination.

Damit UN den Bogen über Ax erreiche, mufs, wenn

AR=Rx, ART=R, und der Durchschnitt des Bogens mit der Linie RT ist, seyn $Ux \lessgtr RT$.

Es ist PA: $\left\{\begin{matrix} AQ \\ AH \end{matrix}\right\} = \left\{\begin{matrix} MA \\ U \end{matrix}\right\}$: AE (El. VI. 4.)

$1 : \tan.\frac{1}{2}\alpha$

also $AE = U\tan.\frac{1}{2}\alpha$

folglich $AE.BC = U\tan.\frac{1}{2}\alpha(S - \frac{1}{2}U)$

$FE.GC$

$Cx.xE$

$Vx^2 - \left\{\begin{matrix} VC^2 \\ \left(\frac{EA-AC}{2}\right)^2 \\ \left(\frac{U\tan.\frac{1}{2}\alpha - S}{2}\right)^2 \end{matrix}\right\}$ (El. II. 6.) wenn CV=VE; (Apoll. de sect. det. Lehns. A. pag. 5.)

mithin

$$Vx^2 \left(\frac{U\tan.\frac{1}{2}\alpha - S}{2}\right)^2 + U\tan.\frac{1}{2}\alpha(S - \tfrac{1}{2}U)$$

$$= \frac{U^2\tan.\frac{1}{2}\alpha^2 - 2US\tan.\frac{1}{2}\alpha + S^2 + 4US\tan.\frac{1}{2}\alpha - 2U^2\tan.\frac{1}{2}\alpha}{4}$$

$$= \frac{(U\tan.\frac{1}{2}\alpha + S)^2 - 2U^2\tan.\frac{1}{2}\alpha}{4}$$

somit

$$Vx = \tfrac{1}{2}\sqrt{(U\tan.\tfrac{1}{2}\alpha + S)^2 - 2U^2\tan.\tfrac{1}{2}\alpha}$$

demnach

$$Cx = \tfrac{1}{2}\sqrt{(U\tan.\tfrac{1}{2}\alpha + S)^2 - 2U^2\tan.\tfrac{1}{2}\alpha} - \frac{U\tan.\frac{1}{2}\alpha - S}{2}$$

also

$$Ax = S - \tfrac{1}{2}\sqrt{(U\tan.\tfrac{1}{2}\alpha + S)^2 - 2U^2\tan.\tfrac{1}{2}\alpha} + \frac{U\tan.\frac{1}{2}\alpha - S}{2}$$

$$= \frac{S+U\tan.\frac{1}{2}\alpha-\sqrt{(U\tan.\frac{1}{2}\alpha+S)^2-2U^2\tan.\frac{1}{2}\alpha}}{2}$$

folglich

$$\left.\begin{matrix}\frac{1}{2}Ax\\ AR\end{matrix}\right\} = \frac{S+U\tan.\frac{1}{2}\alpha-\sqrt{(U\tan.\frac{1}{2}\alpha+S)^2-2U^2\tan.\frac{1}{2}\alpha}}{4}$$

mithin

$$RT = \frac{S+U\tan.\frac{1}{2}\alpha-\sqrt{(U\tan.\frac{1}{2}\alpha+S)^2-2U^2\tan.\frac{1}{2}\alpha}}{4\tan.\frac{1}{2}\alpha}$$

demnach mufs seyn

$$\frac{1}{2}\sqrt{(U\tan.\frac{1}{2}\alpha+S)^2-2U^2\tan.\frac{1}{2}\alpha}-\frac{U\tan.\frac{1}{2}\alpha-S}{2}$$
$$< \frac{S+U\tan.\frac{1}{2}\alpha-\sqrt{(U\tan.\frac{1}{2}\alpha+S)^2-2U^2\tan.\frac{1}{2}\alpha}}{4\tan.\frac{1}{2}\alpha}$$

also

$$2\tan.\frac{1}{2}\alpha\left(\sqrt{(U\tan.\frac{1}{2}\alpha>S)^2-2U^2\tan.\frac{1}{2}\alpha}-(U\tan.\frac{1}{2}\alpha-S)\right)$$
$$< S+U\tan.\frac{1}{2}\alpha-\sqrt{(U\tan.\frac{1}{2}\alpha+S)^2-2U^2\tan.\frac{1}{2}\alpha}$$

folglich

$$(1+2\tan.\frac{1}{2}\alpha)\sqrt{(U\tan.\frac{1}{2}\alpha+S)^2-2U^2\tan.\frac{1}{2}\alpha}$$
$$< \begin{cases} S+U\tan.\frac{1}{2}\alpha+2\tan.\frac{1}{2}\alpha(U\tan.\frac{1}{2}\alpha-S) \\ S(1-2\tan.\frac{1}{2}\alpha)+U\tan.\frac{1}{2}\alpha(1+2\tan.\frac{1}{2}\alpha) \end{cases}$$

mithin

$$\sqrt{(U\tan.\frac{1}{2}\alpha+S)^2-2U^2\tan.\frac{1}{2}\alpha} < S.\frac{1-2\tan.\frac{1}{2}\alpha}{1+2\tan.\frac{1}{2}\alpha}+U\tan.\frac{1}{2}\alpha$$

somit $(U\tan.\frac{1}{2}\alpha+S)^2-2U^2\tan.\frac{1}{2}\omega \left\{ \begin{matrix} = \\ < \end{matrix} \right. S^2\left(\frac{1-2\tan.\frac{1}{2}\alpha}{1+2\tan.\frac{1}{2}\alpha}\right)^2$

$U^2\overline{\tan.\frac{1}{2}\alpha}^2+2US\tan.\frac{1}{2}\alpha+S^2-2U^2\tan.\frac{1}{2}\alpha$

$+2US\tan.\frac{1}{2}\alpha\frac{1-2\tan.\frac{1}{2}\alpha}{1+2\tan.\frac{1}{2}\alpha}+U^2\overline{\tan.\frac{1}{2}\alpha}^2$

---

demnach $2US\tan.\frac{1}{2}\alpha+S^2-2U^2\tan.\frac{1}{2}\alpha \begin{matrix} = \\ < \end{matrix} S^2\left(\frac{1-2\tan.\frac{1}{2}\alpha}{1+2\tan.\frac{1}{2}\alpha}\right)^2$

$+2US\tan.\frac{1}{2}\alpha\frac{1-2\tan.\frac{1}{2}\alpha}{1+2\tan.\frac{1}{2}\alpha}$

---

also $2US\tan.\frac{1}{2}\alpha+S^2-2U^2\tan.\frac{1}{2}\alpha+4US\overline{\tan.\frac{1}{2}\alpha}^2+2S^2\tan.\frac{1}{2}\alpha$

$-4U^2\overline{\tan.\frac{1}{2}\alpha}^2 \begin{matrix} = \\ < \end{matrix} S^2\frac{(1-2\tan.\frac{1}{2}\alpha)^2}{1+2\tan.\frac{1}{2}\alpha}+2US\tan.\frac{1}{2}\alpha-4US\overline{\tan.\frac{1}{2}\alpha}^2$

---

folglich

$S^2-2U^2\tan.\frac{1}{2}\alpha+8US\overline{\tan.\frac{1}{2}\alpha}^2+2S^2\tan.\frac{1}{2}\alpha-4U^2\overline{\tan.\frac{1}{2}\alpha}^2$

$\begin{matrix} = \\ < \end{matrix} \frac{S^2-4S^2\tan.\frac{1}{2}\alpha+4S^2\overline{\tan.\frac{1}{2}\alpha}^2}{1+2\tan.\frac{1}{2}\alpha}$

---

mithin

$S^2-2U^2\tan.\frac{1}{2}\alpha+8US\overline{\tan.\frac{1}{2}\alpha}^2+2S^2\tan.\frac{1}{2}\alpha-4U^2\overline{\tan.\frac{1}{2}\alpha}^2$

$+2S^2\tan.\frac{1}{2}\alpha-4U^2\overline{\tan.\frac{1}{2}\alpha}^2+16US\overline{\tan.\frac{1}{2}\alpha}^3+4S^2\overline{\tan.\frac{1}{2}\alpha}^2$

$-8U^2\overline{\tan.\frac{1}{2}\alpha}^3 < S^2-4S^2\tan.\frac{1}{2}\alpha+4S^2\overline{\tan.\frac{1}{2}\alpha}^2$

---

somit $-U^2+4US\tan.\frac{1}{2}\alpha+S^2-2U^2\tan.\frac{1}{2}\alpha+S^2-2U^2\tan.\frac{1}{2}\alpha$

$+8US\overline{\tan.\frac{1}{2}\alpha}^2+4U^2\overline{\tan.\frac{1}{2}\alpha}^2 < -2S^2$

---

demnach

$4S^2+8US\overline{\tan.\frac{1}{2}\alpha}^2+4US\tan.\frac{1}{2}\alpha \left\{ \begin{matrix} = \\ < \end{matrix} \right. \begin{matrix} U^2+4U^2\tan.\frac{1}{2}\alpha+4U^2\overline{\tan.\frac{1}{2}\alpha}^2 \\ U^2(1+4\tan.\frac{1}{2}\alpha+4\overline{\tan.\frac{1}{2}\alpha}^2) \\ U^2(1+2\tan.\frac{1}{2}\alpha)^2. \end{matrix}$

$4S^2+4US\tan.\frac{1}{2}\alpha(2\tan.\frac{1}{2}\alpha+1)$

---

also

$$(2S+U\tan.\tfrac{1}{2}\alpha(2\tan.\tfrac{1}{2}\alpha+1))^2 \overset{=}{<} \begin{cases} U^2(1+2\tan.\tfrac{1}{2}\alpha)^2(1+\overline{\tan.\tfrac{1}{2}\alpha^2}) \\ U^2(1+2\tan.\tfrac{1}{2}\alpha)^2\overline{\sec.\tfrac{1}{2}\alpha^2} \end{cases}$$

folglich $2S \overset{=}{<} U(1+2\tan.\tfrac{1}{2}\alpha)(\sec.\tfrac{1}{2}\alpha-\tan.\tfrac{1}{2}\alpha)$

mithin $S:U \overset{=}{<}$

$(1+2\tan.\tfrac{1}{2}\alpha)(\sec.\tfrac{1}{2}\alpha-\tan.\tfrac{1}{2}\alpha):2$

$(1+2\tan.\tfrac{1}{2}\alpha)\dfrac{1-\sin.\frac{1}{2}\alpha}{\cos.\frac{1}{2}\alpha}:2$

$(1+2\tan.\tfrac{1}{2}\alpha)2\overline{\sin.(45^0-\tfrac{1}{4}\alpha)^2}:2\cos.\tfrac{1}{2}\alpha$

$(1+2\tan.\tfrac{1}{2}\alpha)\overline{\sin.(45^0-\tfrac{1}{4}\alpha)^2}:\cos.\tfrac{1}{2}\alpha$

$(\cos.\tfrac{1}{2}\alpha+2\sin.\tfrac{1}{2}\alpha)\overline{\sin.(45^0-\tfrac{1}{4}\alpha)^2}:\overline{\cos.\tfrac{1}{2}\alpha^2}$

$(\cos.\tfrac{1}{2}\alpha+2\sin.\tfrac{1}{2}\alpha)\dfrac{(\cos.\frac{1}{4}\alpha-\sin.\frac{1}{4}\alpha)^2}{2}$

$$: \begin{cases} \overline{(\cos.\frac{1}{4}\alpha^2-\sin.\frac{1}{4}\alpha^2)^2} \\ (\cos.\frac{1}{4}\alpha+\sin.\frac{1}{4}\alpha)^2(\cos.\frac{1}{4}\alpha-\sin.\frac{1}{4}\alpha)^2 \end{cases}$$

$$(\cos.\tfrac{1}{2}\alpha+2\sin.\tfrac{1}{2}\alpha): \begin{cases} 2(\cos.\frac{1}{4}\alpha+\sin.\frac{1}{4}\alpha)^2 \\ \overline{2\sin.(45^0+\frac{1}{4}\alpha)^2} \end{cases}$$

Beweis.

Es ist $S:U \overset{=}{<} (\cos.\tfrac{1}{2}\alpha+2\sin.\tfrac{1}{2}\alpha):\overline{2\sin.(45^0+\tfrac{1}{4}\alpha)^2}$

also erreicht die Linie UN den Kreisbogen über Ax, wie aus der Determ. hervorgehet.

Ferner ist, verm. Apoll. de sect. det. Buch I. Aufg. 3. Fall 2. Bew., U.Bx: $\begin{cases} Ax.xC \\ Ax(S-Ax) \end{cases} = PA : \begin{cases} AQ \\ AH \end{cases}$

also $2U.Bx : \begin{cases} \frac{1}{2}Ax(S-Ax) \\ \triangle ANx \end{cases} = \begin{cases} 4PA:AH \\ 4Wy:yN, \end{cases}$ wenn WN $=Nx$ und $NyW=R$;

$2U(\frac{1}{2}U-Ax)$

$U^2-2U.Ax$

$(U-Ax)^2-Ax^2$

$= (AN+Nx)^2 - Ax^2 : \triangle AxN$ (Dat. 76.)

folglich $(U-Ax)^2 - Ax^2 = (AN+Nx)^2 - Ax^2$

mithin $(U-Ax)^2 = (AN+Nx)^2$

somit $U-Ax = AN+Nx$

demnach $U = AN+Nx+Ax$.

Da auch $ANx = \alpha$, $Ax+xU = Ax+xC = AC = S$, so ist $\triangle ANx$ das verlangte.

Zusatz.

Es erhellet von selbst, dafs es im Fall eines Durchschnittes ein zweites Dreieck mit den gegebenen Eigenschaften giebt.

Aufgabe 26. (*Fig.* 20.)

Ein Dreieck zu beschreiben, in welchem der Winkel der Spitze einem gegebenen Winkel, die Summe der Grundlinie und Höhe, und der Ueberschufs der Schenkelsumme über die Grundlinie den gegebenen geraden Linien S, d gleich seyen.

Analysis.

Bezeichnet man die Grundlinie mit x, also die Schenkelsumme mit $d+x$, und die Höhe mit $S-x$, so ist verm. Dat. 76. das Verhältnifs

$$(d+x)^2 - x^2 : x\frac{S-x}{2}$$

also $(d+x)^2 - x^2 : x(S-x)$

d^2+2dx

$2d(\frac{1}{2}d+x)$

d. i. $2d.Ax : Bx.xC$ gegeben, wenn AB

$=\frac{1}{2}d$, $Bx=x$, $BC=S$ gesetzt wird, folglich ist, verm. Apoll. de sect. det. Buch I. Aufg. 3. Fall 3., der Punkt x, somit Bx und das ganze Dreieck gegeben.

Aufgabe 27. (*Fig.* 21.)

Ein Dreieck zu beschreiben, in welchem der Winkel der Spitze einem gegebenen Winkel, die Summe der Grundlinie und Höhe, und der Ueberschufs der Grundlinie über die Schenkeldifferenz den gegebenen geraden Linien S, d gleich seyen.

Analysis.

Bezeichnet man die Grundlinie mit x, also die Höhe mit $S-x$, und die Schenkeldifferenz mit $x-d$, so ist verm. Dat. 76. Zus. das Verhältnifs

$$x^2-(x-d)^2 : \frac{x(S-x)}{2}$$

folglich $\left.\begin{matrix} x^2-(x-d)^2 \\ 2dx-d^2 \\ 2d(x-\frac{1}{2}d) \end{matrix}\right\} : x(S-x)$

d. i. $2A.Bx : Ax.xC$ } gegeben, wenn $AB=\frac{1}{2}d$, $AC=S$, $Ax=x$ gesetzt wird, mithin ist, verm. Apoll. de sect. det. Buch I. Aufg. 3. Fall 2., der Punkt x, somit Ax und das Dreieck gegeben.

Aufgabe 28.

Ein Dreieck zu beschreiben, in welchem der Winkel der Spitze einem gegebenen Winkel, die Summe der Grundlinie und Höhe der gegebenen geraden Linie S, das Verhältnifs der Schenkelsumme zu der Grundlinie dem gegebenen Verhältnifse $p:q$ gleich sey.

Aufgabe 29.

Analysis.

Bezeichnet man die Grundlinie mit x, also die Schenkelsumme mit $\frac{p}{q}x$, und die Höhe mit S—x, so ist verm. Dat. 76. das Verhältnifs

$$\frac{(\frac{p}{q}x)^2 - x^2 : \frac{x(S-x)}{2}}{\left.\begin{array}{l}\text{also } (\frac{p}{q}x)^2 - x^2 : x(S-x) \\ \frac{p^2-q^2}{q^2}x : S-x\end{array}\right\} \text{gegeben}}$$

$$\text{also auch } x : S-x$$

$$\text{folglich } x : S$$

somit die Grundlinie x und das ganze Dreieck gegeben.

Aufgabe 29.

Ein Dreieck zu beschreiben, in welchem der Winkel der Spitze einem gegebenen Winkel, die Summe der Grundlinie und Höhe der gegebenen geraden Linie S, das Verhältnifs der Schenkeldifferenz zur Grundlinie dem gegebenen Verhältnisse p : q gleich sey.

Analysis.

Bezeichnet man die Grundlinie mit x, also die Differenz der Schenkel mit $\frac{p}{q}x$, und die Höhe mit S—x, so ist verm. Dat. 76. Zus. das Verhältnifs

$$\frac{x^2 - (\frac{p}{q}x)^2 : \frac{x(S-x)}{2}}{\left.\begin{array}{l}\text{also } x^2 - (\frac{p}{q}x)^2 : x(S-x) \\ \frac{q^2-p^2}{q^2}x : S-x\end{array}\right\} \text{gegeben}}$$

folglich $x : S-x$

somit $x : S$

mithin die Grundlinie x, und das ganze Dreieck gegeben.

Aufgabe 30. (*Fig.* 22.)

Ein Dreieck zu beschreiben, in welchem der Winkel der Spitze dem gegebenen Winkel α, welcher $< R$, die Summe der Grundlinie und Höhe der gegebenen geraden Linie S, die Summe der Quadrate der Schenkelsumme und der Grundlinie dem Quadrate der gegebenen geraden Linie α gleich sey.

Analysis.

Bezeichnet man die Grundlinie mit x, also das Quadrat der Schenkelsumme mit a^2-x^2, die Höhe mit $S-x$, so ist verm. Dat. 76. das Verhältnifs

$$a^2-2x^2 : x\frac{(S-x)}{2}$$

mithin $a^2-2x^2 : x(S-x)$

also auch $a^2-2x^2 : 2Sx-2x^2$

folglich $a^2-2x^2 : a^2-2Sx$ gegeben.

Bestimmt man die gerade Linie h so, dafs

$$a^2 : h^2 = a^2-2x^2 : a^2-2Sx$$

so ist $2x^2 : \begin{cases} 2Sx-(a^2-h^2) \\ 2S(x-k) \end{cases} = a^2-2x^2 : a^2-2Sx$ wenn $a^2-h^2=2Sk$

$x^2 : S(x-k)$

d. i. $Ax^2 : S.Bx$ wenn $AB=k$, $Ax=x$ gesetzt wird;

also ist das Verhältnifs $Ax^2 : S.Bx$ gegeben; mithin ist

verm. Apoll. de sect. det. Buch I. Auf. 2. Fall 2. a. der Punkt x, somit Ax und das ganze Dreieck gegeben.

Construction.

Man mache UDE=α, verlängere UD, nehme AD =DE, ziehe AE, mache AFD=R, GF=FD, AK=a, beschreibe über AF einen Halbkreis, nehme AGH=R, bezeichne mit H den Durchschnitt des Kreises und der Linie GH, ziehe FH, KL∥TH, mache ML=a=LN, ziehe durch A die gerade Linie OT∥GH, nehme AP =S=PO=Aβ, ANB=AOM, VA=AG, FT∥PV, TS ∥AF, ST=TA, RA=AB, beschreibe über der geraden Linie RS einen Halbkreis, welcher der Linie AT in x begegne, beschreibe über Ax einen Kreisabschnitt, welcher des Winkels α fähig sey, mache βxW=R, WX =xβ, WC∥AB, und ziehe den Punkt C, in welchem WC dem Kreisbogen über Ax begegnet, mit A, x zusammen, so ist △ACx das verlangte.

Determination.

Vermöge Apoll. de sect. det. Buch I. Aufg. 2. Fall 2. a. Det. muſs, damit der Kreis über RS der Linie AF begegne, seyn

$$\left.\begin{matrix} VA \\ GA \\ AF-FD \end{matrix}\right\} : AF \left\{\begin{matrix} = \\ < \end{matrix}\right. \left.\begin{matrix} PA \\ S \end{matrix}\right\} : 4AB$$

$$1-\tan.\tfrac{1}{2}\alpha : 1$$

(Diesterwegs Trigonom. Lehrs. 11. Zus. 2.)

Es ist OA : AM = NA : AB (El. VI. 4.)

also $OA \cdot AB = \left\{\begin{matrix} MA \cdot AN \\ ML^2 \\ a^2 \end{matrix}\right.$ (El. VI. 16.) $-LA^2$ (El. II. 5.)

Ferner ist $KA^2 : AL^2 = \left\{\begin{matrix} a^2 \\ FA^2 \end{matrix}\right. : \left\{\begin{matrix} AH^2 \\ FA : \left\{\begin{matrix} AG \\ AF - FD \end{matrix}\right. \end{matrix}\right.$ (El. VI. 2. 22.) (El. VI. 20. Zus. 2.)

$1 : 1 - \tan.\frac{1}{2}\alpha$

also $AL^2 = a^2(1 - \tan.\frac{1}{2}\alpha)$

folglich $OA.AB = a^2 - a^2(1 - \tan.\frac{1}{2}\alpha)$

$2S.AB = a^2 \tan.\frac{1}{2}\alpha$

mithin $AB = \frac{a^2 \tan.\frac{1}{2}\alpha}{2S}$

demnach mufs seyn $1 - \tan.\frac{1}{2}\alpha : 1 = S : \frac{2a^2 \tan.\frac{1}{2}\alpha}{S}$

$< S^2 : 2a^2 \tan.\frac{1}{2}\alpha$

also $1 - \tan.\frac{1}{2}\alpha : \frac{1}{2}\cot.\frac{1}{2}\alpha = S^2 : a^2$

d. i. $\frac{\sqrt{2}\sin.(45^0 - \frac{1}{2}\alpha) \cos.\frac{1}{2}\alpha}{\cos.\frac{1}{2}\alpha} : \frac{2}{2} < S^2 : a^2$

folglich $2\sqrt{2}.\sin.(45^0 - \frac{1}{2}\alpha)\sin.\frac{1}{2}\alpha : \cos.\frac{1}{2}\alpha^2 < S^2 : a^2$.

Damit WC den über Ax beschriebenen Kreisbogen erreiche, mufs $Wx \left\{\begin{matrix} = \\ < \end{matrix}\right. \left\{\begin{matrix} YZ \\ px \end{matrix}\right.$ seyn, wenn YZ die Höhe des Kreisabschnittes über Ax bezeichnet.

$S - Ax$

Es ist $VA \left\{\begin{matrix} GA \\ AF - FD \end{matrix}\right. : AF = PA : AT$

S

$1 - \tan.\frac{1}{2}\alpha : 1$

also $AT = \frac{S}{1 - \tan.\frac{1}{2}\alpha}$

$$\left.\begin{array}{l} \text{also } BA : AT \\ Ax : xT \\ \frac{1}{4}AT^2 - \gamma x^2 \\ \frac{S^2}{4(1-\tan.\frac{1}{2}\alpha)^2} \end{array}\right\} = \frac{a^2\tan.\frac{1}{2}\alpha}{2S} \cdot \frac{S}{1-\tan.\frac{1}{2}\alpha} = \frac{a^2\tan.\frac{1}{2}\alpha}{2(1-\tan.\frac{1}{2}\alpha}, \text{ wenn } A\gamma = gT$$

(Apoll. de sect. det. Lehns. B. pag. 7.) (El. II. 5.)

$$\text{folglich } \left.\begin{array}{l} \frac{S2}{4(1-\tan.\frac{1}{2}\alpha)^2} - \frac{2a^2\tan.\frac{1}{2}\alpha(1-\tan.\frac{1}{2}\alpha)}{4(1-\tan.\frac{1}{2}\alpha)^2} \\ \frac{S^2-2a^2\tan.\frac{1}{2}\alpha(1-\tan.\frac{1}{2}\alpha)}{4(1-\tan.\frac{1}{2}\alpha)^2} \end{array}\right\} = \gamma x^2$$

$$\text{mithin } \frac{\sqrt{S^2-2a^2\tan.\frac{1}{2}\alpha(1-\tan.\frac{1}{2}\alpha)}}{2(1-\tan.\frac{1}{2}\alpha)} = \gamma x$$

$$\text{demnach } Ax(=A\gamma-\gamma x) = \frac{S}{2(1-\tan.\frac{1}{2}\alpha)} - \frac{\sqrt{S^2-2a^2\tan.\frac{1}{2}\alpha(1-\tan.\frac{1}{2}\alpha)}}{2(1-\tan.\frac{1}{2}\alpha)}$$

$$= \frac{S-\sqrt{S^2-2a^2\tan.\frac{1}{2}(1-\tan.\frac{1}{2}\alpha)}}{2(1-\tan.\frac{1}{2}\alpha)}$$

$$\text{somit } \left.\begin{array}{l} \frac{1}{2}Ax \\ Ay \end{array}\right\} = \frac{S-\sqrt{S^2-2a^2\tan.\frac{1}{2}\alpha(1-\tan.\frac{1}{2}\alpha)}}{4(1-\tan.\frac{1}{2}\alpha)}$$

Es ist $AY : YZ = \tan.\frac{1}{2}\alpha : 1$ (Diesterwegs Trigonom. Lehrs. 11. Zus. 2.)

$$\text{also } YZ = \frac{S-\sqrt{S^2-2a^2\tan.\frac{1}{2}\alpha(1-\tan.\frac{1}{2}\alpha)}}{4\tan.\frac{1}{2}\alpha(1-\tan.\frac{1}{2}\alpha)}$$

Folglich muſs seyn

$$\left.\begin{array}{l} S - \frac{S - \sqrt{S^2 - 2a^2\tan.\frac{1}{2}\alpha(1-\tan.\frac{1}{2}\alpha)}}{2(1-\tan.\frac{1}{2}\alpha)} \\ \frac{2S - 2S\tan.\frac{1}{2}\alpha - S + \sqrt{S^2 - 2a^2\tan.\frac{1}{2}\alpha(1-\tan.\frac{1}{2}\alpha)}}{2(1-\tan.\frac{1}{2}\alpha)} \\ \frac{S - 2S\tan.\frac{1}{2}\alpha + \sqrt{S^2 - 2a^2\tan.\frac{1}{2}\alpha(1-\tan.\frac{1}{2}\alpha)}}{2(1-\tan.\frac{1}{2}\alpha)} \end{array}\right\} = S - \sqrt{\frac{S^2 - 2a^2\tan.\frac{1}{2}\alpha(1-\tan.\frac{1}{2}\alpha)}{4\tan.\frac{1}{2}\alpha(1-\tan.\frac{1}{2}\alpha)}}$$

$$< \text{mithin } (1+2\tan.\tfrac{1}{2}\alpha)\sqrt{S^2 - 2a^2\tan.\tfrac{1}{2}\alpha(1-\tan.\tfrac{1}{2}\alpha)}$$

$$\leqq \begin{cases} S(1-2(1-2\tan.\frac{1}{2}\alpha)\tan.\frac{1}{2}\alpha) \\ S(4\tan.\frac{1}{2}\alpha^2 + 1 - 2\tan.\frac{1}{2}\alpha) \end{cases}$$

somit $(1+2\tan.\frac{1}{2}\alpha)^2(S^2 - 2a^2\tan.\frac{1}{2}\alpha)(1-\tan.\frac{1}{2}\alpha)$

$$\leqq S^2(4\tan.\tfrac{1}{2}\alpha^2 + 2\tan.\tfrac{1}{2}\alpha + 1)^2$$

demnach $\left.\begin{array}{l} S^2((1+2\tan.\frac{1}{2}\alpha)^2 - (4\tan.\frac{1}{2}\alpha^2 - 2\tan.\frac{1}{2}\alpha + 1)^2) \\ S^2(2+4\tan.\frac{1}{2}\alpha^2)(4\tan.\frac{1}{2}\alpha - 4\tan.\frac{1}{2}\alpha^2) \\ 2S^2(1+2\tan.\frac{1}{2}\alpha^2)(1-\tan.\frac{1}{2}\alpha)4\tan.\frac{1}{2}\alpha \end{array}\right\}$

$$\leqq 2a^2\tan.\tfrac{1}{2}\alpha(1-\tan.\tfrac{1}{2}\alpha)(1+2\tan.\tfrac{1}{2}\alpha)^2$$

folglich $4S^2(1+2\tan.\frac{1}{2}\alpha^2) \leqq a^2(1+2\tan.\frac{1}{2}\alpha)^2$

mithin $4S^2 : a^2 \leqq (1+2\tan.\frac{1}{2}\alpha)^2 : 1+2\tan.\frac{1}{2}\alpha^2$

somit $S^2 : a^2 \leqq \left(\frac{1+2\tan.\frac{1}{2}\alpha}{2}\right)^2 : 1+2\tan.\frac{1}{2}\alpha^2$

Beweis.

Es ist $2\sqrt{2\sin.(45^0-\frac{1}{2}\alpha)\sin.\frac{1}{2}\alpha} : \overline{\cos.\frac{1}{2}\alpha}^2 \overset{=}{<} S^2 : a^2$ (Det.) also berührt, oder schneidet der Kreis über RS die Linie AT.

Da $\left(\frac{1+2\tan.\frac{1}{2}\alpha}{2}\right)^2 : 1+2\overline{\tan.\frac{1}{2}\alpha}^2 \overset{=}{>} S^2 : \alpha^2$ so berührt, oder schneidet die Linie WC den Kreis über Ax.

$$\left.\begin{array}{l} \text{Ferner ist } Ax^2 : S.Bx \\ \quad Ax^2 : S.(Ax-AB) \\ 2Ax^2 ; 2S.Ax - \left\{\begin{array}{l} 2S.AB \\ OA.AB \\ MA.AN \\ a^2-LA^2 \end{array}\right\} \end{array}\right\} = \left\{\begin{array}{l} FA : \left\{\begin{array}{l} AV \\ AG \end{array}\right. \\ FA^2 : AH^2 \\ a^2 : AL^2 \end{array}\right.$$

(Apoll. de sect. det. Buch I. Aufg. 2. Fall 2. a. Bew.)

also $a^2-2Ax^2 : a^2-2S.Ax = FA : AG$

folglich

$a^2-2Ax^2 ; 2S.Ax-2Ax^2 = AF : FD$

mithin

$$a-2Ax^2 : \left\{\begin{array}{l} S.Ax-Ax^2 \\ Ax(S-Ax) \end{array}\right\} = \left\{\begin{array}{l} 2AF ; FD \\ 2IQ : QC, \text{ wenn } IW = Wx, \\ \qquad\qquad \text{und } CQI = R; \\ (AC+Cx)^2-Ax^2 ; 2\triangle ACx \end{array}\right.$$

somit $a^2-2Ax^2 = (AC+Cx)^2-Ax^2$

demnach $a^2 = (AC+Cx)^2+Ax^2$.

Da auch $ACx = \alpha$, $Ax+xW = Ax+x\beta-S$, so ist $\triangle ACx$ das verlangte.

Zusatz 1.

Es erhellet von selbst, dafs im Fall eines Durchschnittes den zweite Durchschnitt der Linie WC mit dem Kreisbogen über Ax ein zweites Dreieck mit den gegebenen Eigenschaften bestimmt.

Zusatz 2.

Der zweite Durchschnitt des Kreises über RS mit AT bestimmt ein Dreieck, in wechem der Ueberschufs der Grundlinie über die Höhe =S.

Aufgabe. 31. (*Fig.* 22.)

Ein Dreieck zu beschreiben, in welchem der Winkel der Spitze einem gegebenen Winkel, die Summe der Grundlinie und Höhe der gegebenen geraden Linie S, die Summe der Quadrate der Schenkeldifferenz und der Grundlinie dem Quadrate der gegebenen geraden Linie a gleich sey.

Analysis.

Bezeichnet man die Grundlinie mit x, also das Quadrat der Schenkeldifferenz mit a^2-x^2, und die Höhe mit S—x, so ist verm. Dat. 76. Zus. das Verhältnifs

$$2x^2-a^2 ; \frac{x(S-x)}{2}$$

mithin $2x^2-a^2 : x(S-x)$

also auch $2x^2-a^2 : 2Sx-2x^2$

folglich $2x^2-a^2 : 2Sx-a^2$, gegeben.

Bestimmt man die gerade Linie h so, dafs:

$$ax : h^2 = 2x^2-a^2 : 2Sx-a^2$$

so ist $2x^2 : \left\{\begin{matrix} 2Sx+ \\ \\ \end{matrix}\right. \left\{\begin{matrix} h^2-a^2 \\ 2S.k \end{matrix}\right\} = 2x^2-a^2 : 2Sx-a^2$ wenn $2Sk=h^2-a^2$;

$\left.\begin{matrix} \\ 2S(x+k) \end{matrix}\right\}$

$x^2 : S(x+k)$

d. i. $Bx^2 : S.Ax$ wenn $AB=k$, $Bx=x$ gesetzt wird; folglich ist, verm. Apoll. de sect.det. Buch I. Aufg. 2. Fall, 2. der Punkt x, somit Bx und das Dreieck gegeben.

Aufgabe 32.

Ein Dreieck zu beschreiben, in welchem der Winkel der Spitze einem gegebenen Winkel, die Summe der Grundlinie und Höhe der gegebenen geraden Linie S, der Ueberschufs des Quadrates der Schenkelsumme über das Quadrat der Grundlinie dem Quadrate der gegebenen geraden Linie d gleich sey.

Analysis.

Bezeichnet man die Grundlinie mit x, also das Quadrat der Schenkelsumme mit d^2+x^2 und die Höhe mit S—x, so ist verm. Dat 76. das Verhältnifs

$$\frac{d^2+x^2-x^2 : \frac{x(S-x)}{2}}{d^2}$$

also $d^2 : x(S-x)$ gegeben,

folglich ist x(S—x) und da x+S—x=S, auch x (Dat. 86.), somit das Dreieck gegeben.

Aufgabe 33.

Ein Dreieck zu beschreiben, in welchem der Winkel der Spitze einem gegebenen Winkel, die Summe

der Grundlinie und Höhe der gegebenen geraden Linie S, der Ueberschuſs des Quadrates der Grundlinie über das Quadrat der Schenkeldifferenz dem Quadrate der gegebenen geraden Linie d gleich sey.

Analysis.

Bezeichnet man die Grundlinie mit x, also das Quadrat der Schenkeldifferenz mit x^2-d^2, die Höhe mit S—x, so ist, verm. Dat. 76. Zus. das Verhältniſs

$$\left.\begin{matrix} x^2-x^2+d^2 \\ d^2 \end{matrix}\right\} : \frac{x(S-x)}{2}$$

also $d^2 : x(S-x)$ gegeben, folglich ist $x(S-x)$, und da $x+S-x=S$, die Linie x (Dat. 86.), somit das Dreieck gegeben.

Aufgabe 34. (*Fig.* 23.)

Ein Dreieck zu beschreiben, in welchem der Winkel der Spitze einem gegebenen Winkel, die Summe der Grundlinie und Höhe der gegebenen geraden Linie S, und die Summe der Quadrate der Schenkel dem Quadrate der gegebenen geraden Linie a gleich sey.

Analysis.

Bezeichnet man die Grundlinie mit x, also die Höhe mit S—x, so ist verm. Dat. 76. das Verhältniſs

$$a^2-x^2 : \frac{x(S-x)}{2}$$

also $a^2-x^2 : x(S-x)$

d. i. $Ax \cdot xC : Bx \cdot xD$ } gegeben wenn AB $=BC=a$, $Bx=x$, $CB=S$ gesetzt wird; also ist, verm.

Apoll. de sect. det. Buch II. Aufg. 2. Fall 2., der Punkt x, somit Bx und das ganze Dreieck gegeben.

Aufgabe 35. (*Fig.* 24.)

Ein Dreieck zu beschreiben, in welchem der Winkel der Spitze dem gegebenen Winkel α, welcher $> R$, die Summe der Grundlinie und Höhe der gegebenen geraden Linie S, die Summe der Quadrate aller Seiten dem Quadrate der gegebenen geraden Linie a gleich sey.

Analysis.

Bezeichnet man die Grundlinie mit x, also die Summe der Quadrate der Schenkel mit a^2-x^2, die Höhe mit S—x, so ist, verm. Dat. 74. $x^2-a^2+x^2 \left\{ : \frac{x(S-x)}{2} \right.$

$$2x^2-a^2$$

also $2x^2-a^2 : x(S-x)$

folglich $2x^2-a^2 : 2Sx-2x^2$

mithin $2x^2-a^2 : 2Sx-a^2$ gegeben. Bestimmt man die gerade Linie h so, dafs

$$a^2 : h^2 = 2x^2-a^2 : 2Sx-a^2$$

so ist $2x^2 : \left\{ \begin{matrix} 2Sx-a^2+h^2 \\ 2S(x+k) \end{matrix} \right\}$ wenn $h^2-a^2 = 2Sk$;

$x^2 : S(x+k)$

d. i. $Bx^2 : S.Ax$ } gegeben, wenn $AB = k$;

Bx=x gesetzt wird; demnach ist verm. Apoll. de sect. det. Buch I. Aufg. 2. Fall 2. b., der Punkt x, somit die gerade Linie Bx und das ganze Dreieck gegeben.

Construction.

Man mache DCT$=\alpha$, DEC$=$R, FE$=$ED, beschreibe über CF einen Halbkreis, dessen Umfang der Verlängerung von DE in G begegne, ziehe die gerade Linie CG, nehme BC$=$a, BH$\#$DE, verlängere BH bis zum Durchschnitt mit der verlängerten CG in H, mache MB$=$BS$=$ST$=$S, ziehe die gerade Linie TH, errichte in H auf TH ein die verlängerte EB in A schneidendes Perpendikel, mache ABK$=$R, QE$=$EC, QL$\#$BE, DK$\#$BQ, LO$\#$MK, BOP$=$R, PO$=$QB, NB$=$BA, beschreibe über der geraden Linie PN einen Halbkreis, dessen Umfang die Verlängerung von AB in x schneide, und über der Linie Bx einen des Winkels α fähigen Kreisabschnitt, mache BxR$=$R, Bx$=$xS, RU$\#$AB, und verbinde den Punkt U, in welchem RU mit dem Kreisbogen über Bx zusammentrifft, mit B, x durch gerade Linien, so ist $\triangle$BUx das verlangte.

Determination.

Damit RU mit dem über Bx beschriebenen Kreisbogen zusammentreffe, mufs, wenn By$=$yx, Byz$=$R, und z der Durchschnitt der Linie yz mit dem Bogen ist, seyn RE $\left\{\begin{matrix}=\\>\end{matrix}\right\}$ yz.

ES

S—Bx

Es ist KB : BL $=$ $\left\{\begin{matrix}\text{MB}\\ \text{S}\end{matrix}\right\}$: BO (El. VI. 4.)

DQ : QE

DE + EC : CE

1 + cot.DCE : cot.DCE

1 — cot.α : — cot.α

cot.α — 1 : cot.α

(Diesterwegs Trigon. Lehrs. 11. Zus. 2.)

$$\text{also } BO = \frac{S.\cot.\alpha}{\cot.\alpha - 1}$$

Ferner ist $EC^2 : CG^2 = BC^2 : CH^2$ (El. VI. 4.)

$EC : CF = a^2$ (El. VI. 20. Zus. 2.)

$EC : CE + ED$

$\cot.\alpha : \cot.\alpha - 1$

$$\text{folglich } CH^2 = \frac{(\cot.\alpha - 1)a^2}{\cot.\alpha}$$

$$\text{mithin } CH^2 - CB^2 = \frac{a^2(\cot.\alpha - 1)}{\cot.\alpha} - a^2$$

BH^2

(El. VI. 8. 17.) $TB.BA = \frac{a^2}{\cot.\alpha}$

$2S.BA$

$$\text{somit } AB = -\frac{a^2}{2S\cot.\alpha}$$

$$\text{demnach } AB.BO = -\frac{a^2}{2S\cot.\alpha} \cdot \frac{S\cot.\alpha}{\cot.\alpha - 1}$$

$NB.OP$

$Bx.xO = \frac{a^2}{2(1-\cot.\alpha)}$, wenn $By = yO$;

$yx^2 = \frac{BO^2}{4}$

das ist

$$yx^2 = \frac{S^2\cot.\alpha^2}{4(\cot.\alpha - 1)^2} = \frac{a^2}{2(1-\cot.\alpha)}$$

$$\frac{S^2\cot.\alpha^2}{4(1-\cot.\alpha)^2} = \frac{2a^2(1-\cot.\alpha)}{4(1-\cot.\alpha)^2}$$

$$\text{also } yx = \frac{\sqrt{S^2\cot.\alpha^2 + 2a^2(1-\cot.\alpha)}}{2(1-\cot.\alpha)}$$

folglich $Bx = \frac{S\cot.\alpha}{2(\cot.\alpha-1)} + \frac{\sqrt{S^2\cot.\alpha^2+2a^2(1-\cot.\alpha)}}{2(1-\cot.\alpha)}$

$= \frac{\sqrt{S^2\cot.\alpha^2+2a^2(1-\cot.\alpha)}-S\cot.\alpha}{2(1-\cot.\alpha)}$

somit

$\left.\begin{matrix}\frac{1}{2}Bx \\ By\end{matrix}\right\} = \frac{\sqrt{S^2\cot.\alpha^2+2a^2(1-\cot.\alpha)}-S\cot.\alpha}{4(1-\cot.\alpha)}$

Es ist $BY : YZ = 1 : \cot.\frac{1}{2}\alpha$ (Diesterwegs Trigonom. Lehrs. 11, Zus. 2.)

mithin $YZ = \frac{\cot.\frac{1}{2}\alpha}{4(1-\cot.\alpha)}\left(\sqrt{S^2\cot.\alpha^2+2a^2(1-\cot.\alpha}\right.$

$\left. -S.\cot.\alpha\right)$

demnach muſs seyn

$\left.\begin{matrix}S - \frac{\sqrt{S^2\cot.\alpha^2+2a^2(1-\cot.\alpha)}-S.\cot.\alpha}{2(1-\cot.\alpha)} \\ S(2-\cot.\alpha) - \frac{\sqrt{S^2\cot.\alpha^2+2a^2(1-\cot.\alpha)}}{2(1-\cot.\alpha)}\end{matrix}\right\}$

$= \frac{\cot.\frac{1}{2}\alpha}{<4(1-\cot.\alpha)}\left(\sqrt{S^2\cot.\alpha^2+2a^2(1-\cot.\alpha)}-S\cot.\alpha\right)$

also $2S(2-\cot.\alpha) - 2\sqrt{S^2\cot.\alpha^2+2a^2(1-\cot.\alpha)}$

$= <\cot.\frac{1}{2}\alpha\sqrt{S^2\cot.\alpha^2+2a^2(1-\cot.\alpha)}-S\cot.\alpha.\cot.\frac{1}{2}\alpha)$

folglich $\left.\begin{matrix}S(4-2\cot.\alpha+\cot.\alpha.\cot.\frac{1}{2}\alpha) \\ S(4-\cot.\alpha(2-\cot.\frac{1}{2}\alpha))\end{matrix}\right\}$

$= <(\cot.\frac{1}{2}\alpha+2)\sqrt{S^2\cot.\alpha^2+2a^2(1-\cot.\alpha)}$

mithin $S^2(4-\cot.\alpha(2-\cot.\frac{1}{2}\alpha))^2$

$$\leqq (\cot.\tfrac{1}{2}\alpha+2)^2(S^2\cot.\alpha^2+2a^2(1-\cot.\alpha))$$

somit $S^2((4-\cot.\alpha)(2-\cot.\frac{1}{2}\alpha))^2-\cot.\alpha^2(\cot.\frac{1}{2}\alpha+2)^2\}$
$4S^2(4+2\cot.\alpha.\cot.\frac{1}{2}\alpha)(1-\cot.\alpha)$

$$\leqq 2a^2(1-\cot.\alpha)(\cot.\tfrac{1}{2}\alpha+2)^2$$

also $4S^2(2+\cot.\alpha.\cot.\frac{1}{2}\alpha) \leqq a^2(2+\cot.\frac{1}{2}\alpha)^2$

folglich $S^2:a^2 \leqq \begin{cases} (2+\cot.\frac{1}{2}\alpha)^2 : 4(2+\cot.\alpha.\cot.\frac{1}{2}\alpha) \\ \left(\frac{2+\cot.\frac{1}{2}\alpha}{2}\right)^2 : 2+\cot.\alpha.\cot.\frac{1}{2}\alpha \\ (1+\frac{1}{2}\cot.\frac{1}{2}\alpha)^2 : 2+\cot.\alpha.\cot.\frac{1}{2}\alpha. \end{cases}$

Beweis.

Es ist $S^2:a^2 \leqq (+\frac{1}{2}\cot.\frac{1}{2}\alpha)^2 : 2+\cot.\alpha\cot.\frac{1}{2}\alpha$, also erreicht die Linie RU den Kreisbogen über Bx.

Ferner ist S . Ax : Bx^2 = KB : BL (Apoll. de sect. det. B. I A. 2. F. 2. 1. Bew.)

also $Bx^2 : S.(AB+Bx) = LB : BK$

$2Bx^2 : \begin{cases} 2S.AB \\ BH^2 \\ HC^2 - \begin{cases} CB^2 \\ a^2 \end{cases} \end{cases} + 2S.Bx \Big\} \begin{cases} EQ : QD \\ EC : CF \\ EC^2 : CG^2 \\ a^2 : CH^2 \end{cases}$ C)

folglich $2Bx^2-a^2 : 2S.Bx-a^2 = EC : CF$

mithin $2Bx^2-a^2 : 2S.Bx-2Bx^2 = CE : \begin{cases} EF \\ ED \end{cases}$

somit $2Bx^2-a^2 : \frac{(S-Bx)Bx}{2} = 4CE : ED$

$= 4UW : Wx$, wenn $xW \perp UB$;

$= Bx^2-(BU^2+Ux^2) : \triangle BUx$ (Dat. 47.)

demnach $2Bx^2 - a2 = Bx^2 - (BU^2 + Ux^2)$

also $Bx^2 + Ux^2 + BU^2 = a^2$

Da auch $BUx = \alpha$, $Bx + xR = Bx + xS = S$, so ist $\triangle BUx$ das verlangte.

Zusatz 1.

Es erhellet von selbst, dafs es im Fall eines Durchschnittes zwey Dreiecke mit den gegebenen Eigenschaften giebt.

Zusatz 2.

Der zweite Durchschnitt des Kreises über PN mit C bestimmt ein Dreieck mit einer verwandten Eigenschaft.

Aufgabe 36.

Ein Dreieck zu beschreiben, in welchem der Winkel der Spitze einem gegebenen Winkel, die Summe der einschliefsenden Seiten der gegebenen geraden Linie S, und der Flächenraum dem Quadrate der gegebenen geraden Linie a gleich sey.

Analysis.

Bezeichnet man die Grundlinie mit x, so ist vermöge Dat. 76. das Verhältnifs $S^2 - x^2 : a^2$ gegeben, also $S^2 - x^2$, folglich x^2, somit x und das ganze Dreieck gegeben.

Aufgabe 37.

Ein Dreieck zu beschreiben, in welchem der Winkel der Spitze einem gegebenen Winkel, die Summe

der Grundlinie und Höhe der gegebenen geraden Linie S, und der Ueberschufs der Summe der Quadrate der Schenkel über das Quadrat der Grundlinie, oder der Ueberschufs des Quadrates der Grundlinie über die Summe der Quadrate der Schenkel (je nachdem der gegebene Winkel $\gtrless$ R) dem Quadrate der gegebenen geraden Linie d gleith sey.

Analysis.

Bezeichnet man die Grundlinie mit x, also die Höhe mit S—x, so ist vermöge Dat. 74. oder 75. das Verhältnifs $d^2 : \frac{x(S-x)}{2}$ gegeben, also x(S—x), und da x+S —x=S gegeben ist, x, somit das Dreieck gegeben.

Aufgabe 38.

Ein Dreieck zu beschreiben, in welchem der Winkel der Spitze einem gegebenen Winkel, die Summe der Grundlinie und Höhe der gegebenen geraden Linie S, und das Verhältnifs der Summe der Quadrate der Schenkel zu dem Quadrate der Grundlinie dem gegebenen Verhältnifse p:q gleich sey.

Analysis.

Bezeichnet man die Grundlinie mit x, also die Summe der Quadrate der Schenkel mit $\frac{p}{q}x^2$, und die Höhe mit S—x, so ist vermöge Dat 74. das Verhältnifs $\frac{p}{q}x^2 - x^2 : \frac{x(S-x}{2}$, oder vermöge Dat. 75. das Verhältnifs $x^2 - \frac{p}{q}x^2 : \frac{x(S-x)}{2}$ gegeben, je nachdem der gegebene Winkel $\gtrless$ R, und also auch p $\lessgtr$ q ist.

Folglich ist $\frac{p-q}{q}x : S-x$, oder $\frac{q-p}{q}x : S-x$

mithin $x : S-x$

somit $x : S$, also x und das ganze Dreieck gegeben.

Anmerkung.

Setzt man in den vorhergehenden 17 Aufgaben Differenz der Grundlinie und Höhe statt Summe der Grundlinie und Höhe, so erhält man eben so viele verwandte Aufgaben, welche sich auf ähnliche Weise behandeln lassen.

Aufgabe 39. (*Fig.* 25.)

Ein Dreieck zu beschreiben, in welchem der Winkel der Spitze dem gegebenen Winkel α, die Summe der einschliefsenden Seiten der gegebenen geraden Linie S, das Perpendikel von der Spitze auf die Grundlinie der gegebenen geraden Linie h gleich sey.

Analysis.

Bezeichnet man die Grundlinie mit x, so ist verm. Dat. 76. das Verhältnifs $S^2-x^2 : hx$

d. i. $Ax . xC : h . Bx$ } gegeben, wenn $AB=BC=S$, $Bx=x$ gesetzt wird, folglich ist, verm. Apoll. de sect. det. Buch I. Aufg. 3. Fall 2., der Punkt x, somit Bx und das ganze Dreieck gegeben.

Construction.

Man mache $UPH=\alpha$, $HP=PK$, ziehe die gerade Linie HK, mache $PAK=R$, verlängere PA um die gerade Linie $QA=2AK$, mache $AB=BC=S$, $AD=h$, $QE \# DP$, bezeichne den Durchschnitt der Linien QE,

AC mit E, nehme AEF=R=ECG auf verschiedenen Seiten von EC, ziehe die gerade Linie FG, beschreibe über derselben einen Halbkreis, dessen Umfang der Linie BA in x begegne, beschreibe über der Linie Bx einen Kreisabschnitt, welcher des Winkels α fähig ist, nehme LA=AD, LM∥AB, und verknüpfe den Durchschnitt der Linie LM und des über Bx liegenden Kreisbogens mit B, x durch die geraden Linien BM, Mx, so ist △BMx das verlangte.

Determination.

Damit LM den über Bx liegenden Kreisbogen erreiche, mufs, wenn BT=Tx, BTZ=R gemacht, und der Durchschnitt der Linie TZ mit dem Bogen durch Z bezeichnet wird, seyn $AL \left\{ \begin{matrix} = \\ < \\ h \end{matrix} \right\} TZ$.

Es ist $PA : AQ \left\{ \begin{matrix} = \\ PA : 2AK \\ 1 : 2\cot.\frac{1}{2}\alpha \end{matrix} \right\} DA \left\{ \begin{matrix} \\ \\ h \end{matrix} \right\} : AE$ (El. VI. 4.) (Diest. Trig. Lehrs. 11. Zus. 2.)

also $AE = 2h\cot.\frac{1}{2}\alpha$.

Ferner ist $Cx \cdot xE \left\{ \begin{matrix} = EF \cdot CG \text{ (Apoll. de sect. det. Lehns. A. p. 5.)} \\ Vx^2 - VE^2 = AE \cdot CB, \text{ wenn } EV = VC \text{ (El. II. 6.);} \\ Vx^2 - \left(\frac{CA - AE}{2}\right)^2 = 2hS\cot.\frac{1}{2}\alpha \\ Vx^2 - \left(\frac{2S - 2h\cot.\frac{1}{2}\alpha}{2}\right)^2 \\ Vx^2 - (S - h\cot.\frac{1}{2}\alpha)^2 \end{matrix} \right.$

also $Vx^2 = 2hS\cot.\frac{1}{2}\alpha + S^2 - 2hS\cot.\frac{1}{2}\alpha + h^2\cot.\frac{1}{2}\alpha^2$
$= S^2 + h^2\cot.\frac{1}{2}\alpha^2$

folglich $Cx = \sqrt{S^2 + h^2\cot.\frac{1}{2}\alpha^2} + S - h\cot.\frac{1}{2}\alpha$

demnach $Bx = \sqrt{S^2 + h^2 \cot.\frac{1}{2}\alpha^2} - h\cot.\frac{1}{2}\alpha$

somit $BT = \frac{1}{2}\sqrt{S^2 + h^2 \cot.\frac{1}{2}\alpha^2} - \frac{1}{2}h\cot.\frac{1}{2}\alpha$

Es ist aber $BT : TZ = 1 : \cot.\frac{1}{2}\alpha$

also ist $\frac{1}{2}\sqrt{S^2 + h^2 \cot.\frac{1}{2}\alpha^2} - \frac{1}{2}h\cot.\frac{1}{2}\alpha : TZ = 1 : \cot.\frac{1}{2}\alpha$

folglich muſs seyn

$$\frac{1}{2}\sqrt{S^2 + h^2 \cot.\frac{1}{2}\alpha^2} - \frac{1}{2}h\cot.\frac{1}{2}\alpha : h \gtrless 1 : \cot.\frac{1}{2}\alpha$$

mithin $h \lessgtr \frac{1}{2}\cot.\frac{1}{2}\alpha(\sqrt{S^2 + h^2 \cot.\frac{1}{2}\alpha^2} - h\cot.\frac{1}{2}\alpha)$

somit $(2 + \cot.\frac{1}{2}\alpha^2)h \lessgtr \cot.\frac{1}{2}\alpha\sqrt{S^2 + h^2 \cot.\frac{1}{2}\alpha^2}$

also $h^2(4 + 4\cot.\frac{1}{2}\alpha^2 + \cot.\frac{1}{2}\alpha^4) \gtrless \cot.\frac{1}{2}\alpha^2(S^2 + h^2\cot.\frac{1}{2}\alpha^2)$

folglich $\left.\begin{matrix} 4h^2(1 + \cot.\frac{1}{2}\alpha^2) \\ 4h^2 \operatorname{cosec}.\frac{1}{2}\alpha^2 \end{matrix}\right\} \lessgtr S^2 \cot.\frac{1}{2}\alpha^2$

mithin $2h\operatorname{cosec}.\frac{1}{2}\alpha \lessgtr S\cot.\frac{1}{2}\alpha$

somit $2h \lessgtr S\cos.\frac{1}{2}\alpha$

demnach $h : S \lessgtr \cos.\frac{1}{2}\alpha : 2$

Beweis.

Es ist $h : S \lessgtr \cos.\frac{1}{2}\alpha : 2$

also $2h \lessgtr S\cos.\frac{1}{2}\alpha$

folglich $2h\operatorname{cosec}.\frac{1}{2}\alpha \leqq S\cot.\frac{1}{2}\alpha$

mithin $\left.\begin{matrix} 4h^2\operatorname{cosec}.\frac{1}{2}\alpha^2 \\ 4h^2(1+\cot.\frac{1}{2}\alpha^2) \end{matrix}\right\} \geqq S^2\cot.\frac{1}{2}\alpha^2$

somit $\left.\begin{matrix} 4h^2(1+\cot.\frac{1}{2}\alpha^2)+h^2\cot.\frac{1}{2}\alpha^4 \\ h^2(4+4\cot.\frac{1}{2}\alpha^2+\cot.\frac{1}{2}\alpha^4) \end{matrix}\right\} \leqq \cot.\frac{1}{2}\alpha^2(S^2+h^2\cot.\frac{1}{2}\alpha^2)$

demnach $h(2+\cot.\frac{1}{2}\alpha^2) \leqq \cot.\frac{1}{2}\alpha\sqrt{S^2+h^2\cot.\frac{1}{2}\alpha^2}$

also $h(1+\frac{1}{2}\cot.\frac{1}{2}\alpha^2) \leqq \frac{1}{2}\cot.\frac{1}{2}\alpha\sqrt{S^2+h^2\cot.\frac{1}{2}\alpha^2}$

folglich $h \leqq \frac{1}{2}\cot.\frac{1}{2}\alpha(\sqrt{S^2+h^2\cot.\frac{1}{2}\alpha^2}-h\cot.\frac{1}{2}\alpha)$

mithin $\frac{1}{2}\sqrt{S^2+h^2\cot.\frac{1}{2}\alpha^2}-\frac{1}{2}h\cot.\frac{1}{2}\alpha : h$

$= \begin{cases} 1 : \cot.\frac{1}{2}\alpha \\ \frac{1}{2}\sqrt{S^2+h^2\cot.\frac{1}{2}\alpha^2}-\frac{1}{2}h\cot.\frac{1}{2}\alpha : TZ \end{cases}$ (Det.)

somit $h \leqq TZ$

demnach berührt, oder schneidet die Linie LM den Kreis.

Ferner schneidet, verm. Apoll. de sect. det. Buch I. Aufg. 3. Fall 2., der Kreis über GF die gerade Linie DC zwischen den Punkten A, B so, dafs

$h.Bx : \left\{\begin{matrix} Ax.xC \\ \left\{\begin{matrix} AB^2 \\ S^2 \end{matrix}\right\} - Bx^2 \end{matrix}\right\} = PA : \begin{cases} AQ \\ 2AK \end{cases}$ (El. II. 5.)

$= MW : 2WY$, wenn $WM = MB$, und $MWB = R$;

$= \left\{\begin{matrix} 2\triangle BMx \\ h.Bx \end{matrix}\right\} : (xM+MB)^2 - Bx^2$ (Dat. 76.)

also $S^2 - Bx^2 = (xM + MB)^2 - Bx^2$

folglich $S = xM + MB$.

Da auch $BMx = \alpha$, $MS = \frac{AL}{h}$, wenn $MSB = R$;

so ist $\triangle BMx$ das verlangte.

Zusatz.

Es erhellet von selbst, dafs es im Fall der Berührung nur ein Dreieck, im Fall des Schneidens zwey Dreiecke mit der gegebenen Eigenschaft giebt.

Aufgabe 40.

Ein Dreieck zu beschreiben, in welchem der Winkel der Spitze einem gegebenen Winkel, die Summe der einschliefsenden Seiten der gegebenen geraden Linie S, der Radius des in das Dreieck zu beschreibenden Kreises der gegebenen geraden Linie r gleich sey.

Analysis.

Bezeichnet man die Grundlinie mit x, also den Umfang mit $S + x$, so ist verm. Dat. 76. das Verhältnifs

$$S^2 - x^2 : \frac{r(S+x)}{2}$$

also $\left.\begin{array}{l} S^2 - x^2 : r(S+x) \\ S - x : r \end{array}\right\}$ gegeben,

folglich $S - x$, somit x und das ganze Dreieck gegeben.

Aufgabe 41.

Ein Dreieck zu beschreiben, in welchem der Winkel der Spitze einem gegebenen schiefen Winkel, die Summe der einschliefsenden Seiten der gegebenen gera-

den Linie S, der Unterschied der Summe der Quadrate der Seiten und des Quadrates der Grundlinie dem Quadrate der gegebenen geraden Linie d gleich sey.

Analysis.

Bezeichnet man das Dreieck mit D, die Grundlinie mit x, also die Summe der Quadrate der Seiten mit $x^2 + d^2$, je nachdem nämlich der gegebene Winkel $\gtrless$ R, so ist entweder vermöge Dat. 74. $\left.\begin{matrix} x^2+d^2-x^2 \\ d^2 \end{matrix}\right\} : D$, oder

verm. Dat. 75. $\left.\begin{matrix} x^2-x^2+d^2 \\ d^2 \end{matrix}\right\} : D$ gegeben.

Da (Dat. 62.) auch das Verhältnifs des Rechteckes der Schenkel zu D gegeben ist, so ist das Verhältnifs von d^2 zu dem Rechtecke der Schenkel, also das Rechteck der Schenkel selbst gegeben (Dat. 2.). Da auch die Summe der Schenkel gegeben ist, so sind (Dat. 56.) die Schenkel selbst, also ist das Dreieck gegeben.

Anmerkung.

Setzt man in den vier vorstehenden Aufgaben statt Summe der einschliefsenden Seiten die Differenz derselben, so bilden sich eben so viele andere auf ähnliche Weise zu behandelnde Aufgaben.

Aufgabe 42.

Ein Dreieck zu beschreiben, in welchem der Winkel der Spitze einem gegebenen Winkel, das Rechteck der einschliefsenden Seiten dem Quadrate der gegebenen geraden Linie α, der Umfang der gegebenen geraden Linie U gleich sey.

Analysis.

Bezeichnet man die Grundlinie mit x, also die Schenkelsumme mit U-x, das Dreieck mit D, so ist das Verhältnifs $(U-x)^2-x^2 : D$ gegeben (Dat. 76.). Da auch das Verhältnifs $D : a^2$ gegeben ist (Dat. 62.), so ist das Verhältnifs $(U-x)^2-x^2 : a^2$, also $U(U-2x)$, folglich $U(U-2x)$

U—2x, mithin x, somit das Dreieck gegeben.

Anmerkung.

Durch diese Aufgabe findet auch die andere ihre Erledigung: aus der Spitze eines der Lage nach gegebenen Winkels, dessen Schenkel in gegebenen Punkten von einem Kreise berührt werden, als Mittelpunkt einen Kreis beschreiben, so dafs eine beiden Kreisen gemeinschaftliche Tangente Segmente auf den Schenkeln jenes Winkels abschneide, welche ein der Gröfse nach gegebenes Rechteck einschliefsen.

Aufgabe 43.

Ein Dreieck zu beschreiben, in welchem der Winkel der Spitze einem gegebenen Winkel, das Rechteck der einschliefsenden Seiten dem Quadrate der gegebenen geraden Linie a, der Ueberschufs der Schenkelsumme über die Grundlinie der gegebenen geraden Linie d gleich sey.

Analysis.

Bezeichnet man die Grundlinie mit x, also die Schenkelsumme mit x+d, das Dreieck mit D, so ist vermöge Dat. 76. das Verhältnifs $(x+d)^2-x^2 : D$ gegeben. Da auch vermöge Dat. 62. das Verhältnifs $D : a^2$ ge-

geben, so ist das Verhältnifs $(x+d)^2-x^2$: a^2 gegeben

$(2x+d)d$

also $(2x+d)d$ (Dat. 2.)

folglich $2x+d$ (Dat. 2.)

mithin x, somit das Dreieck gegeben.

Aufgabe 44.

Ein Dreieck zu beschreiben, in welchem der Winkel der Spitze einem gegebenen Winkel, das Rechteck der einschliefsenden Seiten dem Quadrate der gegebenen geraden Linie a, das Verhältnifs der Schenkelsumme zur Grundlinie dem gegebenen Verhältnifse p : q gleich sey.

Analysis.

Bezeichnet man die Grundlinie mit x, also die Schenkelsumme mit $\frac{p}{q}x$, das Dreieck mit D, so ist vermöge Dat. 76. das Verhältnifs $(\frac{p}{q}x)^2-x^2$; D gegeben. Da verm. Dat. 62. das Verhältnifs D : a^2 gegeben ist, so ist

$(\frac{p}{q}x)^2-x^2$: a^2

$\frac{p^2-q^2}{q^2}x^2$

also auch $x^2 : a^2$

folglich x, somit das Dreieck gegeben.

Aufgabe. 45.

Ein Dreieck zu beschreiben, in welchem der Winkel der Spitze einem gegebenen Winkel, das Rechteck der

einschliefsenden Seiten dem Quadrate der gegebenen geraden Linie a, das Rechteck der Schenkelsumme und Grundlinie dem Quadrate der gegebenen geraden Linie b gleich sey.

Analysis.

Bezeichnet man die Grundlinie mit x, die Schenkelsumme mit y, das Dreieck mit D, so ist vermöge Dat. 76. das Verhältnifs $y^2—x^2 : D$ gegeben. Da verm. Dat. 62. das Verhältnifs $D : a^2$ gegeben ist, so ist das

Verhältnifs $y^2—x^2 : a^2$

folglich $y^2—x^2$ gegeben. Da auch $xy=b^2$, so ist die Aufgabe auf die andere reducirt: die Seiten eines Rechteckes zu finden, wovon der Flächenraum, und der Unterschied der Quadrate der Seiten gegeben ist, welche sich nach Dat. 87. auflösen läfst.

Aufgabe 46.

Ein Dreieck zu beschreiben, in welchem der Winkel der Spitze einem gegebenen Winkel, das Rechteck der Schenkel dem Quadrate der gegebenen geraden Linie a, die Summe der Grundlinie und Schenkeldifferenz der gegebenen geraden Linie S gleich sey.

Analysis.

Bezeichnet man die Grundlinie mit x, also die Schenkeldifferenz mit S—x, das Dreieck mit D, so ist vermöge Dat. 76. das Verhältnifs $x^2—(S—x)^2 : D$ gegeben. Da verm. Dat. 62. auch das Verhältnifs $D : a^2$

also $x^2—(S—x)^2 \} : a^2$
$(2x—S)S \}$

folglich $(2x-S)S$ gegeben ist, so ist (Dat. 2.) $2x-S$, somit x und das ganze Dreieck gegeben.

Aufgabe 47.

Ein Dreieck zu beschreiben, in welchem der Winkel der Spitze einem gegebenen Winkel, das Rechteck der Schenkel dem Quadrate der gegebenen geraden Linie a, der Ueberschufs der Grundlinie über die Schenkeldifferenz der gegebenen geraden Linie d gleich sey.

Analysis.

Bezeichnet man die Grundlinie mit x, also die Schenkeldifferenz mit $x-d$, so ist, wenn das Dreieck mit D bezeichnet wird, verm. Dat. 76. Zus., das Verhältnifs $x^2-(x-d)^2 : D$ gleich einem gegebenen Verhältnifse. Da auch das Verhältnifs $D : a^2$ gegeben ist (Dat. 62.), so ist das Verhältnifs $x^2-(x-d)^2 : a^2$ gegeben

$$\left\{\frac{d(2x-d)}{\text{also ist } d(2x-d)}\right.$$

folglich $2x-d$, mithin x, somit das Dreieck gegeben.

Aufgabe 48.

Ein Dreieck zu beschreiben, in welchem der Winkel der Spitze einem gegebenen Winkel, das Rechteck der Schenkel dem Quadrate der gegebenen geraden Linie a, das Verhältnifs der Schenkeldifferenz zur Grundlinie dem gegebenen Verhältnifse $p : q$ gleich sey.

Analysis.

Bezeichnet man die Grundlinie mit x, also die Schenkeldifferenz mit $\frac{p}{q}x$, das Dreieck mit D, so ist

verm. Dat. 76. Zus. das Verhältniſs $x^2-(\frac{p}{q}x)^2 : D$ gegeben. Da verm. Dat. 62. das Verhältniſs $D:a^2$ gegeben ist,

so ist $\left.\begin{matrix} x^2-(\frac{p}{q}x)^2 \\ \frac{q^2-p^2}{q^2}x^2 \end{matrix}\right\} : a^2$ (Dat. 9.)

also auch $x:a^2$

somit x und das ganze Dreieck gegeben.

Aufgabe 49.

Ein Dreieck zu beschreiben, in welchem der Winkel der Spitze einem gegebenen Winkel, das Rechteck der Schenkel dem Quadrate der gegebenen geraden Linie a, das Rechteck aus der Schenkeldifferenz und der Grundlinie dem Quadrate der gegebenen geraden Linie b gleich sey.

Analysis.

Bezeichnet man die Grundlinie mit x, die Schenkeldifferenz mit d, das Dreieck mit D, so ist verm. Dat. 76. Zus. das Verhältniſs $x^2-d^2:D$ gegeben. Da verm. Dat. 62. das Verhältniſs $D:a^2$ gegeben ist, so ist $x^2-d^2:a^2$ gegeben, also ist x^2-d^2 gegeben.

Da $dx=b^2$, so ist die Aufgabe auf die andere reducirt: die Seiten eines Rechteckes zu finden, von welchen der Flächenraum, und der Unterschied der Quadrate der einen Winkel einschlieſsenden Seiten gegeben ist, welche Aufgabe sich nach Dat. 87. auflösen läſst.

Aufgabe 50.

Ein Dreieck zu beschreiben, in welchem der Winkel der Spitze einem gegebenen Winkel, das Rechteck der Schenkel dem Quadrate der gegebenen geraden Linie a, die Summe der Quadrate aller Seiten dem Quadrate ger gegebenen geraden Linie S gleich sey.

Analysis.

Bezeichnet man die Grundlinie mit x, also die Summe der Quadrate der Schenkel mit S^2-x^2, das Dreieck mit D, so ist, wenn der gegebene Winkel $> R$, das Verhältnifs $S^2-2x^2 : D$ gegeben. Da auch (Dat. 62.) das Verhältnifs $D : a^2$ gegeben ist, so ist $S^2-2x^2 : a^2$, also S^2-2x^2, somit x und das ganze Dreieck gegeben.

Wenn der gegebene Winkel $< R$, so ist verm. Dat. 75. das Verhältnifs $2x^2-S^2 : D$ gegeben. Da auch das Verhältnifs $D : a^2$ gegeben ist (Dat. 62.), so ist $2x^2-S^2 : a^2$ folglich $2x^2-S^2$ mithin x, somit das Dreieck gegeben.

Aufgabe 51.

Ein Dreieck zu beschreiben, in welchem der Winkel der Spitze einem gegebenem Winkel, das Rechteck der Schenkel dem Quadrate der gegebenen geraden Linie a, das Verhältnifs der Summe der Quadrate der Schenkel zu dem Quadrate der Grundlinie dem gegebenen Verhältnifs p : q gleich sey.

Analysis.

Bezeichnet man die Grundlinie mit x, also die Summe der Quadrate der Schenkel mit $\frac{p}{q}x^2$, das Dreieck mit

D, so ist, je nachdem der gegebene Winkel $\gtrless$ R, verm. Dat. 74. oder 75., das Verhältnifs

$$\left.\begin{matrix}\frac{p}{q}x^2-x^2\\ \frac{p-q}{q}x^2\end{matrix}\right\} : D, \text{ oder } \left\{\begin{matrix}x^2-\frac{p}{q}x^2\\ \frac{q-p}{q}x^2\end{matrix}\right\} : D \text{ gegeben.}$$

Da das Verhältnifs $D:a^2$ gegeben ist (Dat. 62.), so ist

$$\frac{p-q}{q}x^2 : a^2, \text{ oder } \frac{q-p}{q}x^2 : a^2$$

also in beiden Fällen $x^2:a^2$, somit x und das ganze Dreieck gegeben.

Anmerkung.

Wenn ein Dreieck beschrieben werden soll, von welchem ausser dem Winkel der Spitze der Ueberschufs des Quadrates der Schenkelsumme über das Quadrat der Grundlinie, oder der Ueberschufs des Quadrates der Grundlinie über das Quadrat der Schenkeldifferenz, oder der Ueberschufs der Summe der Quadrate der Schenkel über das Quadrat der Grundlinie, oder der Ueberschufs des Quadrates der Grundlinie über das Quadrat der Schenkeldifferenz, und überdiefs die Summe, oder der Unterschied der Schenkel, oder die Summe, oder der Unterschied der Quadrate derselben, gegeben sey, so geben die Sätze 74. 75. 76. der Data Mittel zu den Auflösungen an die Hand.

Aufgabe 52.

Ein Dreieck zu beschreiben, in welchem der Winkel der Spitze einem gegebenen Winkel, die Höhe der

gegebenen geraden Linie h, das Rechteck der Schenkel dem Quadrate der gegebenen geraden Linie a gleich sey.

Analysis.

Bezeichnet man die Grundlinie mit x, so ist verm. Dat. 62. das Verhältnifs $a^2 : hx$ gegeben, also hx, somit x und das ganze Dreieck gegeben.

Aufgabe 53. (*Fig.* 26.)

Ein Dreieck zu beschreiben, in welchem der Winkel der Spitze einem gegebenen Winkel, die Höhe der gegebenen geraden Linie h, die Summe der Quadrate der den gegebenen Winkel einschliefsenden Seiten dem Quadrate der gegebenen geraden Linie a gleich sey.

Analysis.

Bezeichnet man die Grundlinie mit x, so ist, wenn der gegebene Winkel $>R$ (Dat. 74.) das Verhältnifs

$$x^2 - a^2 : hx$$

d. i. (Fig. 26. a.) $Ax \cdot xC : h.Bx$ gegeben, wenn $AB = BC = a$, $Bx = x$ gesetzt wird, also ist, vermöge Apoll. de sect. det. Buch I. Aufg. 4. Fall 2., der Punkt x, mithin Bx, somit das Dreieck gegeben. Wenn der gegebene Winkel $<R$, so ist (Dat. 75.) das Verhältnifs

$$a^2 - x^2 : hx$$

d. i. (Fig. 26. b.) $Ax \cdot xC : h.Bx$ gegeben, wenn $AB = BC = a$, $Bx = x$ gesetzt wird, also ist, verm. Apoll. de sect. det. Buch I. Aufg. 3. Fall 2., der Punkt x, folglich die Linie Bx, somit das Dreieck gegeben.

Aufgabe 54.

Ein Dreieck zu beschreiben, in welchem der Winkel der Spitze einem gegebenen Winkel, die Höhe der gegebenen geraden Linie h, der Umfang der gegebenen geraden Linie U gleich sey.

Analysis.

Bezeichnet man die Grundlinie mit x, also die Summe der Schenkel mit U—x, so ist verm. Dat. 76. das Verhältniſs $(U-x)^2-x^2 : \frac{hx}{2}$ gegeben

U^2-2Ux
$U(U-2x)$

also ist $U-2x : \frac{1}{2}x$

folglich $U-2x : 2x$

mithin $U : 2x$

somit x und das ganze Dreieck gegeben.

Andere Analysis. (Fig. 27.)

Es sey △ABC das verlangte, so ist, wenn auf der Verlängerung von BC die geraden Linien DB, EC den Seiten BA, AC gleich genommen, und die geraden Linien AD, AE gezogen werden, auch FG∥BC gezogen wird,

$FAB+CAG=2R-BAC$

also $\frac{1}{2}FAB+\frac{1}{2}CAG = R-\frac{1}{2}BAC$
(El. I. 4. 28.) $BAD+CAE$

folglich $BAD+BAC+CAE = R+\frac{1}{2}BAC$
DAE

mithin ist der Winkel DAE gegeben.

Da $DE = DB + BC + CE$

$= \left\{ \begin{matrix} AB + BC + CA \\ U \end{matrix} \right.$

so ist DE der Gröfse nach gegeben, also liegt, in so fern DE auch als der Lage nach gegeben angenommen wird, der Punkt A auf dem Umfange eines der Gröfse und Lage nach gegebenen Kreisabschnittes (El. I. 32.)

Da die Höhe $AH = h$, so liegt A auch auf einer der Lage nach gegebenen mit DE parallelen geraden Linie (Dat. 37.), folglich ist der Punkt A, somit das Dreieck ABC gegeben.

Dritte Analysis. (Fig. 27.)

Es sey $\triangle ABC$ das verlangte, es seyen auch zwey Kreise beschrieben, wovon der eine die Spitze A zum Mittelpunkt und die Höhe A zum Radius habe, der andere die Grundlinie BC in P und die Verlängerung der übrigen Seiten in L, M berühre, so sind beide Kreise der Gröfse und Lage nach gegeben, in so fern die Seiten BA, AC als der Lage nach gegeben angesehen werden, weil $AD = h$ und

$$\left. \begin{matrix} LA + AM \\ 2AL \\ 2AM \end{matrix} \right\} = AB + \left\{ \begin{matrix} BL \\ BP \end{matrix} \right\} + AC + \left\{ \begin{matrix} CM \\ CP \end{matrix} \right. \text{ (El. III. 17.)}$$

$$= AB + BC + CA$$

$$= U$$

---

also $\left. \begin{matrix} AL \\ AM \end{matrix} \right\} = \frac{1}{2}U$

und $ALO = AMO = R$, auch $LAO = OAM$. Da BC eine diesen Kreisen gemeinschaftliche Tangente ist, so ist die Lage von BC, somit das Dreieck gegeben.

Aufgabe 55.

Ein Dreieck zu beschreiben, in welchem der Winkel der Spitze einem gegebenen Winkel, die Höhe der gegebenen geraden Linie h, der Radius des um das Dreieck zu beschreibenden Kreises der gegebenen geraden Linie r gleich sey.

Analysis.

Da die Höhe und der Radius, also auch der Durchmesser des um das Dreieck zu beschreibenden Kreises gegeben sind, so ist das Rechteck derselben, folglich das diesem Rechtecke gleiche Rechteck der Schenkel gegeben, somit die Aufgabe auf Aufg. 52. reducirt.

Aufgabe 56.

Ein Dreieck zu beschreiben, in welchem der Winkel der Spitze einem gegebenen Winkel, der Radius des in das Dreieck zu beschreibenden Kreises der gegebenen geraden Linie r, der Umfang der gegebenen geraden Linie U gleich sey.

Analysis.

Bezeichnet man die Grundlinie mit x, also die Schenkelsumme mit U—x, so ist verm. Dat. 76. das Verhältnifs $(U-x)^2-x^2 : r.U$ gegeben

$$\left.\begin{matrix} U^2-2Ux \\ U(U-2x \end{matrix}\right\}$$

also ist $U-2x : r$, folglich $U-2x$, mithin x, somit das Dreieck gegeben.

Andere Analysis. (Fig. 27.)

Es sey ABC das gesuchte Dreieck, so ist, wenn O der Mittelpunkt des die Grundlinie BC und die Verlän-

gerungen der Seiten BA, AC berührenden Kreises ist, $LA=\frac{1}{2}U$, also LA der Gröfse, und in so fern BA als der Lage nach gegeben angesehen wird, auch der Lage nach, folglich der Punkt L, mithin, wegen des Winkels ALO=R, die Lage der geraden Linie LO, und, weil AO den gegebenen Winkel BAC halbirt, der Punkt O gegeben. Wenn O der Mittelpunkt des in das Dreieck beschriebenen Kreises, und R der Berührungspunkt der Linie AB ist, so ist △AQR der Art nach, und, wegen der der Gröfse nach gegebenen QR, auch der Gröfse nach, also ist AR; somit der Punkt R, folglich der Punkt Q gegeben. Es ist mithin BC eine gemeinschaftliche Tangente zweyer der Gröfse und Lage nach gegebenen Kreise, ist also gegeben; somit das ganze Dreieck bestimmt.

Zusatz.

Wenn der Umfang, der Inhalt und der Winkel der Spitze eines Dreieckes gegeben sind, so läfst sich aus dem Inhalte und Umfange der Radius des in das Dreieck zu beschreibenden Kreises bestimmen, also ist die Aufgabe, ein Dreieck aus jenen Datis zu construiren, auf die vorhergehende Aufgabe reducirt.

Aufgabe 57.

Ein Dreieck zu beschreiben, in welchem der Winkel der Spitze einem gegebenen Winkel, der Radius des in das Dreieck zu beschreibenden Kreises der gegebenen geraden Linie r, und das Verhältnifs der Schenkelsumme zur Grundlinie dem gegebenen Verhältnifse p : q gleich sey.

Analysis.

Bezeichnet man die Grundlinie mit x, also die Schen-

kelsumme mit $\frac{p}{q}x$, so ist verm. Dat. 76. das Verhältniß

$$\left.\begin{array}{l}(\frac{p}{q}x)^2-x^2 \\ \frac{p^2-q^2}{q^2}x^2\end{array}\right\} : r\frac{p+q}{q}x \text{ gegeben}$$

also ist auch $x : r\frac{p+q}{q}$

folglich $x : r$

mithin x, somit das Dreieck gegeben.

Aufgabe 58. (*Fig.* 26. b.)

Ein Dreieck zu beschreiben, in welchem der Winkel der Spitze einem gegebenen Winkel, der Radius des in das Dreieck zu beschreibenden Kreises der gegebenen geraden Linie r, das Rechteck aus der Schenkelsumme und Grundlinie dem Quadrate der gegebenen geraden Linie a gleich sey.

Analysis.

Bezeichnet man die Grundlinie mit x, also die Schenkelsumme mit $\frac{a^2}{x}$, so ist verm. Dat. 76. das Verhältniß

$$\left.\begin{array}{l}(\frac{a^2}{x})^2-x^2 \\ (\frac{a^2}{x}+x)(\frac{a^2}{x}-x)\end{array}\right\} : (\frac{a^2}{x}+x)r$$

$$\frac{a^2}{x}-x : r$$

$$a^2-x^2 : rx$$

d. i. $Ax . xC : r . Bx$ gegeben, wenn $AB=BC=a$, $Bx=x$ gesetzt wird, also ist, vermöge Apoll. de sect.

det. Buch I. Aufg. 3. Fall 2., der Punkt x, folglich Bx, somit das Dreieck gegeben.

Aufgabe 59.

Ein Dreieck zu beschreiben, in welchem der Winkel der Spitze einem gegebenen Winkel, der Radius des in das Dreieck zu beschreibenden Kreises der gegebenen geraden Linie r, der Ueberschufs des Quadrates der Schenkelsumme über das Quadrat der Grundlinie dem Quadrate der gegebenen geraden Linie d gleich sey.

Analysis.

Bezeichnet man die Grundlinie mit x, also das Quadrat der Schenkelsumme mit d^2+x^2, den Umfang mit U, so ist verm. Dat. 76. das Verhältnifs $\left.\begin{matrix} d^2+x^2-x^2 \\ d^2 \end{matrix}\right\} : r, U$ gegeben, also ist U gegeben, folglich die Aufgabe auf Aufg. 56. reducirt.

Aufgabe 60.

Ein Dreieck zu beschreiben, in welchem der Winkel der Spitze einem gegebenen Winkel, der Radius des in das Dreieck zu beschreibenden Kreises der gegebenen geraden Linie r, der Ueberschufs des Quadrates der Grundlinie über das Quadrat der Schenkeldifferenz dem Quadrate der gegebenen geraden Linie d gleich sey.

Analysis.

Bezeichnet man die Grundlinie mis x, also das Quadrat der Schenkeldifferenz mit x^2-d^2, den Umfang

mit U, so ist verm. Dat. 76. Zus. $x^2 - x^2 + d^2 \atop d^2$ } r.U gegeben, also ist U gegeben, folglich die Aufgabe auf Aufg 56. reducirt.

Aufgabe 61. (*Fig.* 4. b.)

Ein Dreieck zu beschreiben, in welchem die Grundlinie, die die Spitze mit dem Halbirungspunkte der Grundlinie verbindende gerade Linie, und die Schenkelsumme den gegebenen geraden Linien g, h, S gleich seyen.

Analysis.

Es sey BAC das verlangte Dreieck, D der Halbirungspunkt der Grundlinie, so ist

$BA^2 + AC^2 = \left\{ \begin{matrix} 2BD^2 + DA^2 \text{ (wie zu Aufg. 5.)} \\ \frac{1}{2}g^2 + 2h^2 \end{matrix} \right.$

also ist $BA^2 + AC^2$ gegeben (Dat. 2.).

Da auch BA + AC gegeben ist,

so ist $(BA + AC)^2$

d. i. $BA^2 + 2BA \cdot AC + AC^2$ } (El. II. 4.) gegeben,

folglich BA . AC gegeben

somit BA, AC (Dat. 86.)

mithin das Dreieck der Art und Gröfse nach gegeben.

Aufgabe 62. (*Fig.* 4. b)

Ein Dreieck zu beschreiben, in welchem die Grundlinie, die Schenkeldifferenz und die die Spitze mit dem Halbirungspunkte der Grundlinie verbindende gerade

Linie den gegebenen geraden Linien g, d, h gleich seyen.

Analysis.

Es sey △ABC das verlangte, D der Halbirungspunkt der Grundlinie, so ist

$$BA^2+AC^2=\begin{cases}2BD^2+2DA^2 \text{ (wie zu Aufg. 5.)}\\ \frac{1}{2}g^2+2h^2\end{cases}$$

also ist BA^2+AC^2 gegeben (Dat. 2.).

Da auch BA—AC gegeben ist,

so ist $\begin{cases}(BA-AC)^2\\ BA^2-2BA\,.\,AC+AC^2\end{cases}$ gegeben (El. II. 7.)

folglich BA . AC gegeben

mithin sind BA, AC (Dat. 85.)

somit ist das Dreieck der Art und Gröfse nach gegeben.

Aufgabe 63, (*Fig.* 4. b.)

Ein Dreieck zu beschreiben, in welchem die Grundlinie und die die Spitze mit dem Halbirungspunkte der Grundlinie verbindende gerade Linie den gegebenen geraden Linien g, h, das Rechteck der Schenkel dem Quadrate der gegebenen geraden Linie a gleich sey.

Analysis.

Es sey △ABC das verlangte, D der Halbirungspunkt der Grundlinie, so ist

$$BA^2+AC^2=\begin{cases}2BD^2+2DA^2 \text{ (wie zu Aufg. 5.)}\\ \frac{1}{2}g^2+2h^2\end{cases}$$

also ist BA^2+AC^2 gegeben.

Da $BA \cdot AC = a^2$

so ist $2BA \cdot AC$ gegeben

folglich sowohl $\left\{\begin{matrix} BA^2+2BA \cdot AC+AC^2 \\ (BA+AC)^2 \end{matrix}\right\}$

als $\left\{\begin{matrix} BA^2-2BA \cdot AC+AC^2 \\ (BA-AC)^2 \end{matrix}\right\}$

mithin sowohl $BA+AC$, als $BA-AC$, somit sowohl BA, als AC, und das ganze Dreieck gegeben.

Aufgabe 64. (*Fig.* 14.)

Ein Dreieck zu beschreiben, in welchem die Höhe, das zwischen der Spitze und der Grundlinie gelegene Segment der den Winkel der Spitze halbirenden geraden Linie und der Durchmesser des um das Dreieck zu beschreibenden Kreises den gegebenen geraden Linien h, a, d gleich seyen.

Analysis.

Es sey $\triangle BAC$ das verlangte, $ACD = BCD$, $CRA = R$, es sey auch CQ der Durchmesser des um das Dreieck beschriebenen Kreises, so ist, wenn CD bis zum Durchschnitt G mit diesem Kreise verlängert wird,

$\triangle ACD \sim \triangle GCB$ (El. VI. 4.)

also $AC : CD = GC : CB$

folglich $GC \cdot \left\{\begin{matrix} CD \\ a \end{matrix}\right\} = \left\{\begin{matrix} AC \cdot CB \\ RC \cdot CQ \\ d \cdot h \end{matrix}\right\}$ (El. VI. 16.), weil $\triangle ACR \sim \triangle QCB$ also $AC : CR = QC : CB$;

mithin ist $a : d = h : CG$

demnach ist CG der Gröfse nach gegeben. Nimmt man also auf dem über einem der Lage nach gegebenen, oder will-

kührlich angenommenen Durchmesser CQ=d beschriebenen Kreisumfange den Punkt G nach Belieben an, so ist, wegen der der Gröfse nach gegebenen Linie CG, der Punkt C, somit der Punkt D, und, weil CRD=R und CR=h ist, der Punkt R, also die gerade Linie AB der Lage nach, folglich sowohl der Durchschnitt A, als der Durchschnitt B mit dem Kreisumfange, somit das Dreieck ABC gegeben.

Aufgabe 65. (*Fig.* 14.)

Ein Dreieck zu beschreiben, in welchem die Grundlinie und das zwischen der Spitze und der Grundlinie gelegene Segment der den Winkel der Spitze halbirenden geraden Linie den gegebenen geraden Linien g, h, das Rechteck der Schenkel dem Quadrate der gegebenen geraden Linie a gleich sey.

Analysis.

Es sey △ABC das verlangte, so ist, wenn die den Winkel der Spitze halbirende gerade Linie CD bis zum Durchschnitt G mit dem um das Dreieck beschriebenen Kreise verlängert, und GA gezogen wird,

△AGC ∽ △BCD (El. VI. 4.)

also AC : CG = DC : CB

folglich $\left.\begin{matrix} AC \cdot CB \\ a^2 \end{matrix}\right\} = \left\{\begin{matrix} DC \cdot CG \text{ (El. VI. 16.)} \\ \left.\begin{matrix} DC^2 \\ h^2 \end{matrix}\right\} + CD \cdot DG \end{matrix}\right.$

mithin $\left.\begin{matrix} CD \cdot DG \\ AD \cdot DB \end{matrix}\right\} = a^2 - h^2$

demnach ist AD . DB gegeben. Da auch AD+DB(=g) gegeben ist, so sind AD, DB (Dat. 86.) der Gröfse

nach, und in so fern AB als der Lage nach gegeben angenommen wird, ist der Punkt D gegeben. Da

$$CD \cdot DG = AD \cdot DB$$

also $CD : DA = BD : DG$, so ist DG der Gröfse nach gegeben, also liegt G auf einem der Gröfse und Lage nach gegebenen Kreisumfange. Da $ACG = GCB$, also $arc.AG = arc.GB$, so liegt G auf dem in dem Halbirungspunkte von AB auf dieser Linie aufgerichteten Perpendikel, mithin ist der Punkt G, somit die gerade Linie GD der Lage nach, also auch der Punkt C, folglich das ganze Dreieck gegeben.

Aufgabe 66. (*Fig.* 28.)

Ein Dreieck zu beschreiben, in welchem die von den Winkelpunkten auf die gegenüber liegenden Seiten gefällten Perpendikel den gegebenen geraden Linien α, β, γ gleich seyen.

Analysis. (Fig. 28. a.)

Es sey $\triangle ABC$ das verlangte, und es seyen die Perpendikel AK, BE, CF gleich den Linien α, β, γ; so ist $\triangle CBF \sim \triangle ABK$ (El. VI. 4.)

also $CB : BA = CF : AK = \gamma : \alpha$

Eben so ist $\triangle BAE \sim \triangle CAF$ (El. VI. 4.)

folglich $BA : AC = BE : CF = \beta : \gamma$

mithin sind die Verhältnifse $CB : BA$, $BA : AC$, somit ist das Verhältnifs $AC : CB$ gegeben, also ist $\triangle ABC$

der Art nach (Dat. 45.), und, weil die Höhe AK(=α) gegeben ist, auch der Gröfse nach (Dat. 50.) gegeben.

Determination.

Da $CB:BA=\begin{cases}\gamma:\alpha\\ \beta\gamma:\alpha\beta\end{cases}$, $BA:AC=\begin{cases}\beta:\gamma\\ \alpha\beta:\alpha\gamma\end{cases}$

so ist $CB:BA:AC=\beta\gamma:\alpha\beta:\alpha\gamma$.

Da nun $CB+BA>AC$, $CB+AC>AB$, $BA+AC>BC$ werden mufs, so mufs auch seyn $\beta\gamma+\alpha\beta>\alpha\gamma$, $\beta\gamma+\alpha\gamma>\alpha\beta$, $\alpha\beta+\alpha\gamma>\beta\gamma$.

Construction.

Man nehme HG nach Belieben, HGM=R=HGS, mache auf der Verlängerung von HG die Linie LG=γ, nehme MG=α, HP∥ML, HN=β, OH=α, GQ∥ON, bezeichne den Durchschnitt der Linien GQ, PH mit Q, beschreibe ein Dreieck AGH, dessen eine Seite die Linie GH, andere Seite AG=GP, dritte Seite AH=HQ sey, mache AK∥GP, MK∥AG, KB∥GH, so ist, wenn KB die Linien AG, AH in B, C schneidet, △ABC das verlangte.

Beweis.

Es ist $HG:GP=\begin{cases}LG:GM\ (El.\ VI.\ 4.)\\ \gamma:\alpha\\ \beta\gamma:\alpha\beta\end{cases}$

Auch ist $QH:HG=\begin{cases}OH:HN\ (El.\ VI.\ 4.)\\ \alpha:\beta\\ \alpha\beta:\beta\gamma\end{cases}$

also $QH:GP=\alpha\gamma:\alpha\beta$ (El. V. 22.)

folglich $HG:GP:QH=\beta\gamma:\alpha\beta:\alpha\gamma$.

Da $\beta\gamma + \alpha\beta > \alpha\gamma$, $\beta\gamma + \alpha\gamma > \alpha\beta$, $\alpha\beta + \alpha\gamma > \beta\gamma$ (Det.)

so ist HG+GP>QH, HG+QH>GP, GP+QH>HG, mithin läfst sich aus Linien, welche = GH, GP, QH sind, ein Dreieck AGH beschreiben.

Ferner ist AK ∥ GM

also AKC = $\left\{\begin{matrix} \text{MGH (El. I. 28.)} \\ \text{R} \end{matrix}\right.$, AK = GM = α (El. I. 33.)

Ueberdiefs ist, wenn CFB = R gemacht wird,

$$\left.\begin{matrix} CB : BA \\ HG : \left\{\begin{matrix} GA \\ GP \end{matrix}\right. \\ LG : GM \\ \gamma : \alpha \end{matrix}\right\} = CF : \left\{\begin{matrix} AK \text{ (El. VI. 4.)} \\ \alpha \end{matrix}\right.$$

folglich CF = γ.

Endlich ist, wenn BEA = R gemacht wird,

$$\left.\begin{matrix} BC : CA \\ GH : \left\{\begin{matrix} HA \\ HQ \end{matrix}\right. \\ NH : HO \\ \beta : \alpha \end{matrix}\right\} = BE : \left\{\begin{matrix} AK \text{ (El. VI. 4.)} \\ \alpha \end{matrix}\right.$$

mithin BE = β

also ist $\triangle$ABC das verlangte.

Anmerkung.

Vorstehende Aufgabe läfst sich auf folgende sehr einfache Weise behandeln.

Analysis. (Fig. 28. b.)

Es sey $\triangle$DBC das verlangte, es seyen auch die Perpendikel DH, BK, CL gezogen, welche = α, β, γ seyen.

Macht man $DF=\gamma$, und zieht $FE \# BC$, so ist, wenn E den Durchschnitt der Linien CE, DB bezeichnet,

$$\left.\begin{matrix} DC:CB \\ DH:BK \\ \alpha:\beta \end{matrix}\right\} = \left\{\begin{matrix} DF \\ \gamma \end{matrix}\right\} : FE \quad \text{(El. VI. 4.)}$$

also ist FE gegeben (Dat. 2.).

Auch ist

$$\left.\begin{matrix} FD \\ \gamma \end{matrix}\right\} : DE = \left\{\begin{matrix} CD:DB \\ CL:BK \\ \gamma:\beta \end{matrix}\right.$$

folglich $DE=\beta$

mithin ist $\triangle DEF$, somit $\triangle DBC$ der Art nach, und, weil DH gegeben ist, auch der Gröfse nach (Dat. 50. 56.) gegeben, also sind seine Seiten gegeben.

Construction.

Man suche die vierte geometrische Proportionallinie zu α, β, γ, so dafs also $\alpha:\beta=\gamma:\delta$, construire ein Dreieck DEF aus den Linien $DE=\beta$, $DF=\gamma$, $EF=\delta$, fälle auf EF das Perpendikel DG, schneide von demselben, oder der Verlängerung $DH=\alpha$ ab, und ziehe durch H die Linie $BC \# EF$; so ist, wenn B, C die Durchschnittspunkte mit den Linien ED, DF, oder ihren Verlängerungen sind, $\triangle DBC$ das verlangte.

Determination.

Damit aus den Linien β, γ, δ ein Dreieck construirt werden könne, mufs seyn,

$$\beta+\gamma \left\{\begin{matrix} \delta \\ \frac{\beta\gamma}{\alpha} \end{matrix}\right. , \quad \beta+\delta \left\{\begin{matrix} > \gamma \\ \beta+\frac{\beta\gamma}{\alpha} \end{matrix}\right. , \quad \gamma+\delta \left\{\begin{matrix} > \beta \\ \gamma+\frac{\beta\gamma}{\alpha} \end{matrix}\right.$$

also $\alpha\beta+\alpha\gamma > \beta\gamma$, $\alpha\beta+\beta\gamma > \alpha\gamma$, $\alpha\gamma+\beta\gamma > \alpha\beta$.

Beweis.

Es ist $\alpha\beta+\alpha\gamma>\beta\gamma$, $\alpha\beta+\beta\gamma>\alpha\gamma$, $\alpha\gamma=\beta\gamma>\alpha\beta$

also $\beta+\gamma>\left\{\begin{matrix}\frac{\beta\gamma}{\alpha}\\ \delta\end{matrix}\right.$, $\beta+\left\{\begin{matrix}\frac{\beta\gamma}{\alpha}\\ \delta\end{matrix}\right\}>\gamma$, $\gamma+\left\{\begin{matrix}\frac{\beta\gamma}{\alpha}\\ \delta\end{matrix}\right\}>\beta$

folglich läfst sich aus den Linien β, γ, δ ein Dreieck beschreiben.

Es ist $DF:FE\}=DC:CB$ (El. VI. 4.)

$\alpha\}:\beta\}=DH:BK$, wenn $BKC=R$ (El. VI. 4.)

$DH\}$

also ist $BK=\beta$.

Ferner ist $DE:EF\}=DB:BC$

$\alpha:\gamma\}=DH:CL$

also $CL=\gamma$

folglich ist $\triangle DBC$ das gesuchte.

Aufgabe 67. (*Fig.* 29.)

Ein Dreieck zu beschreiben, in welchem die von den Winkelspitzen zu den Halbirungspunkten der gegenüber liegenden Seiten gezogenen geraden Linien den gegebenen Linien α, β, γ gleich seyen.

Analysis.

Es sey $\triangle ABC$ das gesuchte, es seyen auch die den Linien α, β, γ gleichen geraden Linien zu den Halbirungspunkten D, E, F der gegenüber liegenden Seiten gezogen, welche sich in einem Punkte O schneiden,

so ist $AF:FB=AE:EC$

also $FE\#BC$

folglich $\triangle FOE\sim\triangle BOC$ (El. VI. 4.)

mithin $FE:BC\left\{\begin{matrix}=FO:OC=EO:OB\\ FA:AB\\ 1:2\end{matrix}\right\}$

demnach $1:3=OF:\left\{\begin{matrix}FC\\ \gamma\end{matrix}\right\}$, $2:3=OB:BE$.

Zieht man die die Linie BO in H schneidende gerade Linie FH, so ist

$$FH:AO=\left\{\begin{matrix}FB:BA,\\ 1:2\end{matrix}\right.\quad\left\{\begin{matrix}FA:AB\\ 1:2\end{matrix}\right\}=HO:OB$$

Da $AO:AD=2:3$ so ist $FH:\left\{\begin{matrix}AD\\ \alpha\end{matrix}\right\}=1.3$ folglich $1:3=HO:\left\{\begin{matrix}EB\\ \beta\end{matrix}\right.$

also sind die Linien FO, OH, HF, folglich das Dreieck FOH, somit auch $\triangle ABC$ der Art und Gröfse nach gegeben.

Construction.

Man beschreibe ein Dreieck FOH, dessen Seiten FH, HO, OF den Linien $\frac{1}{3}\alpha$, $\frac{1}{3}\beta$, $\frac{1}{3}\gamma$ gleich seyen, mache $BH=HO=OE$, $CO=2OF$, ziehe die gerade Linie BF bis zum Durchschnitt A mit der durch die Punkte C, E gezogenen geraden Linie, so ist $\triangle ABC$ das verlangte.

Determination.

Damit aus Linien, welche $=\frac{1}{3}\alpha$, $\frac{1}{3}\beta$, $\frac{1}{3}\gamma$ sind, ein Dreieck construirt werden könne, mufs seyn

$\frac{1}{3}\alpha+\frac{1}{3}\beta>\frac{1}{3}\gamma$, $\frac{1}{3}\alpha+\frac{1}{3}\gamma>\frac{1}{3}\beta$, $\frac{1}{3}\beta+\frac{1}{3}\gamma>\frac{1}{3}\alpha$

also $\alpha+\beta>\gamma$, $\alpha+\gamma>\beta$, $\beta+\gamma>\alpha$.

Beweis.

Es ist $\alpha+\beta>\gamma$, $\alpha+\gamma>\beta$, $\beta+\gamma>\alpha$

also $\frac{1}{3}\alpha+\frac{1}{3}\beta>\frac{1}{3}\gamma$, $\frac{1}{3}\alpha+\frac{1}{3}\gamma>\frac{1}{3}\beta$, $\frac{1}{3}\beta+\frac{1}{3}\gamma>\frac{1}{3}\alpha$

folglich läfst sich ein Dreieck FOH aus Linien, welche $=\frac{1}{3}\alpha$, $\frac{1}{3}\beta$, $\frac{1}{3}\gamma$ sind, bilden.

Es ist $OB\left\{\frac{2}{3}\beta\right\}:BE=2:3=\left\{OC\right\}:CF$

also $BE=\beta$, $CF=\gamma$, und $FE\parallel BC$ (El. VI. 2.)

folglich $FE:BC=1:2$

mithin $FE:DC=1:1$, wenn $BD=DC$;

somit $FD\parallel EC$ (El. 1. 33.)

demnach $FDC+ECD=2R$ (El. I. 28.)

also $FBC+ECD<2R$ (El. I. 16.).

folglich schneiden sich die Linien BF, CE in ihrer Verlängerung in A. Es geht also die gerade Linie AD durch O. Auch ist $BH:HO=BD:DC$

also $HD:OC=1:2$
$=FO:OC$

folglich $HD=FO$

mithin $FH=OD$

somit $FH:AD=OD:DA$
$=1:3$

demnach $AD=3FH$
$=\alpha$

also ist $\triangle ABC$ das verlangte.

Aufgabe 68. (*Fig.* 30.)

Ein Dreieck zu beschreiben, in welchem das zwischen der Spitze und der Grundlinie liegende Segment der den Winkel der Spitze halbirenden geraden Linie, und die dadurch gebildeten Segmente der Grundlinie den gegebenen geraden Linien h, a, b gleich seyen.

Analysis.

Es sey ABC das gesuchte Dreieck, so ist, wenn um dasselbe ein Kreis beschrieben, und die den Winkel BAC halbirende gerade Linie AD bis zum Durchschnitt mit demselben in F verlängert wird,

$$AD \cdot DF = BD \cdot DC \text{ (El. III. 35.)}$$

$$\text{also } \left.\begin{matrix} AD \\ h \end{matrix}\right\} : \left.\begin{matrix} DB \\ a \end{matrix}\right\} = \left.\begin{matrix} CD \\ b \end{matrix}\right\} : DF$$

folglich ist DF der Gröfse nach gegeben, und der Punkt F liegt, weil, wenn die gerade Linie BDC als der Lage nach gegeben angenommen wird, auf einem der Gröfse und Lage nach gegebenen Kreisumfange.

Da BAF=FAC, also arc.BF=arc.FC, so ist, wenn BE=EC gemacht und FE gezogen wird, BEF=R (El. III. 30.), also ist wegen des gegebenen Punktes E, die Lage der geraden Linie FE, somit der Punkt F, folglich die Lage der geraden Linie FD, mithin der Punkt A und das ganze Dreieck ABC gegeben.

Construction.

Man mache BD=a, CD=b, BDG=BDH=R, GD=h, DCH=BGD, BE=EC, EF#DH, beschreibe aus D als Mittelpunkt einen Kreis mit einem Radius=DH, ziehe durch D und den Durchschnitt F dieses Kreises mit EF die gerade Linie FD, beschreibe durch die

Punkte D, F, C einen Kreis, welcher der Verlängerung der Linie FD in A begegne, und ziehe die geraden Linien BA, AC, so ist $\triangle ABC$ das verlangte.

Determination.

Damit der aus D als Mittelpunkt beschriebene Kreis die Linie EF schneide, muſs

$$HD > DE \text{ seyn (El. I. 19.);}$$

also $$\left.\begin{matrix} CD : DH \\ GD : DB \\ h : a \end{matrix}\right\} < \left\{\begin{matrix} CD \\ b \end{matrix}\right\} : \left\{\begin{matrix} DE \\ \frac{b-a}{2} \end{matrix}\right.$$ (El. V. 8.) (El. VI. 4.)

Beweis.

Es ist $$\left.\begin{matrix} h : a \\ GD : DB \\ CD \\ b \end{matrix}\right\} < b : \left\{\begin{matrix} \frac{b-a}{2} \\ DE \end{matrix}\right.$$ (Det.)

$$\left.\begin{matrix} CD \\ b \end{matrix}\right\} : DA$$

also $HD > DE$

folglich schneidet der Kreis die Linie EF. Es läſst sich also durch die Punkte B, F, C ein Kreis beschreiben (El. IV. 5.).

Ferner ist $AD \cdot DF = BD \cdot DC$ (El. III. 35.)

also $$AD : DB = CD : \left\{\begin{matrix} DF \\ DH \end{matrix}\right.$$

$$= \left\{\begin{matrix} GD \\ h \end{matrix}\right\} : DB$$

folglich ist $AD = h$

mithin ABC das gesuchte Dreieck.

Aufgabe 69. (Fig. 31.)

Ein Dreieck zu beschreiben, in welchem die von zwey Winkelpunkten auf die gegenüberliegenden Seiten gefällten Perpendikel und die Summe dieser Seiten den gegebenen geraden Linien α, β, γ gleich seyen.

Analysis.

Es sey $\triangle ABC$ das verlangte, es seyen von den beiden Perpendikeln AD, BE, wovon das eine $=\alpha$, das andere $=\beta$ sey, das eine, BE, um eine Linie $EF=$ dem anderen verlängert, so ist, wenn $FG \parallel EC$ gezogen wird,

$$BFG = R$$

also auch $CHG = R$, wenn $CH \parallel EF$.

Da $FG \parallel EC$

so ist $HGC = ACD$

folglich $\triangle CHG \overline{\sim} \triangle ADC$

mithin $AC = CG$

demnach $BC + CA \left\{ \gamma \right\} = \left\{ BC + CG \right\} BG$

Da $BF = BE + AD = \beta + \alpha$, so ist $\triangle BFG$ der Art und Gröfse nach, also der Winkel CGH gegeben, folglich $\triangle CGH$ der Art und Gröfse nach, mithin $CG \left\{ CA \right.$, somit auch BC gegeben, demnach, wegen $ACB = HGC$, das Dreieck ABC der Art und Gröfse nach gegeben.

Construction.

Man beschreibe über der geraden Linie $BG = \gamma$ einen Halbkreis, trage in denselben die Sehne $BF = \beta + \alpha$, ziehe die gerade Linie FG, mache $FE = \alpha$, $EC \parallel FG$,

$AC = CG$, und ziehe die gerade Linie BA, so ist $\triangle ABC$ das verlangte.

Determination.

Da $DA < AC$, $EB < BC$

so ist $DA + BE < AC + CB$

also muſs $\alpha + \beta < \gamma$ seyn.

Beweis.

Es ist $\alpha + \beta < \gamma$ (Det.)

also läſst sich in den Halbkreis die Sehne $BF = \alpha + \beta$ legen.

Da $AC = CG$, $ACD = HGC$, $ADC = CHG$, wenn $ADC = R$,

so ist $BC + CA = BG$, $\triangle ACD \cong \triangle CHG$

$= \gamma$ folglich $AD = \begin{cases} CH \\ EF \\ \alpha \end{cases}$

Da $BEC = BFG$, so ist $BEC = R$. Auch ist

$$BE = \begin{cases} BF - FE \\ \beta + \alpha - \alpha \\ \beta \end{cases}$$

folglich ist $\triangle ABC$ das verlangte.

Aufgabe 70. (*Fig.* 32.)

Ein Dreieck zu beschreiben, in welchem zwey Seiten und das Segment der den eingeschlossenen Winkel halbirenden geraden Linie, welches zwischen der Spitze desselben und der gegenüber liegenden Seite enthalten ist, den gegebenen geraden Linien α, β, γ gleich seyen.

Aufgabe 71.

Analysis.

Es sey △ABC das verlangte, so ist, wenn CD der den Winkel BAC halbirenden geraden Linie AE parallel gezogen, und bis zum Durchschnit mit der verlängerten BA in D verlängert wird,

BAE } =ADC (El. I. 28.)
EAC }
ACD } (El. I. 28.)

also DA=AC (El. I. 5.)

folglich BA+AC : CD = BA+AD : DC
α+β = BA : AE (El. VI. 4.)
= α : γ

mithin ist CD, somit △ACD der Art nach (Dat. 42.), demnach der Winkel DAC, also der Winkel BAC, somit das Dreieck BAC gegeben.

Aufgabe 71. (*Fig.* 29.)

Ein Dreieck zu beschreiben, in welchem zwey Seiten und die von dem eingeschlossenen Winkel zu dem Halbirungspunkte der gegenüber liegenden Seite gezogene gerade Linie den gegebenen geraden Linien δ, ε, α gleich seyen.

Analysis.

Es sey △ABC das gesuchte, so ist, wenn von dem Halbirungspunkte D der Linie BC die Linie DF∥AC gezogen wird, welche bis zum Durchschnitt F mit der Seite AB verlängert sey,

AF:FB=CD:DB (El. VI. 2.), DF:AC=DB:BC (El. VI. 4.)

also AF=FB
=½δ

=1:2

also DF=½AC

folglich ist $\triangle ADF$ der Art nach gegeben, mithin sind, in so fern AD als der Lage nach gegeben angenommen wird, die Linien DF, FA der Lage nach, somit ist AC der Lage nach gegeben. Da auch BA, AC der Gröfse nach gegeben sind, ist das Dreieck ABC gegeben.

Aufgabe 72. (*Fig.* 33.)

Ein rechwinkeliges Dreieck zu beschreiben, in welchem die Seiten arithmetisch proportionirt seyen, und der Flächenraum dem Quadrate der gegebenen geraden Linie α gleich sey.

Analysis.

Es sey $\triangle ABC$ das verlangte, so ist

$$CA-AB=AB-BC$$

mithin $\left.\begin{matrix}AC-CB\\AK\end{matrix}\right\}=\left\{\begin{matrix}2(CA-AB)\\2CH,\end{matrix}\right.$ wenn $KC=CB$, $HA=AB$;

$$\left.\begin{matrix}\text{Da } AB^2+BC^2\\AH^2+CK^2\\AH^2+KH^2+2KH\,.\,HC+HC^2\end{matrix}\right\}$$

$$=\left\{\begin{matrix}AC^2\\AH^2+\left\{\begin{matrix}2AH\,.\,HC\\2AK\,.\,HC+2KH\,.\,HC\end{matrix}\right.\end{matrix}\right.\quad +HC^2$$

so ist $KH^2=\left\{\begin{matrix}2AK\,.\,HC\\AK^2\end{matrix}\right.$

also $HK=\left\{\begin{matrix}KA\\2CH\end{matrix}\right.$

folglich $\left.\begin{matrix}CK\\CB\end{matrix}\right\}=3CH,\quad \left.\begin{matrix}AH\\AB\end{matrix}\right\}=4CH$

$$\text{mithin } \left.\begin{matrix} CB:BA \\ CB^2:\left\{\begin{matrix} AB\,.\,BC \\ 2\alpha^2 \end{matrix}\right. \end{matrix}\right\} = \left\{\begin{matrix} 3\,.\,CH:4CH \\ 3:4 \end{matrix}\right.$$

demnach $CB^2:\alpha^2=3:2$

also ist CB, somit BA und das ganze Dreieck gegeben.

Construction.

Man nehme auf einer beliebig angenommenen geraden Linie $BF=\alpha$, $FD=DG=\frac{1}{2}BF$, $BFE=R$, beschreibe über BD einen Halbkreis, welcher der Linie FE in E begegne, ziehe die gerade Linie BEA, $GA \# BE$, mache $CB=BE$, und ziehe die gerade Linie AC, so ist $\triangle ABC$ das verlangte.

Beweis.

$$\text{Es ist } CB:BA=\left\{\begin{matrix} EB:BA \\ DB:BG \text{ (El. VI. 4.)} \end{matrix}\right.$$

$$\text{also } CB^2:\tfrac{1}{2}CB\,.\,BA=\left\{\begin{matrix} DB:BF \\ EB^2:\left\{\begin{matrix} BF^2 \text{ (El. VI. 20. Zus. 2.)} \\ \alpha^2 \end{matrix}\right. \end{matrix}\right.$$

$$\text{folglich } \left.\begin{matrix} \tfrac{1}{2}CB\,.\,BA \\ \triangle ABC \end{matrix}\right\} = \alpha^2$$

$$\text{Da } CB:BA=\left\{\begin{matrix} DB:BG \\ 3:4 \end{matrix}\right.$$

$$\text{so ist } CB^2:BA^2=9:16$$

$$\text{also } \left.\begin{matrix} CB^2+BA^2 \\ CA^2 \end{matrix}\right\} : BA^2=25:16$$

$$\text{folglich } CA:AB=5:4$$

$$\text{mithin } CB-BA=BA-AC.$$

Aufgabe 73. (Fig. 34.)

Ein rechtwinkeliges Dreieck zu beschreiben, in welchem die Seiten geometrisch proportionirt seyen, und der Flächenraum dem Quadrate der gegebenen geraden Linie a gleich sey.

Analysis.

Es sey $\triangle ABC$ das verlangte, so ist

$$CA^2 : \left\{\begin{matrix} AB^2 \\ CA.AD \end{matrix}\right\} = \left\{\begin{matrix} AB^2 \\ CA.AD \end{matrix}\right\} : \left\{\begin{matrix} BC^2 \text{ (El. VI. 8. 22.)} \\ AC.CD, \text{ wenn } BDA = R, \text{ (El. VI. 8. 16.)} \end{matrix}\right.$$

also $CA : AD = AD : DC$ (El. VI. 1.)

Zieht man durch einen beliebigen Punkt F der Linie DA, oder ihrer Verlängerung, die Linie $FE \# AB$, und durch den Durchschnitt E derselben mit dem Perpendikel DB, oder dessen Verlängerung, die Linie $GE \# BC$, so ist $CA : AB = AB : BC$

also $CA^2 : AB^2 = AB^2 : BC^2$

folglich $\left\{\begin{matrix} GF^2 : FE^2 \\ GF : FD \end{matrix}\right\} = \left\{\begin{matrix} FE^2 : EG^2 \text{ (El. VI. 4. 22.)} \\ FD : DG \text{ (El. VI. 20. Zus. 2.)} \end{matrix}\right.$

Da FD als eine der Lage und Gröfse nach gegebene gerade Linie angesehen werden kann, so ist DG (El. II. 11.), also der über EG beschriebene Halbkreis, folglich der Punkt E, mithin das Dreieck FEG, somit $\triangle ABC$ der Art nach, also $AC : BD$

$$AC^2 : \left\{\begin{matrix} \frac{1}{2}AC.BD \\ a^2 \end{matrix}\right\} \text{ gegeben,}$$

folglich AC^2, somit AC und das ganze Dreieck gegeben.

Construction.

Man beschreibe über der beliebig angenommenen geraden Linie FG ein Quadrat FK, mache $FO = OH$,

beschreibe aus Q als Mittelpunkt mit einem Radius = OG einen Kreis, welcher der Verlängerung von HF *in* P begegne, mache DF=FP, FDE=R, beschreibe über FG einen Halbkreis, dessen Umfang der Linie DE in E begegne, nehme NE=EG, beschreibe über FN einen die gerade Linie EG in L schneidenden Halbkreis, mache ME = der Diagonale des Quadrates der Linie α, EMQ=ELN, durch den Durchschnitt Q der Linie MQ mit EG ziehe man QC#DE, und CB#EG, BA #EF, so ist △ABC das verlangte.

Beweis.

Es ist ABC = FEG (El. I. 29.)
R

Ferner ist LE : EN = ME : EQ (El. VI. 4.)

also $LE^2 : \begin{Bmatrix} EN^2 \\ EG^2 \end{Bmatrix} = \begin{Bmatrix} ME^2 \\ 2\alpha^2 \end{Bmatrix} : \begin{Bmatrix} EQ^2 \text{ (El. VI. 22.)} \\ BC^2 \text{ (El. I. 33.)} \end{Bmatrix}$

(El. VI. 8. 16.) $FE.EN \atop FE.EG$

(El. VI. 1.) FE : EG

(El. VI. 4.) AB : BC

(El. VI. 1.) AB . BC : BC^2

folglich $AB.BC = 2\alpha^2$

mithin $\frac{1}{2}AB.BC = \alpha^2$
△ABC

Endlich ist $\begin{matrix} GF : FD \\ GF^2 : FE^2 \\ CA^2 : AB^2 \end{matrix} = \begin{matrix} FD : DG \text{ (El. II. 11. VI. 17.)} \\ FD^2 : DE^2 \text{ (El. VI. 1. 20. Zus. 2.)} \\ AD^2 : DB^2 \text{ (El. VI. 4. 22.)} \\ AB^2 : BC^2 \end{matrix}$

also CA : AB = AB : BC (El. VI. 22.)

folglich ist △ABC das verlangte.

Aufgabe 74.

Durch einen, innerhalb, oder ausserhalb zweyer der Lage nach gegebenen parallelen geraden Linien, gegebenen Punkt eine gerade Linie zu ziehen, so dafs die zwischen den Durchschnittspunkten mit diesen Linien und zweyen in denselben gegebenen Punkten gelegenen Segmente in einem gegebenen Verhältnifse stehen.

Diese Aufgabe war mit der folgenden der Gegenstand der Schrift des Apollonius von Perga de sectione rationis. Man sehe die Bücher des Apollonius von Perga de sectione rationis, frey bearbeitet von Diesterweg, Berlin 1824. pag. 9 sqq.

Aufgabe 75.

Durch einen, innerhalb eines der Lage nach gegebenen Winkels, gegebenen Punkt eine gerade Linie zu ziehen, welche die Schenkel dieses Winkels, oder seines Nebenwinkels, so schneide, dafs die zwischen den Durchschnittspunkten und zweyen in jenen Linien gegebenen Punkten enthaltenen Segmente ein gegebenes Verhältnifs zu einander haben.

Man sehe die Bücher des Apollonius von Perga de sectione rationis, von Diesterweg, pag. 18 sqq.

Aufgabe 76.

Durch einen, innerhalb, oder ausserhalb zweyer der Lage nach gegebenen Parallelen, gegebenen Punkt eine gerade Linie zu ziehen, so dafs die zwischen den Durchschnittspunkten mit diesen Linien und zweyen in denselben gegebenen Punkten enthaltenen Segmente eine gegebene Summe, oder eine gegebene Differenz haben.

Man sehe die Bücher des Apollonius de sectione rationis, von Diesterweg, im Anhange pag, 199. sqq.

Aufgabe. 77.

Durch einen, innerhalb eines der Lage nach gegebenen Winkels, gegebenen Punkt eine gerade Linie zu ziehen, welche die Schenkel dieses Winkels, oder seines Nebenwinkels so schneide, dafs die zwischen den Durchschnittspunkten und zweyen in jenen Linien gegebenen Punkten enthaltenen Segmente eine gegebene Summe, oder eine gegebene Differenz haben.

Man sehe Apollonius de sect. rat. von Diesterweg, im Anhange pag. 205. sqq.

Aufgabe 78.

Durch einen, innerhalb, oder ausserhalb zweyer der Lage nach gegebenen parallelen geraden Linien gegebenen Punkt eine gerade Linie zu ziehen, so dafs die Summe, oder die Differenz der Quadrate der zwischen den Durchschnittspunkten mit diesen Linien und zweyen in denselben gegebenen Punkten gelegenen Segmente von gegebener Gröfse sey.

Man sehe Apollonius de sect. rat, von Diesterweg, im Anhange pag. 211. sqq.

Aufgabe 79.

Durch einen, auf der Halbirungslinie eines der Lage nach gegebenen Winkels, gegebenen Punkt eine gerade Linie zu ziehen, welche von den Schenkeln jenes Win-

kels Segmente abschneide, deren Summe der Quadrate von gegebener Gröfse sey.

Man sehe Apoll. de sect. rat. im Anhange pag. 213.

Aufgabe 80.

Durch einen, innerhalb, oder ausserhalb zweyer der Lage nach gegebenen parallelen geraden Linien, gegebenen Punkt eine gerade Linie zu ziehen, so dafs das Rechteck aus den Segmenten zwischen den Durchschnittspunkten mit jenen Linien und zweyen in denselben gegebenen Punkten von gegebener Gröfse sey.

Diese Aufgabe war mit der folgenden der Gegenstand der verlohren gegangenen Schrift des Apollonius von Perga de sectione spatii, welche der Verfasser dieses wieder herzustellen gedenkt.

Aufgabe 81.

Durch einen, innerhalb eines der Lage nach gegebenen Winkels, gegebenen Punkt eine gerade Linie zu ziehen, so dafs das Rechteck, welches aus den zwischen den Durchschnittspunkten mit den Schenkeln, oder den Schenkeln des Nebenwinkels, und zweyen in denselben gegebenen Punkten enthaltenen Segmenten gebildet wird, dem Quadrate einer gegebenen geraden Linie gleich sey.

Aufgabe 82. (*Fig.* 35.)

Durch einen, innerhalb eines der Lage nach gegebenen Winkels ABC, gegebenen Punkt O eine gerade Linie DE zu ziehen, so dafs das dadurch bestimmte Dreieck BDE dem Quadrate einer gegebenen geraden Linie a gleich sey.

Analysis.

Es sey △DBE das verlangte, so ist, wenn DFB=R, △DBF der Art nach (Dat. 43.), also das Verhältnifs

(El. VI. 1.) $\left.\begin{matrix} FD:DB \\ DF.BE:DB.BE \end{matrix}\right\}$ gegeben,

folglich auch $\left.\begin{matrix} \frac{1}{2}FD.BE \\ \triangle DBE \\ \alpha^2 \end{matrix}\right\} : DB.BE$

mithin DB.BE gegeben,

somit die Aufgabe auf die vorhergehende reducirt.

Anmerkung.

Wenn die Linie durch den Nebenwinkel des gegegegebenen Winkels gezogen werden soll, wie D^1E^1, so ist die Analysis dieselbe.

Aufgabe 83. (*Fig.* 36.)

Durch einen, innerhalb eines der Lage nach gegebenen Winkels ABC, gegebenen Punkt O eine gerade Linie LM zu ziehen, deren Segmente zwischen diesem Punkte und den Schenkeln jenes Winkels ein Rechteck bilden, welches dem Quadrate einer gegebenen geraden Linie α gleich sey.

Analysis.

Es sey LM die gesuchte Linie, so ist, wenn durch die Punkte B, L, M ein Kreis beschrieben, die gerade Linie BO gezogen und bis zum Durchschnitt D mit diesem Kreise verlängert wird,

$$DO.OB = \left\{ \begin{matrix} LO.OM \\ a^2 \end{matrix} \right. \text{ (El. III. 36.)}$$

also $BO : a = a : DO$ (El. VI. 17.)

folglich ist DO der Gröfse nach, und da sie auch der Lage nach gegeben ist, so ist der Punkt D gegeben.

Auch ist DLO=OBC (El. III. 21.)

also liegt der Punkt L auf einem der Lage und Gröfse nach gegebenem Kreisumfange, ist also, weil er auch auf der Linie BA liegt, gegeben, somit ist die Lage der geraden Linie LO, und der Punkt M gegeben.

Construction.

Man ziehe BO, mache BOE=R, $EO = \alpha$, BED=R, beschreibe über der geraden DO einen Kreisabschnitt, welcher eines Winkels =CBO fähig ist, und ziehe den Punkt L, in welchem der Umfang desselben mit AB zusammentrifft, mit O durch die gerade Linie LO, welche der Linie BC in M begegne, zusammen, so ist LM die gesuchte Linie.

Determination.

Wenn (Fig. 36. b.) G des Kreises Mittelpunkt ist, und GKB=R, so mufs, damit der Kreis die Linie AB erreiche, $OG \geqq GK$ seyn.

Es ist $OF : FG = 1 : \cot. \left\{ \begin{matrix} COB \\ \gamma \end{matrix} \right.$, $BF : FH = 1 : \tan. \left\{ \begin{matrix} ABO \\ \beta \end{matrix} \right.$

also $FG = OF . \cot.\gamma$, $FH = BF . \tan.\beta$

folglich $HF - FG \left\{ \begin{matrix} = BF.\tan.\beta - OF . \cot.\gamma \\ GH \end{matrix} \right.$

Ferner ist $HG : GK = 1 : \cos.\beta$

$BF . \tan.\beta - OF . \cot.\gamma$

mithin $GK = BF . \sin.\beta - OF . \cos.\beta . \cot.\gamma$

Endlich ist $FO : OG = \sin.\gamma : 1$

demnach $GO = \frac{FO}{\sin.\gamma}$

also muſs seyn $\frac{FO}{\sin.\gamma} \gtrless BF . \sin.\beta - OF . \cos.\beta . \cot.\gamma$

folglich $FO \gtrless BF . \sin.\beta . \sin.\gamma - OF . \cos.\beta . \cos.\gamma$

mithin $FO(1+\cos.\beta.\cos.\gamma) \gtrless BF . \sin.\beta . \sin.\gamma$

somit $OF : FB \gtrless \sin.\beta . \sin.\gamma : 1+\cos.\beta.\cos.\gamma$

demnach $BF : FO \lessgtr 1+\cos.\beta.\cos.\gamma : \sin.\beta.\sin.\gamma$

also $\left.\begin{array}{l} BF+FO : BF-FO \\ DB : BO \end{array}\right\}$

$$BO^2 + \left\{\begin{array}{l} DB . BO \\ BO . OD \end{array}\right\} : BO^2$$

$$\lessgtr \left\{\begin{array}{l} 1+\cos.\beta.\cos.\gamma+\sin.\beta.\sin.\gamma : 1+\cos.\beta.\cos.\gamma-\sin.\beta.\sin.\gamma \\ 1+(\cos.\gamma-\beta) : 1+\cos.(\gamma+\beta) \\ \cos.\frac{\gamma-\beta}{2} : \cos.\frac{\gamma+\beta}{2} \end{array}\right.$$

folglich $\alpha^2 : BO^2 \lessgtr \left\{\begin{array}{l} \cos.\frac{\gamma-\beta}{2} - \cos.\frac{\gamma+\beta}{2} : \cos.\frac{\gamma+\beta}{2} \\ \sin.\gamma.\sin.\beta : \cos.\frac{ABC}{2} \end{array}\right.$

Beweis.

Es ist $\alpha^2 : BO^2 \lessgtr \sin.\gamma.\sin.\beta : \cos.\frac{ABC}{2}$ (Det.)

also $OG \gtrless GK$

wie aus der Determ. leicht erhellet, also berührt (Fig. 36. a.), oder schneidet (Fig. 36. b.) der Kreis die Linie AB.

Ferner ist $\left.\begin{matrix}DLO\\DLM\end{matrix}\right\}=DBM$

folglich liegen die Punkte D, L, B, M auf dem Umfange eines Kreises, mithin ist

$$LO.OM=\begin{cases}BO.OD & \text{(El. III. 36.)}\\ OE^2 & \text{(El. VI. 4. 17.)}\\ a^2.\end{cases}$$

Zusatz 1.

Es erhellet von selbst, dafs es im Fall des Durchschnittes zwey Linien mit der gegebenen Eigenschaft giebt.

Zusatz 2.

Im Fall des Berührens ist $BLO=\left\{\begin{matrix}BDL\\BMO\end{matrix}\right.$

also LB=BM.

Zusatz 3.

Je gröfser a, desto gröfser wird OD, desto mehr rückt also der Mittelpunkt des Kreises über den Mittelpunkt Q des berührenden Kreises hinaus. Ist (Fig. 36. a.) H ein solcher, so ist OQ=QL.

also LOQ=QLO

folglich LOQ<HLO

mithin OH>HL.

Da auch wegen QLA=R, ein Perpendikel von H auf BA auf die Verlängerung von BL fällt, so schneidet

der aus H als Mittelpunkt mit einem Radius =HO beschriebene Kreis die Verlängerung von AL, also bestimmt der Punkt L, für welchen LB=BA, ein kleineres Rechteck, als jeder andere Punkt der Linie BA. Auch bestimmt von zweyen, auf einerley Seite des Punktes L liegenden Punkten, der demselben näher liegende ein kleineres Rechteck, als der entferntere.

Zusatz. 4.

Macht man (Fig. 36. a.) ABP=PBC, OPB=R=PRB, so ist $OB : BP = 1 : \left\{\begin{matrix}\cos.OBP \\ \cos.\frac{\gamma-\beta}{2}\end{matrix}\right.$

Eben so ist $BR : PB = \left\{\begin{matrix}\cos.PBR \\ \cos.\frac{\gamma+\beta}{2}\end{matrix}\right\} : 1$

also $OB \cdot BR : BP^2 = \cos.\frac{\gamma+\beta}{2} : \cos.\frac{\gamma-\beta}{2}$

folglich $OB \cdot BR : BP^2 < \left\{\begin{matrix}BO : \sqrt{BO^2+\alpha^2} \\ OB \cdot BR : RB \cdot BE\end{matrix}\right.$
BE

mithin $BP^2 > RB \cdot BE$.

Zusatz 5.

Wenn O auf der Halbirungslinie des Winkels ABC liegt, also $\gamma=\beta$ ist, so ist

$\sin.\gamma = \sin.\beta$

also $\sin.\gamma.\sin.\beta = \sin.\frac{1}{2}ABC^2$

folglich $\alpha^2 : BO^2 > \sin.\frac{1}{2}ABC^2 : \cos.\frac{1}{2}ABC^2$

$> \tan.\frac{1}{2}ABC^2 : 1$

mithin $\alpha : BO \gtrless \tan.\frac{1}{2}ABC : 1$

somit $\alpha \gtrless \begin{cases} BO.\tan.\frac{1}{2}ABC \\ OL, \text{ wenn } BOL = R. \end{cases}$

Anmerkung.

Auf ganz ähnliche Weise wird die Aufgabe behandelt, wenn der Punkt O in dem Nebenwinkel des gegebenen Winkels liegt.

Aufgabe 84.

Durch einen, auf der Halbirungslinie eines der Lage nach gegebenen Winkels, gegebenen Punkt eine gerade Linie zu ziehen, deren zwischen die Schenkel des Winkels, oder des Nebenwinkels desselben, fallendes Segment einer gegebenen geraden Linie gleich sey.

Diese Aufgabe ist aufgelöst in der Schrift: die Bücher des Apollonius von Perga de inclinationibus, frey bearbeitet von Diesterweg, Berlin 1823. pag. 41. sq.

Aufgabe 85.

Von dem Endpunkte eines der Lage und Gröfse nach gegebenen Kreisdurchmessers eine gerade Linie zu ziehen, deren zwischen den anderen Durchschnitt mit dem Kreisumfange, und ein auf jenem Durchmesser errichtetes Perpendikel, oder einen anderen Kreisumfang, dessen Durchmesser mit jenem Durchmesser in derselben Linie liegt, fallendes Segment von gegebener Gröfse sey.

Mit dieser Aufgabe beschäftigte sich Apollonius in der Schrift de inclinationibus. Man sehe die eben angegebene Bearbeitung derselben.

Aufgabe 86. (*Fig.* 37.)

Ein gegebenes Dreieck ABC durch die kleinstmögliche gerade Linie in zwey Theile zu theilen, deren Verhältnifs dem gegebenen Verhältnifse p : q gleich sey.

Analysis.

Es sey xz die gesuchte Theilungslinie, so ist

$$\triangle Axz : zxBC = p : q$$

also $\triangle Axz : \triangle ABC = p : p+q$

folglich ist $\triangle Axz$ der Gröfse nach gegeben.

Es ist $xA \cdot Az : \triangle Axz$ gegeben (Dat. 62.)

mithin ist auch $xA \cdot Az$ der Gröfse nach gegeben.

Ferner ist $zA : Ah = 2zA \cdot Ax : 2Ah \cdot Ax$ (El. VI. 1.)

Da $zA : Ah$ gegeben ist (Dat. 43.), wenn $Ahz = R$, so ist $2hA \cdot Ax$ gegeben.

Da $xz^2 = Ax^2 + Az^2 - 2xA \cdot Ah$ (El. II. 13.), so ist xz^2 ein kleinstes, wenn $Ax^2 + Az^2$ am kleinsten, oder, weil $Ax^2 + Az^2 = (Ax + Az)^2 - 2xA \cdot Az$, wenn $(Ax + Az)^2$, also, wenn $Ax + Az$ am kleinsten, mithin wenn, bey dem gegebenen Flächenraume $xA \cdot Az$, $Ax = Az$ ist.

Aufgabe 87. (*Fig.* 38.)

Von einem, in der Seite AB des der Art und Gröfse nach gegebenen Dreieckes ABC, gegebenen Punkte D eine gerade Linie DE zu ziehen, welche eine der anderen und die Verlängerung der dritten in den Punkten x, E so schneide, dafs, wenn x, E die Durchschnitte mit BC und der verlängerten AC, oder mit AC und der verlängerten BC bezeichnen, das Verhältnifs $DE \cdot Ex$ $BC \cdot Cx$ dem gegebenen Verhältnifse p : q gleich sey.

Analysis.

Es sey DE die gesuchte Linie, so ist, wenn die gerade Linie α so bestimmt wird, dafs $p:q=\alpha:BC$,

$$DE.Ex:BC:Cx=\begin{cases}\alpha:BC\\ \alpha.Cx:BC.Cx\end{cases}\text{(El. VI. 1.)}$$

also $DE.Ex=\alpha.Cx$

folglich $\alpha:DE=\begin{cases}Ex:xC\text{ (El. VI. 17.)}\\ ED:DG,\text{ wenn }DG\#BC;\end{cases}$

mithin ist DE der Gröfse, somit auch (Dat. 34.) der Lage nach gegeben.

Construction.

Man mache $CH\#AB$, $DH\#BC$, $DP=p$, $DQ=q$, $PK\#QH$, $DGM=R$, beschreibe über DK einen Halbkreis, welcher die Linie GM in M schneide, ziehe die gerade Linie DM, und beschreibe aus D als Mittelpunkt mit einem Radius $=DM$ einen Kreis, welcher die Linie AC, oder ihre Verlängerung, in E schneide, so ist DE die gesuchte Linie.

Determination.

Damit der aus D mit dem Radius DM beschriebene Kreis die Linie AC, oder ihre Verlängerung, erreiche, mufs $MD\gtrless DL$ seyn, wenn $DLA=R$

also $MD^2\gtrless DL^2$

$GD.DK$ (El. VI. 8. 17.)

folglich $GD.DK:GD.DH\gtrless LD^2:\begin{cases}GD.DH\\ GD:BC\end{cases}$

$KD:DH$

$p:q$

Beweis.

$$\left.\begin{array}{r} \text{Es ist } p:q \\ KD:DH \\ \text{(El. VI. 1.) } GD.DK:GD.DH \end{array}\right\} \gtrless LD^2:GD.BC \text{ (Det.)}$$

$$\text{also } \left.\begin{array}{r} GD.DK \\ DM^2 \end{array}\right\} \gtrless LD^2 \text{ (El. V. 10.)}$$

$$\text{folglich } DM \gtrless LD$$

mithin berührt, oder schneidet der Kreis die Linie AC, oder ihre Verlängerung.

$$\text{Ferner ist } KD:\left\{\begin{array}{l} DM \\ DE \end{array}\right\} = \left\{\begin{array}{l} MD:DG \text{ (El. VI. 8.)} \\ ED:DG \\ Ex:xC \end{array}\right.$$

$$\text{also } DE.Ex = KD.Cx \text{ (El. VI. 16.)}$$

$$\text{folglich } DE.Ex:BC.Cx = \left\{\begin{array}{l} KD.Cx:BC.Cx \\ KD:\left\{\begin{array}{l} BC \\ DH \end{array}\right. \\ p:q \end{array}\right.$$

Zusatz 1.

Der Berührungspunkt L bestimmt ein kleineres Verhältniſs, als jeder andere Punkt der Linie AC, oder ihrer Verlängerung, und jeder demselben näher liegende ein kleineres, als der entferntere.

Zusatz 2.

Es erhellet von selbst, daſs es im Fall eines Durchschnittes eine zweite Linie E^1x^1 mit der gegebenen Eigenschaft giebt.

Aufgabe 88. (*Fig.* 39. b.)

Von zwey, in einer der Lage nach gegebenen geraden Linie AB, gegebenen Punkten A, B, zu einem Punkt C

einer der Lage nach gegebenen, mit AB nicht parallelen, geraden Linie CQ gerade Linien zu ziehen, deren Summe der gegebenen geraden Linie S gleich sey.

Analysis.

Angenommen, der Punkt C sey der verlangte, so dafs

$$BC+CA=S$$

so ist $(BC+CA)(BC-CA) = (BC-CA)S$

(El. II. 5.) $BC^2-CA^2 = (S-2CA)S$

(El. I. 47.) $BE^2-EA^2 = S^2 - 2CA.S$

$(BE+EA)(BE-EA) = 2AB.EE = 2DM.AB$ w. CEA R; (El. VI. 17.

wenn $2AB:S=S:DM$;

also $2CA.S=2EM.AB$

folglich $CA.S=EM.AB$

mithin $BA:AC=\left\{\begin{matrix}S\\IM\end{matrix}\right\}:EM$ (El. VI. 16.)

wenn $IM=S$;

$=KH:HC$ (El. VI. 2.),

wenn $KM=R=HM$;

somit $BA:KH=\left\{\begin{matrix}AC:CH\\LK:KH\end{matrix}\right.$ (El. VI. 4.),

wenn $KL \# AC$;

demnach $BA=LK$

also ist KL der Gröfse nach gegeben. Da DM der Gröfse nach (Dat. 2.), also der Punkt M (Dat. 30.), da auch MI der Gröfse und Lage nach, folglich der Punkt I, somit auch der Punkt K (Dat. 32. 28.) gegeben ist, so ist, wegen der gleichfalls der Lage nach gegebenen geraden Linie AH (Dat. 32. 28.), auch die Lage der geraden Linie KL (Dat. 34.), somit die gerade Linie AC der Lage nach, mithin der Punkt C gegeben.

Construction.

Man mache AD=DB, QB=3DB, QDO=R, OD=S, QOM=R, MI=S, MIK=IMH=R, beschreibe aus dem Durchschnitte K der Linie IK mit NC als Mittelpunkt mit einem Radius =AB einen Kreis, welcher der durch A und den Durchschnitt H der Linie HM mit KC gezogenen geraden Linie AH in L begegne, und ziehe KL, auch AC∥KL, so ist der Durchschnitt C der Linie AC mit CN der gesuchte Punkt.

Determination.

Damit der aus K beschriebene Kreis der Linie AH begegne, mufs AB≷KP seyn, wenn KPH=R.

Nun ist HK : $\left\{\begin{matrix} KV \\ IM \\ S \end{matrix}\right\}$ = 1 ; sin.KHV, wenn KV∥AB und MV∥IK;

Auch ist PK : KH = sin.PHK : 1

also PK : S = sin.PHK : sin.KHV

folglich AB : S ≷ sin.PHK : $\left\{\begin{matrix} \text{sin.KHV} \\ \text{cos. HNM} \end{matrix}\right.$

in welcher Proportion sin.PHK aus den gegebenen Grösen leicht ausgedrückt werden kann.

Beweis.

Es ist AB : S ≷ sin.PHK : cos.HNM (Det.)

Da aber HK : S = 1 : $\left\{\begin{matrix} \text{sin.KHV} \\ \text{cos.HNM} \end{matrix}\right.$

und PK : KH = sin.PHK : 1

also PK : S = sin.PHK : cos.HNM

so ist AB : S ≷ PK : S

folglich AB ≷ PK

mithin berührt, oder schneidet der aus K beschriebene Kreis die Linie AP. Und wenn L ein Punkt des Zusammentreffens ist, so ist

$$BA:KH=LK:KH$$
$$=AC:CH \quad \text{(El. VI. 4.)}$$

also $BA:AC=KH:HC$

$$=\left\{\begin{matrix}IM\\S\end{matrix}\right\}:ME$$

folglich $CA.S=BA.ME$

somit $2CA.S=2BA.ME$

demnach
$$\left.\begin{matrix}2DM.AB-2BA.ME\\2BA.DE\\BC^2-CA^2\\(BC+CA)(BC-CA)\end{matrix}\right\}=\left\{\begin{matrix}S^2-2CA.S\\(S-2CA)S\end{matrix}\right.$$

also $BC-CA:S-2AC=S:BC+CA$

mithin $BC-CA+S:BC-CA+S=S:BC+CA$

folglich $S=BC+CA$.

Zusatz.

Es erhellet von selbst, dafs es im Fall eines Durchschnittes einen zweiten Punkt C mit der gegebenen Eigenschaft giebt.

Anmerkung 1.

Wenn statt der Summe der Linien BC, CB die Differenz derselben gegeben ist, so läfst sich die Aufgabe auf ganz ähnliche Weise auflösen.

Anmerkung 2.

Eine andere Behandlung derselben Aufgabe theilt Herr Eschweiler in folgender Aufgabe mit.

Aufgabe 89. (*Fig.* 39. b. c. d. e.)

Auf einer gegebenen Grundlinie AB ein Dreieck zu construiren, dessen beide übrige Seiten zusammen der gegebenen Linie M gleich sind, und dessen Scheitel auf einer der Lage nach gegebenen geraden Linie KL liegt.

Analysis.

Fürs erste ist klar, dafs die gegebene Linie M nicht kleiner, als die kleinste Summe zweyer Linien seyn darf, die von A und B nach einem Punkte von KL gezogen werden können. Schneidet KL die Grundlinie AB, so dafs (Fig. 39. c.) A und B zu verschiedenen Seiten von KL liegen, so ist die Linie AB selbst diese kleinste Summe, in diesem Falle mufs also $M > AB$ seyn; liegen aber (Fig. 39. b.) A und B auf derselben Seite von KL, so fälle man aus einem dieser Punkte, z. E. A, eine senkrechte AE auf KL, verlängere sie über E um $ED = EA$, und verbinde D mit B, so ist DB die kleinste in Rede stehende Summe, und es darf also M nicht kleiner, als DB seyn; ist nun $M = DB$, so verbinde man den Punkt P, wo DB die KL trifft, mit A, und APB wird das verlangte Dreieck seyn. Denn da $\triangle AEP \cong \triangle DEP$, so ist $AP = DB$, also $AP + PB = BD = M$. Ist aber $M > DB$, so liegt der Scheitel des gesuchten Dreiecks irgendwo anders auf KL, als in P. C sey dieser Scheitel, also ACB das verlangte Dreieck. Man verlängere CB um $CF = CA$, so ist $BF = M$ gegeben, und also auch der aus C mit einem Halbmesser $BF = M$ beschriebene Kreis. Da $AC = CD$ und $AC = CF$, so ist auch $CD = CF$; die Punkte F, D, A liegen also auf dem Umfange eines aus C durch diese Punkte beschriebenen Kreises, welcher, da F, C, B in gerader Linie liegen,

den ersten aus B beschriebenen Kreis in F berührt; zieht man daher an F die Tangente OF, welche die verlängerte AD in O trifft, so ist $OF^2 = OA \times OD$. Von O ziehe man eine beliebige Sekante OGH in den mit BF beschriebenen Kreis, so ist auch $OF^2 = OG \times OH$; daher $OA \times OD = OG \times OH$; folglich liegen die vier Punkte A, D, G, H auf der Peripherie eines Kreises, dessen Mittelpunkt auf KL liegt, übrigens aber willkührlich ist, wofern nur dieser Kreis den ersten schneidet. Durch ihn ist der Punkt O gegeben; hiedurch die Tangente OF, der Punkt F, die Linie FB und der Scheitel C.

Construction.

Aus einem der beiden Endpunkte der gegebenen Grundlinie, z. B. A, fälle man eine senkrechte AE auf die gegebene KL, verlängere sie um ED = EA, beschreibe hierauf aus dem anderen Endpunkte B der Grundlinie mit der gegebenen M als Halbmesser einen Kreis. Da (Fig. 39. b.) M > BD, so liegt D in diesem Kreise, um so viel mehr noch A, weil BD = BP + PA > AB. In Fig. 39. c, ist M > AB, also liegt A im Kreise, um so viel mehr auch D, weil AB (= DQ + QB) > DB. In allen Fällen liegen daher die Punkte A und D in dem aus B mit M beschriebenen Kreise. Nun beschreibe man einen beliebigen Kreis durch die beiden Punkte A und D, welcher den ersten Kreis in zwey Punkten G und H schneidet. Um des Durchschnitts gewifs zu seyn, nehme man den Punkt I, wo KL den ersten Kreis trifft, oder irgend einen andern Punkt auf KL, welcher ausser diesem Kreise liegt, zum Mittelpunkt, verbinde die Punkte G, H, und verlängere GH bis zu ihrem Durchschnitt mit AD in O, aus O ziehe man an den mit M be-

schriebenen Kreis die Tangente OF, oder OF^1 (welches möglich ist, weil der Punkt O nothwendig ausserhalb des Kreises fällt); endlich verbinde man F oder F^1 mit B, so ist der Punkt C oder C^1, worin KL von FB und F^1B geschnitten wird, der Scheitel des verlangten Dreiecks.

Beweis.

Da OGH und ODA zwey Sekanten am Kreise GHDA sind, so ist $OA \times OD = OG \times OH$ (El. III. 36.); und da OF eine Tangente am Kreise FGH ist, OGH aber eine Sekante an eben diesem Kreise, so ist auch $OF^2 = OG \times OH$ (El. III. 36.); daher ist $OF^2 = OA \times OD$. Folglich wird ein durch F, A, D gezogener Kreis die Linie OF in F berühren, und da FB senkrecht auf OF steht, so wird der Mittelpunkt dieses Kreises auf FB liegen; aber derselbe mufs auch auf KL liegen, weil KL auf der Sehne AD in deren Mitte senkrecht steht, daher ist der Punkt C, worin KL und FB sich treffen, der Mittelpunkt des durch F, A und D gehenden Kreises. Es ist also $CF = CA$, daher $BC + CA = BC + CF = BF = M$. Derselbe Beweis ist auf das Dreieck ABC^1 anwendbar. Die Dreiecke ABC und ABC^1 genügen also beide der Aufgabe.

Zusatz.

Wäre statt der Summe von AC und CB der Unterschied dieser Seiten gegeben, so ändert dies in der Auflösung nichts, nur in der Determination ist eine kleine Verschiedenheit. Ist $AC - CB$, oder $CB - AC = M$, so wird immer aus B mit dem Halbmesser M, wie in der vorigen Aufgabe, ein Kreis zu beschreiben seyn. Liegen A und B auf derselben Seite von KL, wie in Fig. 39. d.,

so ist der gröfste Unterschied, den aus A und B nach einem Punkte von KL gezogene Linien haben können, die Linie AB selbst. In diesem Falle mufs also M<AB seyn. Liegen aber A und B zu verschiedenen Seiten von KL (Fig. 39. e.), so ist DB der gröfste Unterschied, den zwey von A und B nach einem Punkt von KL gezogene gerade Linien haben können; es mufs also für diesen Fall M<DB seyn.

Aufgabe 90. (*Fig.* 39.)

Von zwey, in einer der Lage nach gegebenen geraden Liine, gegebenen Punkten A, B, zu einem Punkte C einer der Lage nach gegebenen geraden Linie CE gerade Linien zu ziehen, deren Verhältnifs dem Verhältnifse der ungleichen geraden Linien p, q gleich sey.

Analysis.

Es sey C der gesuchte Punkt, so liegt derselbe (siehe Apoll. ebene Oerter Buch 2. Satz 2. Fall 2.) auf einem der Lage nach gegebenen Kreisumfange. Da er auch auf der Linie EC liegt, so liegt er im Durchschnittspunkte beider Oerter, ist also gegeben.

Construction.

Man lege durch A, B die Parallellinien AF, GBH, mache AF=p, HB=BG=q, ziehe die die Linie AB und ihre Verlängerung in K, D schneidenden geraden Linien GF, FH, und beschreibe über KD einen Halbkreis. Der Punkt C, in welchem derselbe die Linie EC erreicht, ist der verlangte.

Determination.

Damit der Kreis die Linie EC erreiche, mufs OK $\geq$ OQ seyn, wenn von dem Mittelpunkte des Kreises ein Perpendikel OQ auf EC gefällt wird.

Nun ist $AK : KB = \left\{ \begin{matrix} AF : BG \\ p : q \end{matrix} \right.$ (El. VI. 4.)

also $AB : BK = p+q : q$

Auch ist $AD : DB = \left\{ \begin{matrix} AF : BH \\ p : q \\ AK : KB \end{matrix} \right.$

folglich $KD : 2OB \left\{ \begin{matrix} = p : q \\ KO : OB \end{matrix} \right.$

mithin $BK : KO = p-q : p$

somit $AB : KO = p^2-q^2 : pq$

Ferner ist $AK : KB = KO : OB$

demnach $KO : OA = q : p$

also $BA : AO = p^2-q^2 : p^2$

folglich $AO = \frac{p^2}{p^2-q^2} AB$

mithin $EA+AO \left\{ \begin{matrix} = EA + \frac{p^2}{p^2-q^2} AB \\ EO \end{matrix} \right.$

$= \frac{m^2+p^2}{p^2-q^2} AB$, wenn $\frac{m^2}{p^2-q^2} AB = AE$;

Endlich ist $EO \left\{ \begin{matrix} : OQ = 1 : \sin.E \\ \frac{m^2+p^2}{p^2-q^2} AB \end{matrix} \right.$

also $OQ = \frac{m^2+p^2}{p^2-q^2} AB . \sin.E.$

Folglich mufs seyn $AB : \frac{m^2+p^2}{p^2-q^2} \sin.E \cdot AB \gtrless p^2-q^2 : pq$

mithin $1 : (m^2+p^2)\sin.E \gtrless 1 : pq$

somit $(m^2+p^2)\sin.E \lessgtr pq$.

Beweis.

Es ist $(m^2+p^2)\sin.E < pq$

also erreicht der Kreis die Linie EC, wie aus der Determination leicht hervorgehet. Und es ist

$$AC : CB = p : q$$

wie aus Apollonius l. c. erhellet.

Zusatz.

Es ergiebt sich von selbst, dafs es im Fall des Durchschnittes des Kreises mit der Linie EC zwey Punkte mit der gegebenen Eigenschaft giebt.

Aufgabe 91. (*Fig.* 39. g.)

Von zwey, in einer der Lage nach gegebenen geraden Linie, gegebenen Punkten A, B zu einem Punkte C einer der Lage nach gegebenen, der Linie AB nicht parallelen, geraden Linie CH gerade Linien zu ziehen, deren Summe der Quadrate dem Quadrate der gegebenen geraden Linie α gleich sey.

Analysis.

Es sey C der gesuchte Punkt, so ist, wenn CEA = R, BD = DA gemacht, und die gerade Linie CD gezogen wird, $AB^2 + CB^2 = 2AD^2 + 2DC^2$, wie zu Aufg. 5.

α^2

also $\frac{a^2-2AD^2}{2}=CD^2$

folglich ist CD gegeben, und der Punkt C liegt auf dem Umfange des aus D als Mittelpunkt mit einem Radius =DC beschriebenen Kreises, ist mithin (Dat. 28.) gegeben.

Determination.

Damit der Kreis die Linie AC erreiche, muſs CD $\geq$DM seyn, wenn DMH=R.

Nun ist HD : DM = 1 : sin.H

also muſs seyn HD : DC $\leq$ 1 : sin.H

folglich $\left.\begin{matrix} HD^2 : DC^2 \\ 2HD^2 : \left\{\begin{matrix} 2DC^2 \\ a^2-2AD^2 \end{matrix}\right. \end{matrix}\right\} \leq 1 : \sin.H^2$

Construction und Beweis

ergeben sich aus dem vorhergehenden sehr leicht.

Zusatz. 1.

Es erhellet von selbst, daſs es in dem Falle des Durchschnittes des Kreises mit der Linie AC zwey Punkte mit der gegebenen Eigenschaft giebt.

Zusatz 2.

Da DM < DC

also $2DM^2 < 2DC^2$

folglich $\left.\begin{matrix} 2DM^2+2AD^2 \\ AM^2+MB^2 \end{matrix}\right\} < \left\{\begin{matrix} 2CD^2+2AD^2 \\ AC^2+CB^2 \end{matrix}\right.$

so bestimmt der Punkt M eine kleinere Quadratsumme der Entfernungen dieses Punktes von den Punkten A, B, als jeder andere Punkt der Linie HC.

Zusatz 3.

Für einen Punkt G derselben Linie ist

$$DG > DC, \text{ wenn } GM > MC;$$

$$\text{also } 2DG^2 > 2DC^2$$

$$\text{folglich } \left.\begin{matrix} 2DG^2+2AD^2 \\ AG^2+GB^2 \end{matrix}\right\} > \left\{\begin{matrix} 2CD^2+2AD^2 \\ AC^2+CB^2 \end{matrix}\right.$$

mithin bestimmen die von dem Punkte M entfernter liegenden Punkte der Linie AC gröfsere Quadratsummen, als die näheren.

Aufgabe 92. (*Fig.* 39. g.)

Von zwey, in einer der Lage nach gegebenen geraden Linie, gegebenen Punkten A, B, zu einem Punkte C einer der Lage nach gegebenen geraden Linie HC gerade Linien zu ziehen, deren Differenz der Quadrate dem Quadrate der gegebenen geraden Linie α gleich sey.

Analysis.

Es sey C der gesuchte Punkt, so ist, wenn CEB=R,

$$CB^2-BE^2 = \left\{\begin{matrix} CE^2 \\ CA^2-AE^2 \end{matrix}\right.$$

$$\text{also } \left.\begin{matrix} BC^2-CA^2 \\ \alpha^2 \end{matrix}\right\} = \left\{\begin{matrix} BE^2-EA^2 \\ (BE+EA)(BE-EA) \\ 2BA \,.\, ED, \text{ wenn } BD=DA; \end{matrix}\right.$$

$$\text{folglich } 2BA : \alpha = \alpha : ED.$$

mithin ist DE, und, wegen des rechten Winkels BEC, die Lage der geraden Linie EC, somit der Durchschnitt derselben mit der Linie HC gegeben.

Construction und Beweis

ergeben sich aus dem Gesagten von selbst.

Aufgabe 93. (*Fig.* 39. h.)

Ein der Art und Gröfse nach gegebenes Dreieck ABC an ein anderes, gleichfalls der Art und Gröfse nach gegebenes, Dreieck abc so zu legen, dafs die Winkelspitzen des letzteren auf die Seiten des ersteren, oder ihre Verlängerungen, fallen.

Analysis.

Angenommen, es sey geschehen, so liegen die Punkte A, B, weil sowohl ba und CAB, als bc und ABC gegeben sind, auf den Bogen zweyer der Gröfse und Lage nach gegebenen Kreisabschnitte. Verbindet man die Mittelpunkte D, E der Kreise durch eine gerade Linie DE, fällt auf AB die Perpendikel DF, EG, und zieht DH∥AB, welche der, wo nöthig, verlängerten GE in H begegne, so ist DH=FG (El. I. 33.)
$= \frac{1}{2}AB$ (El. III. 3.)
also ist DH der Gröfse nach gegeben. Da auch DE der Gröfse und Lage nach gegeben, und DHE=R ist, so ist EDH (Dat. 46.), also die Linie DH der Lage nach, somit auch die derselben durch den Punkt b parallel liegende AB der Lage nach gegeben. Da auch die Punkte A, B (Dat. 28.), und die Punkte a, c (p. hyp.) gegeben sind, so sind die Linien AC, CB der Lage nach gegeben, mithin ist die Lage des Dreieckes ABC gegeben.

Construction.

Man beschreibe nach El. III. 33. über den Linien ab, bc die der Winkel A, B fähigen Kreisabschnitte, und über der, die Mittelpunkte D, E verbindenden, geraden Linie DE als Durchmesser einen Kreis, lege in denselben die Sehne $DH=\frac{1}{2}AB$, ziehe durch den Punkt b die Linie $AB \parallel DH$, welche den Kreisbogen über ab, bc in A, B begegne, und ziehe durch A, a, und B, c, die einander in C schneidenden geraden Linien AC, CB, so ist das verlangte geschehen.

Determination.

Damit die Sehne $DH=\frac{1}{2}AB$ in den Kreis gelegt werden könne, muſs $\frac{1}{2}AB \leqq DE$ seyn.

Nun ist $Db : \left\{\begin{matrix} bk \\ \frac{1}{2}ab \end{matrix}\right\} = 1 : \sin.A$, wenn $DKb=R$;

also $Db=\frac{ab}{2\sin.A}$

Ferner ist $Eb : \left\{\begin{matrix} bL \\ \frac{1}{2}bc \end{matrix}\right\} = 1 : \sin.B$, wenn $ELb=R$;

also $Eb=\frac{bc}{2\sin.B}$

folglich ist

$$DE^2=\frac{ab^2}{4\sin.A^2}+\frac{bc^2}{4\sin.B^2}-\frac{2ab.bc}{4\sin.A.\sin.B}\begin{cases}\cos.DbE \\ \cos.(R-A+R-B+abc) \\ \cos.(2R-(A+B)+abc) \\ \cos.(C+abc)\end{cases}$$

mithin mufs seyn

$$\tfrac{1}{4}AB^2 \leqq \frac{ab^2}{4\sin.A^2} + \frac{bc^2}{4\sin.B^2} - \frac{2ab.bc.\cos.(C+abc)}{4\sin.A.\sin.B}$$

somit $AB^2\sin.A^2.\sin.B^2 \leqq ab^2\sin.B^2 + bc^2\sin.A^2 - 2ab.bc.\cos.(C+abc)\sin.A.\sin.B.$

Wenn $C+abc=R$, so mufs seyn

$$AB^2\sin.A^2.\sin.B^2 \leqq ab^2\sin.B^2 + bc^2\sin.A^2$$

also $$AB^2 \leqq \frac{ab^2}{\sin.A^2} + \frac{bc^2}{\sin.B^2}$$

Wenn $C+abc=2R$, so mufs seyn

$$AB^2\sin.A^2\sin.B^2 \leqq ab^2\sin.B^2 + bc^2\sin.A^2 + 2ab.bc\sin.A.\sin.B$$

also $$AB.\sin.A.\sin.B \leqq ab.\sin.B + bc.\sin.A$$

folglich $$AB \leqq \frac{ab}{\sin.A} + \frac{bc}{\sin.B}.$$

Beweis.

Es ist $$AB^2\sin.A^2\sin.B^2 \leqq ab^2\sin.B^2 + bc^2.\sin.A^2 - 2ab.bc.\cos.(C+abc)\sin.A.\sin.B \text{ (Det.)}$$

also ist $\frac{1}{2}AB \leqq DE$, wie aus der Determ. leicht hervorgehet.

Ferner ist $AB = 2FG$

$= 2DH$

also ist AB von der gegebenen Länge. Da die Winkel der über ab, bc beschriebenen Kreisabschnitte den Winkeln eines gegebenen Dreieckes gleich sind, so ist $A+B<2R$, also schneiden sich Aa, Bc. Auch sind die Winkel A, B Winkel der Kreisabschnitte, also hat das Dreieck ABC die gegebenen Eigenschaften.

Zusatz 1.

Da, wenn $\frac{1}{2}AB < DE$, von D aus eine zweite Sehne $= \frac{1}{2}AB$ in den über DE beschriebenen Halbkreis gelegt werden kann, so bestimmt dieselbe eine zweite Lage der Linie AB, und des ganzen Dreieckes ABC.

Zusatz 2.

Da auf ab, bc auch Kreisabschnitte, der Winkel B, A fähig, beschrieben werden können, so werden dadurch zwey andere Lagen des Dreieckes ABC bestimmt.

Zusatz 3.

Da durch den Punkt b auch jede der anderen Seiten des Dreieckes ABC gelegt werden kann, so läfst sich das Dreieck ABC zwölfmal nach den Bedingungen der Aufgabe um das Dreieck legen, in so fern die dazu gehörigen Bestimmungen bei einem Dreiecke Statt finden.

Aufgabe 94. (*Fig.* 39. i.)

In ein, der Lage und Gröfse nach, gegebenes Dreieck abc ein zweites, welches einem, der Lage und Gröfse nach, gegebenen Dreiecke $\delta\varepsilon\varphi$ congruent sey, so zu legen, dafs die Winkelpunkte des letzteren auf die Seiten des ersteren fallen.

Analysis.

Gesetzt, die Punkte d, e, f seyen so gefunden, dafs $\triangle def \overline{\frown} \delta\varepsilon\varphi$, so beschreibe man um dae und efb Kreise, ziehe die Durchmesser eu, em, so wie die gerade Linie um. Nun ist $\triangle deu$ der Gröfse und Art nach gegeben, weil $de = \delta\varepsilon$, $ude = R$, $due = \alpha$. Eben so ist $\triangle fem$ der Gröfse und Art nach gegeben, also ist

sowohl ued, als fem, folglich uem, mithin △uem der Art und Gröfse nach, somit eum gegeben. Da (El. I. 33.) up=ab, und mpu=R (El. I. 29.), so ist △ump der Art nach (Dat. 46.), also pum, somit rue gegeben. Folglich ist △rue der Art nach (Dat. 43.), und, wegen der gegebenen Seite ue, der Gröfse nach, somit ist ur, mithin ae der Gröfse nach, also der Punkt e, und mit ihm sowohl der Punkt d, als der Punkt f gegeben.

Construction.

Man mache bag=bac, bat=R, ta=$\delta\varepsilon$, tg∦ab, hgk=ε, gk=$\varepsilon\varphi$, kgl=R—b, gkl=R, ziehe die gerade Linie al, beschreibe über al einen Halbkreis, und aus a als Mittelpunkt mit einem Radius =ab einen Kreis. Von a ziehe man zu dem Punkte s, in welchem beide Kreise einander erreichen, die gerade Linie as, beschreibe über ag einen Halbkreis, dessen Umfang der Linie as in n begegne, ziehe die gerade Linie gn, mache ea=an, gz∦an, ax∦hz, zx∦ah, da=ax, ziehe die gerade Linie de, mache def=hgk, und ziehe die gerade Linie fd, so ist △def das gesuchte.

Determination.

Damit der Kreis mit ab den über al erreiche, mufs seyn

$$\left.\begin{matrix}\text{as}\\ \text{ab}\end{matrix}\right\} \leqq \text{al}.$$

Es ist $\text{ag} : \left\{\begin{matrix}\text{gh}\\ \delta\varepsilon\end{matrix}\right\} = 1 : \text{siu.a}$

$$\text{also ag} = \frac{\delta\varepsilon}{\text{sin.a}}$$

Es ist $\text{gl} : \left\{\begin{matrix}\text{gk}\\ \varepsilon\varphi\end{matrix}\right\} = 1 : \text{sin.b}$

also $gl = \frac{\varepsilon\varphi}{\sin.b}$.

Ferner ist $agl = \left\{\frac{agh}{R-a}\right\} + \left\{\frac{hgk}{\varepsilon}\right\} + \left\{\frac{kgl}{R-b}\right\}$

$= \varepsilon + 2R - (a+b)$

$= \varepsilon + c.$

Da $al^2 = \overline{ag}^2 + \overline{gl}^2 - 2ag.gl.\cos.agl$ (Diest. Trigon. Lehrs. 14.) so mufs also seyn

$$\overline{ab}^2 < \frac{\delta\varepsilon^2}{\sin.a^2} + \frac{\overline{\varepsilon\varphi}^2}{\sin.b^2} - \frac{2\delta\varepsilon . \varepsilon\varphi . \cos.(\varepsilon+c)}{\sin.a . \sin.b}$$

Beweis.

Es ist $\overline{ab}^2 \lessgtr \left\{\begin{matrix} \frac{\overline{\delta\varepsilon}^2}{\sin.a^2} + \frac{\overline{\varepsilon\varphi}^2}{\sin.b^2} - \frac{2\delta\varepsilon.\varepsilon\varphi.\cos.(\varepsilon+c)}{\sin.a.\sin.b} \\ \overline{al}^2 \end{matrix}\right.$ (Det.)

---

also $ba \lessgtr al$, wie aus der Det. erhellet,

folglich kommen die Kreise in einem Punkte s zusammen.

Beschreibt man um die Dreiecke ade, bef Kreise, zieht die Durchmesser eu, em, ferner die geraden Linien ud, fm, um, macht bp=au, zieht die gerade Linie up, macht eru=R, verlängert ue, bis sie von der verlängerten bp, und ag, bis sie von der verlängerten ls geschnitten wird, so ist $\triangle ade \cong zhg$, weil ad=zh, ae=an=zg, und gzh=gah=ead;

also de=hg=$\delta\varepsilon$, hzg=dae

---

folglich $\triangle ude \backsim \triangle ahg$ (El. III. 31. 21. I. 26.)

---

mithin ag=ue, agh=uen.

Da ferner $ue : ei = \left\{\begin{matrix} ur : rp \\ \left\{\begin{matrix} ae \\ an \end{matrix}\right\} : \left\{\begin{matrix} eb \\ ns \end{matrix}\right\} \\ ag : gv \end{matrix}\right\}$ (El. VI. 2.)

so ist ei=gv

also ui=av

folglich uip=avs

demnach mei=lgv

mithin △mei ∽ △lgv

somit em=gl

also △emf ∽ △glk

folglich ef= { gk / sφ

mithin △def ∽ δsφ.

Zusatz.

Es erhellet von selbst, dafs es im Fall eines Durchschnittes der beiden Kreise ein zweites Dreieck mit der gegebenen Eigenschaft giebt.

Aufgabe 95. (*Fig.* 39. k.)

In ein, der Art und Gröfse nach, gegebenes Dreieck ABC ein anderes, der Art und Gröfse nach, gegebenes Dreieck abc so zu legen, dafs die Winkelpunkte des letzteren auf die Seiten des ersteren, und die Verlängerungen der Seiten des letzteren durch die auf den Verlängerungen der Seiten des ersteren gegebenen Punkte M, N, P gehen.

Analysis.

Es sey △abc das verlangte, so ist, wenn man durch den Punkt A die gerade Linie αγ∥BC zieht, und α,

β, γ die Durchschnittspunkte der Linie $a\gamma$ mit den Verlängerungen der Seiten des Dreieckes abc sind,

$$Cb : bA = Ca : A\gamma \text{ (El. VI. 4.)}$$

also
$$\left.\begin{aligned} Cb \cdot Ba : Ca \cdot bA &= Ca \cdot Ba : Ca \cdot A\gamma \\ &= Ba : A\gamma \\ &= BN : NA \text{ (El. VI. 4.)} \\ &= f : AM, \text{ wenn } AN : NB = AM : f; \end{aligned}\right\} \text{(El. VI. 1.)}$$

Eben so ist $Ac : cB = A\beta : Ba$ (El. VI. 4.)

also
$$\left.\begin{aligned} Ac \cdot Ba : cB \cdot aC &= A\beta \cdot Ba : Ba \cdot aC \\ &= A\beta : aC \\ &= AM : MC \text{ (El. VI. 4.)} \end{aligned}\right\} \text{(El. VI. 1.)}$$

Ferner ist
$$\left.\begin{aligned} Bc : cA &= BP : A\alpha \\ \text{und } Ab : bC &= A\alpha : CP \end{aligned}\right\} \text{(El. VI. 4.)}$$

also
$$Ab \cdot Bc : bC \cdot cA = \left\{\begin{aligned} &BP : PC \\ &CM : g, \text{ wenn } BP : PC = CM : \gamma; \end{aligned}\right.$$

folglich ist $Ba^2 : Ca^2 = f : g$.

Da f, g (Dat. 2.), gegebene gerade Linien sind, so läfst sich, verm. Apoll. de sect. det. Buch I. Aufg. 1., der Punkt a, somit sowohl der Punkt c, als der Punkt b finden.

Aufgabe 96. (*Fig.* 39. 1.)

In ein, der Art und Gröfse nach, gegebenes Dreieck ABC ein Rechteck, dessen Seitenverhältnifs gleich dem Verhältnifse der gegebenen geraden Linien p, q, so zu legen, dafs die Grundlinie LK desselben in der Richtung der Grundlinie BC des Dreieckes liege, die gegenüberliegenden Winkelspitzen D, O auf die Seiten des Dreieckes fallen.

Analysis.

Es sey das Rechteck DOKL das verlangte, so ist, wenn AKB=R, BD:DL=BA:AQ (El. VI. 4.)

LD:DQ= p:q (p. hyp.)

OD:DA=CB:BA (El. VI. 4.)

Da BA:AQ, CB:BA (Dat. 2.), p:q (p. hyp.) gegebene Verhältnisse sind, so ist BD:DA (Dat. 9.), somit der Punkt D, folglich auch die Lage der Linien OD, DL, mithin das ganze Rechteck gegeben.

Construction und Beweis

ergeben sich aus dem Gesagten von selbst.

Zusatz.

Wenn p=q, so wird das Rechteck ein Quadrat.

Anmerkung.

Sollen die Punkt D, O auf den Verlängerungen der Seiten liegen, so ist die Analysis die nämliche.

Aufgabe 97. (*Fig.* 39. l. m.)

In ein, der Art und Gröfse nach, gegebenes Dreieck ABC ein Rechteck DOKL zu beschreiben, dessen Flächenraum dem Quadrate der gegebenen geraden Linie α gleich sey.

Analysis.

Es sey das Rechteck DOKL das verlangte, so ist, wenn AQB=R,

$$\left.\begin{array}{l} BD:DL=BA:AQ \\ AD:DO=AB:BC \end{array}\right\} \text{(El. VI. 4.)}$$

$$\text{also } AD.DB:\left\{\begin{array}{c} OD.DL \\ \alpha^2 \end{array}\right\}=BA^2:AQ.BC$$

folglich ist AD.DB (Dat. 2.), und da AD+DB gegeben ist, AD (Dat. 86.), somit D, und die Lage der Linien OD, DL, also das Rechteck ODKL gegeben.

Construction.

Man mache CEA=R, CE∥AB, AF∥CE, verlängere BA, nehme GA=AF, beschreibe über BG einen Halbkreis, welcher der Linie AF, oder ihrer Verlängerung, in H begegne, nehme AP=α, PR∥HG, verlängere HA bis zum Durchschnitt mit PR in R, beschreibe über BA als Durchmesser einen Halbkreis, und ziehe RM∥AB. Von dem Punkte M, in welchem RM mit dem Umfange dieses Halbkreises zusammentrifft, fälle man ein Perpendikel MD auf AB, und vollende das Rechteck DOLK, so ist dasselbe das verlangte.

Determination.

Damit RM dem Halbkreise begegne, muss seyn

$$RA \leqq \tfrac{1}{2}AB$$

$$\text{also } RA^2 \leqq \tfrac{1}{4}AB^2$$

folglich $\alpha^2 : RA^2 \geqq \alpha^2 : \tfrac{1}{4}AB^2$ (El. V. 8.)

$$\left.\begin{array}{ll} \text{(El. VI. 4. 22.)} & GA^2 : AH^2 \\ \text{(El. V. 20. Zus. 2.)} & GA \\ & AF \\ & CE \\ \text{(El. VI. 1.)} & AB.CE : AB^2 \\ & \tfrac{1}{4}AB.CE \\ & \tfrac{1}{2}\triangle ABC \end{array}\right\} : \tfrac{1}{4}AB^2$$

mithin $\frac{1}{2}\triangle ABC \gtrless \alpha^2$

somit $\triangle ABC \gtrless 2\alpha^2$.

Beweis.

Es ist $\triangle ABC \gtrless 2\alpha^2$

also $\frac{1}{2}\triangle ABC \gtrless \alpha^2$

folglich $\frac{1}{2}\triangle ABC : \frac{1}{4}AB^2 \gtrless \alpha^2 : \frac{1}{4}AB^2$

$2\triangle ABC : AB^2$

$AB.CE$

$CE : AB$

GA

$GA^2 : AB^2$

$PA^2 : AR^2$

mithin $AR \lessgtr \frac{1}{2}AB$

demnach berührt (Fig. 39. m.), oder schneidet (Fig. 39. l.) die Linie RM den Halbkreis.

Ferner ist $BD:DL = BA:AQ$, wenn $AQB = R$;

$AD:DO = AB:BC$

also $AD.DB : OD.DL = AB^2 : \begin{cases} AQ.BC \\ AB.EC \text{ (El. VI. 16.)} \end{cases}$

(El. VI. 8. 17.) DM^2

AR^2

$= AB : EC$ (El. VI. 1.)

$= HA^2 : AG^2$ (El. VI. 20. Zus. 2.)

$= RA^2 : \begin{cases} AP^2 \\ \alpha^2 \end{cases}$

folglich $OD.DL = \alpha^2$.

Zusatz 1.

Es erhellet von selbst, dafs es im Fall eines Durchschnittes (Fig. 39. l.) der Linie RM mit dem Kreise

ein zweites Rechteck mit der gegebenen Eigenschaft giebt.

Zusatz 2.

Nimmt man (Fig. 39. m.) auf AB einen von dem Halbirungspunkte D verschiedenen Punkt N an, und construirt das dadurch bestimmte Rechteck VN.NS, so ist

$$BN : NV = BA : AQ$$
$$AN : NS = AB : BC$$

also $AN \cdot NB : VN \cdot NS = AB^2 : AQ \cdot BC$
$$= AD \cdot DB : LD \cdot DO.$$

Es ist aber $AN \cdot NB < AD \cdot DB$ (El. II. 5.)

also ist $VN \cdot NS < LD \cdot DO$

mithin bestimmt der Halbirungspunkt von AB ein gröfseres Rechteck, als jeder andere Punkt derselben.

Zusatz 3.

Construirt man ein drittes, durch den Punkt T bestimmtes Rechteck WT.TU, so ist auch

$$AT \cdot TB : WT \cdot TU = AB^2 : AQ \cdot BC$$
$$= AN \cdot NB : VN \cdot NS$$

Es ist aber $AT \cdot TB \gtrless AN \cdot NB$, je nachdem $FD \gtrless DN$, (El. II. 5.)

also ist auch $WT \cdot TU \gtrless VN \cdot NS$

mithin bestimmen die dem Halbirungspunkte von AB näher liegenden Punkte gröfsere Rechtecke, als die entfernteren.

Zusatz 4.

Beschreibt man (Fig. 39. l.) aus dem Halbirungspunkte V der Linie AB als Mittelpunkt mit einem Ra-

dius =VR einen Kreis, welcher der Verlängerung von AD in d begegne, so ist, wenn do∥BC, ok∥AQ∥dl gezogen wird, Bd : dl = BA : AQ

Ad : do = AB : BC

also $\left.\begin{matrix} Ad.dB \\ AR^2 \end{matrix}\right\}$: ld.do = $AB^2 : AQ.BC$
= $AR^2 : a^2$

folglich ld.do = a^2.

Aufgabe 98. (*Fig.* 40.)

In ein, der Art und Gröfse nach, gegebenes Dreieck ABC ein Rechteck FDEG zu legen, dessen Umfang der gegebenen geraden Linie 2S gleich sey.

Analysis.

Es sey das Rechteck DEGF das verlangte, so ist, wenn AHB = R, DE : AL = BC : AH (El. VI. 4.)

also DE — AL : AL = BC - AH : AH, wenn BC > AH;

$\left.\begin{matrix} FD+DE \\ S \end{matrix}\right\}$ - $\left\{\begin{matrix} AL+LH \\ AH \end{matrix}\right\}$

folglich ist AL, somit der Punkt L, und die Lage der geraden Linie DE, also auch das Rechteck DEGF gegeben.

Construction.

Man mache AHB = R, KA = AH, KM = BC, KN = S, NL∥HM, LD∥BC, DFB = EGB = R, so ist DEGF das verlangte Rechteck.

Determination.

Damit der Punkt L zwischen die Punkte A, H falle, mufs $\left.\begin{matrix} NK \\ S \end{matrix}\right\} > \left\{\begin{matrix} KA \\ AH \end{matrix}\right.$, und $\left.\begin{matrix} NK \\ S \end{matrix}\right\} < \left\{\begin{matrix} KM \\ BC \end{matrix}\right.$ seyn.

Beweis.

Es ist $S \begin{cases} < \\ NK \end{cases} \begin{cases} BC, \\ KM \end{cases}$ $S \begin{cases} > \\ NK \end{cases} \begin{cases} AH \\ KA \end{cases}$

also liegt der Punkt L zwischen A, H.

Ferner ist DE : AL = BC : AH

also DE — AL : AL = BC — AH : AH

folglich $DE - AL : BC - AH = LA : AH$

$FD + DE - \begin{cases} AL + LH \\ AH \end{cases} = \begin{cases} NA \\ NK - KA \\ S - AH \end{cases} : \begin{cases} AM \\ MK - KA \\ BC - AH \end{cases}$

mithin FD + DE — AH = S — AH

demnach FD + DE = S

also FD + DE + EG + GF = 2S.

Zusatz.

Wenn BC = AH, so ist die Aufgabe unmöglich, wenn zugleich $S \gtrless BC$; oder unbestimmt, wenn S = BC.

Anmerkung.

Wenn die Punkte D, E auf den Verlängerungen der Seiten BA, AC liegen sollen, so kann die Aufgabe auf ganz ähnliche Weise behandelt werden.

Aufgabe 99. (*Fig.* 41.)

In ein, der Art und Gröfse nach, gegebenes Dreieck ABC ein Rechteck zu legen, in welchem der Unterschied der Grundlinie und Höhe der gegebenen geraden Linie d gleich sey.

Analysis.

Es sey das Rechteck DEGF das verlangte, so ist, wenn AHB=R, DE : AL=BC : AH

also $\left.\begin{matrix} DE+AL \\ DE+AH-DF \\ AH-\left\{\begin{matrix} FD-DE \\ d \end{matrix}\right. \end{matrix}\right\}$: AL=BC+AH : AH

folglich ist AL, somit der Punkt L, und die Lage der geraden Linie LD, so wie das Rechteck DEGF gegeben.

Construction.

Man mache AHB=R, KA=AH, MK=BC, NK=d, NL#MH, DL#BC, FDE=DEG=R, so ist DEGF das verlangte Rechteck.

Determination.

Damit der Punkt L zwischen A, H falle, mufs seyn $\left.\begin{matrix} KN \\ d \end{matrix}\right\} < \left\{\begin{matrix} KA \\ AH. \end{matrix}\right.$

Beweis.

Es ist $\left.\begin{matrix} d \\ KN \end{matrix}\right\} < \left\{\begin{matrix} AH \text{ (Det.)} \\ KA \end{matrix}\right.$

also liegt der Punkt L zwischen A, H.

Ferner ist DE : AL=BC : AH

also $\left.\begin{matrix} DE+AL \\ AH-(FD-DE) \end{matrix}\right\}$: AL=BC+AH : AH,

folglich AH—(FD—DE) : BC+AH= $\left\{\begin{matrix} LA : AH \\ NA : AM \\ AH-d : BC+AH \end{matrix}\right.$

mithin AH—(FD—DE)=AH—d

somit FD—DE=d.

Aufgabe 100. (*Fig.* 42.)

In ein, der Art und Gröfse nach, gegebenes Dreieck ABC ein Rechteck DEFG zu legen, dessen Diagonale der gegebenen geraden Linie α gleich sey.

Analysis.

Es sey DEFG das gesuchte Rechteck, so ist, wenn

AHB=R, AM : DE=AH : BC

also $AM^2 : \left\{\begin{array}{c} DE^2 \\ EG^2-GD^2 \\ \alpha^2-HM^2 \\ KM \cdot ML \\ MR^2 \end{array}\right\} = AH^2 : BC^2$

(El. II. 5.) wenn KH=HL=α;

(El. VI. 17.) wenn ein Halbkreis über KL der Linie ME in R begegnet;

folglich AM : MR=AH : BC

mithin ist das Verhältnifs AM : MR, somit der Winkel MAR, also die Lage der geraden Linie AR, und, wegen des der Gröfse und Lage nach gegebenen Halbkreises, der Punkt R, in welchem die Linie AR mit dem Umfange zusammentrifft, folglich die Lage der geraden Linie MR, mithin sowohl der Punkt D, als der Punkt E, somit das Rechteck DEFG gegeben.

Construction.

Man mache HO=BC, KA=HL=α, beschreibe über KL einen Halbkreis, dessen Umfang die gerade Linie AO in R erreiche, ziehe die, die Linien BA, AC in

D, E schneidende, gerade Linie DR∥BC, und vollende das Rechteck DEFG, so ist dasselbe das verlangte.

Determination.

Damit der Umfang des Halbkreises die Linie AR erreiche, muſs seyn (Fig. 42. a.) $HK \left\{ \begin{matrix} \\ \alpha \end{matrix} \right\} \geqq HR$, wenn HR = R;

Es ist AO : OH = OH : HR (El. VI. 8.)

also muſs seyn $AO : OH \left\{ \begin{matrix} \geqq \\ \\ \alpha \end{matrix} \right\} OH : \alpha$

das ist $\sqrt{AH^2+BC^2} : BC \left\{ \begin{matrix} \geqq \\ \\ \alpha \end{matrix} \right\} BC : \alpha$.

Und damit der Punkt M zwischen A, H falle, muſs seyn $HK \left\{ \begin{matrix} < \\ \alpha \end{matrix} \right\} HA$.

Beweis.

Es ist $\sqrt{AH^2+BC^2} : BC \left\{ \begin{matrix} \\ AO : OH \\ OH : HR \end{matrix} \right\} \geqq BC : \alpha$ (Det.)

also $HR \left\{ \begin{matrix} \leqq \\ \\ HK \end{matrix} \right\} \alpha$

Folglich berührt (Fig. 42. a.) der Kreis die Linie AO in R, oder schneidet (Fig. 42. b.) dieselbe. Da auch $\alpha \left\{ \begin{matrix} \\ HK \end{matrix} \right\} < HA$, so geschieht das Erreichen zwischen A, R.

Ferner ist $AM : MR = AH : \left\{ \begin{matrix} HO \\ BC \end{matrix} \right.$ (El. VI. 4.)

also $AM^2 : \left\{ \begin{matrix} \text{(El. VI. 8. 17.)} \\ \text{(El. II. 5)} \end{matrix} \right. \left\{ \begin{matrix} MR^2 \\ KM \cdot ML \\ KH^2 - HM^2 \end{matrix} \right\} = \left\{ \begin{matrix} AH^2 : BC^2 \text{ (El. VI. 22.)} \\ AM^2 : \left\{ \begin{matrix} DE^2 \\ EG^2 - \left\{ \begin{matrix} GD^2 \\ HM^2 \end{matrix} \right. \end{matrix} \right. \end{matrix} \right.$

folg'ich $KH^2 - HM^2 = EG^2 - HM^2$

mithin $KH^2 = EG^2$
α^2

somit $\alpha = EG$.

Zusatz 1.

Es erhellet von selbst, dafs es im Fall eines Durchschnittes zwey Rechtecke mit der gegebenen Eigenschaft giebt; und es fällt der Punkt D des zweiten Rechteckes auf AB, so lange MR > HQ

also $AM : MR < AH : HQ$ (El. V. 8.)
$AH : BC \qquad\quad \alpha$

also $BC > \alpha$.

Zusatz 2.

Da vermöge der Determin. $\sqrt{AH^2 + BC^2} : BC$
AO
$\geq AH : \alpha$, so ist der kleinste Werth von α derjenige, für welchen $AO : BC = AH : \alpha$.

Es ist aber (Fig. 42. a.) $AO : OH = AH : HR$

also $\alpha = HR$.

Da auch $AO^2 : BC^2 = AH^2 : HR^2$
$= AH : HM$

so bestimmt derjenige Punkt M der Linie AH, für welchen $AO^2 : BC^2 = AH : HM$
$AH^2 + BC^2$

also $AH^2 : BC^2 = AM : MH$,

das Rechteck mit der kleinsten Diagonale.

Je mehr α die Linie HR übertrifft, desto mehr entfernen sich die Durchschnitte des Kreisumfanges mit AO von diesem Punkte R, folglich bestimmen die, auf einerley Seite des Punktes M (Fig. 42. a.), sich mehr entfernenden Punkte der Linie AH Rechtecke mit gröfseren Diagonalen, als die näheren.

Andere Analysis. (Fig. 42. c.)

Es sey EFGH das gesuchte Rechteck, so ist, wenn CBI=R, AI∥BC gemacht, die, die Linie EF in M schneidende, gerade Linie CI gezogen, und FE bis zum Durchschnitt mit BI in L verlängert wird,

$$\left.\begin{array}{l} EL : AI = EB : BA \\ \quad = FC : CA \\ \quad = MF : AI \end{array}\right\} \text{(El. VI. 4.)}$$

also EL=MF

folglich LM=EF

$$\text{mithin } BM = \left\{\begin{array}{l} \\ \\ \alpha \end{array}\right. HF \text{ (El. I. 26.)}$$

demnach ist BM der Gröfse nach, und vermöge Dat. 34. der Lage nach, also ist der Punkt M, und mit ihm das Rechteck gegeben.

Construction.

Man mache CBI=R, AI∥BC, ziehe die gerade Linie IC, beschreibe aus B als Mittelpunkt einen Kreis mit einem Radius $=\alpha$, ziehe durch den Punkt M, in welchem der Umfang desselben die gerade Linie CI erreicht, die, die Seiten BA, AC in E, F schneidende, gerade Linie EF, und mache EHC=R=FGC, so ist EFGH das gesuchte Rechteck.

Determination.

Damit der Kreis die Linie IC erreiche, mufs seyn $\alpha \gtrless BO$, wenn $BOC = R$.

Es ist $CI : IB = CB : BO$ (El. VI. 8.)

also mufs $CI : IB \gtrless CB : \alpha$ seyn:

$\sqrt{CB^2 + BI^2}$

Beweis.

Es ist $\left.\begin{matrix} \sqrt{BC^2 + BI^2} \\ CI \\ CB : BO \end{matrix}\right\} : IB \left.\begin{matrix} \\ \\ \\ \end{matrix}\right\} \gtrless CB : \alpha$

also $BO \gtrless \alpha$.

folglich erreicht der Umfang des Kreises die Linie CI. Es geschehe in M.

Es ist $\left.\begin{matrix} EL : AI = EB : BA \\ = FC : CA \\ = MF : AI \end{matrix}\right\}$ (s. Anal.)

also $EL = MF$

folglich $EF = LM$

somit $\left.\begin{matrix} BM \\ \alpha \end{matrix}\right\} = HF$ (El. I. 4.)

mithin ist EFGH das verlangte Rechteck.

Zusatz.

Es erhellet von selbst, dafs es im Fall eines Durchschnittes ein zweites Rechteck mit der gegebenen Eigenschaft giebt.

Aufgabe 101. (*Fig.* 43.)

In ein, der Art und Gröfse nach, gegebenes Dreieck ABC ein Rechteck DEFG zu legen, in welchem der Ueberschufs des Quadrates der Seite GD über das Quadrat der anliegenden Seite DE, dem Quadrate der gegebenen geraden Linie d gleich sey.

Analysis.

Es sey DEFG das gesuchte Rechteck, so ist, wenn AHB=R, AM : DE=AH : BC

also AM^2 : DE^2 = $AH^2 : BC^2$

$GD^2 - d^2$

$HM^2 - d^2$

LM : MK (El. II. 6.), wenn KH=HL=d;

MR^2 (El. III. 36.), wenn HR eine Tangente des über KL beschriebenen Halbkreises ist;

$AU^2 : HR^2$ (El. VI. 4. 22.), wenn LAH=R;

also AU : HR=AH : BC

folglich ist AU, somit der Punkt U, und weil der, über der gegebenen Linie KL beschriebene, Halbkreis der Gröfse und Lage nach gegeben ist, die Lage der Tangente UR, mithin auch der Durchschnitt M derselben mit der Linie AH, somit das Rechteck DEFG gegeben.

Construction.

Man mache KH=HL=d, AO∥BC, CO∥AB, PA=AO, beschreibe über KL als Durchmesser einen Kreis, dessen Umfang die Linie BH in N schneide, ziehe NQ∥AH, HU∥PQ, lege an den Kreis eine, die Linie AH in M schneidende, Tangente UR, mache

DME#BC, und vollende das Rechteck DEFG, so ist dasselbe das verlangte.

Determination.

Damit an den Kreis eine, die Linie AH zwischen A, H schneidende, Tangente gezogen werden könne, muſs $d < \begin{matrix}AH\\BK\end{matrix}$ seyn.

Beweis.

Da $d < \begin{matrix}AH\\BK\end{matrix}$, so läſst sich von U eine Tangente an den Kreis ziehen, welche die Linie AH zwischen A, H schneidet.

Ferner ist $UA : AQ = HA : \begin{cases}AP & \text{(El. VI. 2.)}\\ OA & \text{(Constr.)}\\ BC & \text{(El. I. 33.)}\end{cases}$

also $UA^2 : \begin{cases}AQ^2\\NH^2\\HR^2\end{cases} = \begin{cases}AH^2 : BC^2 & \text{(El. VI. 22.)}\\ & \text{(El. I. 33.)}\\ AM^2 : DE^2 & \text{(El. VI. 4. 22.)}\end{cases}$

$AM^2 : \begin{cases}MR^2 & \text{(El. VI. 4. 22.)}\\ LM.MK & \text{(El. III. 36.)}\\ HM^2 - d^2 & \text{(El. II. 6.)}\\ GD^2\end{cases}$

also $GD^2 - d^2 = DE^2$

folglich $GD^2 - DE^2 = d^2$.

Zusatz.

In so fern nicht $UA = HN = AQ$

also nicht $PA = \begin{matrix}AH\\BC\end{matrix}$,

läſst sich eine zweite Tangente von U aus an den Kreis ziehen, wodurch ein zweites Rechteck, dessen Punkte D, E auf den Verlängerungen der Seiten liegen, mit der gegebenen Eigenschaft bestimmt wird.

Aufgabe 102. (Fig. 44.)

In ein gegebenes schiefwinkeliges, ungleichseitiges Parallelogramm ein Quadrat zu beschreiben, dafs die Winkelpunkte des Quadrates auf die Seiten des Parallelogrammes fallen.

Analysis.

Es sey ABCD das gegebene Parallelogramm, EFGH das in dasselbe beschriebene Quadrat, so ist

$\triangle AEH \sim \triangle CFG$, $\triangle EBF \sim \triangle DGH$ (El. I. 26.)

also $AE = CG$, $AH = CF$, $BF = DH$, $BE = DG$.

Bezeichnet man den Durchschnitt der Diagonalen AC, BD des Parallelogrammes ABCD mit O, und zieht EO, OF, GO, OH, so ist

$\triangle AEO \sim \triangle CGO$ (El. I. 4.)

folglich $EO = OG$, $AOE = COG$, mithin GOE eine gerade Linie.

Da eben so gezeigt wird, dafs FOH eine gerade Linie sey, so ist O auch der Durchschnitt der Diagonalen des Quadrates. Fällt man von C, D auf FG, GH die Perpendikel CL, DM, so ist

$\triangle CLG \sim \triangle GDM$, $\triangle FCL \sim \triangle DMH$ (El. VI. 4.)

also sowohl $CL : GM = LG : MD$

als auch $MH : CL = DM : FL$

mithin $GM : MH = FL : LG$ (El. V. 22.)

folglich $GM + MH : \begin{matrix} GH \\ \{ \end{matrix} \begin{matrix} FL + LG \\ FG \end{matrix} \} = GM : FL$ (El. V. 18.)

demnach $GM = FL$

somit $MH = LG$.

Verlängert man DM, bis sie der Linie FH in Q begegnet, so ist QMH=R, QHM=$\frac{1}{2}$R;

also HQM=$\frac{1}{2}$R

folglich QM=MH=LG

mithin LQM=QLG=R;

demnach ist CLQ eine gerade Linie, und der Umfang eines, über CD beschriebenen, Halbkreises geht durch Q. Bezeichnet man mit x den zweiten Durchschnitt desselben mit FH, so ist CQx=GHF=$\frac{1}{2}$R, also Cx=$\frac{1}{2}$CxD, folglich x gegeben, mithin ist die Lage der Diagonale FH, somit die Lage der anderen Diagonale, und das ganze Quadrat gegeben.

Construction.

Ueber einer Seite CD des gegebenen Parallelogrammes beschreibe man einen Halbkreis in das Parallelogramm, und halbire dessen Peripherie in x, verbinde x mit der Mitte O des gegebenen Parallelogrammes, und verlängere Ox bis zu dessen Umfang in F, H, errichte auf FH in O das Perpendikel CG, nehme EO=OG=OF, und verbinde E, F; F, G; G, H; H, E durch gerade Linien, so ist EFGH das gesuchte Quadrat.

Beweis.

Da O die Mitte des gegebenen Parallelogrammes ist, so ist FO=OH, also halbiren die Diagonalen des Viereckes EFGH einander, sind gleich, und stehen auf einander perpendikular, folglich ist, EFGH ein Quadrat. Verbindet man den Punkt Q, in welchem der Umfang des Halbkreises die Diagonale FH trifft, mit C, D durch gerade Linien, so ist

$\angle CQD = R$, also $CQ \left\{ \begin{matrix} x \\ MQH \end{matrix} \right\} = \frac{1}{2}R$

folglich $ORQ = \frac{1}{2}R$, wenn CQ der Linie OG in R begegnet;

also $QO = OR$

folglich $HO : OG = QO : OR$

mithin $QR \parallel GH$ (El. VI. 2.)

somit $QMH = \left\{ \begin{matrix} MQL \\ R \end{matrix} \right.$

demnach $QHM = \frac{1}{2}R$

also $QM \left\{ \begin{matrix} = MH \\ LG \end{matrix} \right.$.

folglich $FL = GM$.

Ferner ist $\triangle CFL \sim \triangle DHM$ (El. VI. 4.)

mithin $CL : \left\{ \begin{matrix} MH \\ LG \end{matrix} \right\} = \left\{ \begin{matrix} FL \\ GM \end{matrix} \right\} : MD$

somit $\triangle CLG \sim \triangle GMD$

demnach $LCG = MGD$

also liegen die Punkte C, G, D in einer geraden Linie. Liegt nun G auf CD, so liegt, da O die Mitte des Parallelogrammes, und $GO = OE$ ist, der Punkt E auf AB, also ist EFGH das gesuchte Quadrat.

Aufgabe 103. (*Fig.* 45.)

In ein gegebenes Viereck ein Parallelogramm zu beschreiben, dessen Seiten zwey der Lage nach gegebenen geraden Linien parallel seyen.

Analysis.

Es sey ABCD das gegebene Viereck, EFGH das verlangte Parallelogramm, dessen Seiten EG, FH der gegebenen q, die Seiten EF, GH aber der gegebenen p parallel seyen. Zieht man durch D die DKL∥EF, und durch C die CI∥EG, so sind diese Linien der Lage nach gegeben. Nun ist △AEF ∽ △ADK, △CGH ∽ △CDL, △DHF ∽ △DCI (El. VI. 4.);

also AF : FE = AD : DK
GH : CH = LD : CD
CH : IF = CD : ID

folglich AF : FI = AD . DL : ID . DK

Zieht man LM∥BA, so ist

KD : DA = LD : DM

mithin KD . DM = AD . DL

somit AF : FI = $\left\{\begin{matrix} KD \\ MD \end{matrix}\right.$. DM : $\left\{\begin{matrix} KD \\ MD \end{matrix}\right.$. DI

demnach AF : $\left\{\begin{matrix} AF-FI \\ AI \end{matrix}\right.$ = DM : $\left\{\begin{matrix} MD-DI \\ MI \end{matrix}\right.$

also ist AF der Gröfse nach, folglich der Punkt F, mithin das Parallelogramm gegeben.

Construction.

Man ziehe CI∥q, DKL∥p, LM∥AB, nehme AF = der vierten Proportionallinie zu MI, DM, AI, ziehe die Linie FE∥DK, FH∥CI, HG∥EF, und verbinde E mit G, so ist EGHF das gesuchte Parallelogramm.

Beweis.

Es ist MI : DM = AI : AF (Constr.)

also ID : DM = FI : AF.

Auch ist ID : CD = FI : CH

folglich DM : CD = AF : CH.

Da KD : DL = AD : DM

also KD . DM = LD × DA

so ist AI : CH = MD . DK : CD . DK = LD . AD : CD . DK.

Ferner ist AF : FE = AD : DK = AD . DL : KD . DL.

folglich CH : FE = CD : DK : KD . DL = CD : DL.

Auch ist CH : GH = CD : DL

mithin FE = GH

somit EFGH das gesuchte Parallelogramm.

Aufgabe 104. (*Fig.* 46.)

Durch den Durchschnitt D zweyer, der Gröfse und Lage nach, gegebenen Kreise eine gerade Linie CE zu legen, deren in die Kreise fallenden Segmente ED, DC ein gegebenes Verhältnifs (= p : q) zu einander haben.

Analysis.

Es sey CE die gesuchte Linie, so ziehe man die Durchmesser AD, DB, verbinde B mit C durch die gerade Linie BC, welche der verlängerten AD in R begegne, und ziehe die gerade Linie AE.

Da AED = R = $\left\{\begin{matrix} DCB \\ DCR \end{matrix}\right.$ (El. III. 31.), ADE = RDC,

so ist $\triangle ADE \sim \triangle RDC$ (El. VI. 4.)

also $AD : DR = \left\{\begin{matrix} ED : DC \\ p : q \end{matrix}\right.$

folglich läfst sich DR (Dat. 2.), somit der Punkt R, mithin die Lage der geraden Linie BR, somit der Punkt C, also auch die Lage der geraden Linie CD finden.

Construction.

Man ziehe die Durchmesser AD, DB, verlängere dieselben über D hinaus, mache PD=p, DQ=q, QR ∥AP, und ziehe durch B und den Durchschnitt R der Linie QR mit der verlängerten AD die gerade Linie BR, welche den Kreis in C schneide, so ist CDE die gesuchte Linie.

Beweis.

Es ist $\left.\begin{matrix} APD+ADP \\ DQR+QDR \end{matrix}\right\} < 2R$

also schneidet QR die verlängerte AD.

Auch ist $AED = \left\{\begin{matrix} \\ DCB \\ DCR \end{matrix}\right\}$, $ADE = RDC$,

also $ED : DC = \left\{\begin{matrix} AD : DR \text{ (El. VI. 4.)} \\ PD : DQ \\ p : q. \end{matrix}\right.$

Aufgabe 105. (*Fig.* 47.)

Durch den Durchschnitt O zweyer, der Gröfse und Lage nach, gegebenen Kreise eine gerade Linie AB zu ziehen, so dafs das Rechteck aus den, in die Kreise

fallenden, Segmenten dem Quadrate der gegebenen geraden Linie β gleich sey.

Analysis.

Es sey AB die gesuchte Linie. Zieht man den Durchmesser OC des einen Kreises, und macht DAO $=$OCB, so ist $\triangle$DAO $\overline{\sim}$ $\triangle$OCB (El. VI. 4.)

also $AO : OD = CO : OB$

folglich $CO \cdot OD = \left\{ \begin{matrix} AO \cdot OB \\ \beta^2 \end{matrix} \right.$ (El. VI. 16.)

also $CO : \beta = \beta : OD$ (El. VI. 17.)

folglich ist OD (Dat. 2.), somit der Punkt D gegeben.

Da auch $CO : OB = AO : OD$, COB$=$AOD,

so ist $ADO = \left\{ \begin{matrix} OBC \\ R \end{matrix} \right.$ (El. VI. 6.)

mithin ist die Lage der geraden Linie DA, somit der Durchschnitt A derselben mit dem anderen Kreise, also die gerade Linie AOB der Lage nach gegeben.

Construction.

Man ziehe den Durchmesser CO, mache COH$=$R, OH$=\beta$, CHD$=$R, in dem Durchschnitte D der Linie HD mit der verlängerten CO nehme man ODA$=$R, und verknüpfe den Punkt A, in welchem DA mit dem anderen Kreise zusammentrifft, mit O durch die gerade Linie AO, welche den einen Kreis in B schneide, so ist AB die gesuchte Linie.

Determination.

Damit DA den Kreis erreiche, mufs, wenn KQD$=$R, und der Radius KL$\#$CD genommen wird, werden

$$QD \gtrless KL \text{ (El. III. 16.)}$$

$$\text{also } OQ+QD \left\{\begin{matrix} \\ OD \end{matrix}\right. \gtrless LK + \left\{\begin{matrix} KP \\ OQ. \end{matrix}\right.$$

$$\text{Da } CO : \beta = \beta : OD$$

$$\text{so muſs mithin } CO : \beta \gtrless \beta : KL+OQ \text{ seyn.}$$

Beweis.

$$\text{Es ist } CO : \beta \left\{\begin{matrix} \\ \beta : OD \end{matrix}\right. \gtrless \beta : \left\{\begin{matrix} PL \\ KL+OQ \end{matrix}\right.$$

$$\text{also } OD \gtrless KL+OQ$$

$$\text{folglich } QD \gtrless KL$$

mithin berührt (Fig. 47. a.), oder schneidet (Fig. 47. b.) die Linie DA den Kreis.

$$\text{Da } ADO = OBC = R, \; AOD = COB,$$

$$\text{so ist } AO : OD = CO : OB \text{ (El. VI. 4.)}$$

$$\text{also } AO \cdot OB = CO \cdot OD \text{ (El. VI. 16.)}$$

$$= \left\{\begin{matrix} HO^2 \text{ (El. VI. 17.)} \\ \beta^2. \end{matrix}\right.$$

Zusatz 1.

Es erhellet von selbst, daſs es im Fall des Schneidens zwey Linien mit der gegebenen Eigenschaft giebt.

Zusatz 2.

Zieht man durch den Punkt d (Fig. 47. a.), für welchen $Od < OD$, die Linie $da \# DA$, so ist, wenn aOb gezogen wird, $aO \cdot Ob = dO \cdot OC$ (El. VI. 4. 16.)

$$\text{also } aO \cdot Ob < \left\{\begin{matrix} DO \cdot OC \\ AO \cdot OB \end{matrix}\right.$$

folglich bestimmt dieser Punkt A ein gröfseres Rechteck, als jeder andere Punkt des Kreisumfanges.

Zusatz 3.

Zieht man durch δ, wenn $O\delta < OD$, die Linie $\delta\alpha \# DA$, so ist, wenn $\alpha O\beta$ gezogen wird,

$$\alpha O . O\beta = CO . O\delta \text{ (El. VI. 4. 16.)}$$

$$\text{also } \alpha O . O\beta < \begin{cases} CO . Od \\ ao . ob \end{cases}$$

mithin bestimmen die, dem Punkte A näher liegenden, Punkte gröfsere Rechtecke, als die entfernteren.

Aufgabe 106. (*Fig.* 48.)

Einen, der Lage und Gröfse nach, gegebenen Kreisbogen AB in einem Punkt D so zu theilen, dafs das Verhältnifs der von den Endpunkten A, B auf den durch den Punkt D gezogenen Radius CD gefällten Perpendikel By, Ax dem Verhältnifse der gegebenen geraden Linien p, q gleich werde.

Analysis.

Es sey D der gesuchte Punkt, so ist, wenn die, die Linie CD in E schneidende, gerade Linie AB gezogen wird, $\triangle BEy \sim \triangle AEx$ (El. VI. 4.)

$$\text{also } By : Ax \left\{ \begin{matrix} \\ p : q \end{matrix} \right. = BE : EA$$

folglich ist der Punkt E, mithin die Lage der geraden Linie CE, somit der Punkt D gegeben.

Construction.

Man mache auf verschiedenen Seiten der Linie AB die Linien BP, AQ einander parallel. nehme $BP = p$,

$AQ=q$, ziehe die, die Linie AB in E schneidende, gerade Linie PQ, und die, den Bogen AB in D schneidende, gerade Linie CE, so ist D der gesuchte Punkt.

Beweis.

Fällt man von B, A auf CD die Perpendikel By, Ax, so ist $\triangle BEy \backsim \triangle AEx$

$$\text{also } By : Ax = \begin{cases} BE : EA \\ BP : AQ \\ p : q. \end{cases}$$

Zusatz.

Verlängert man QA, macht $Q^1A=AQ$ und zieht PQ^1, so schneidet dieselbe, wenn $p>q$, die Verlängerung von BA in E^1 so, dafs, wenn CE^1 gezogen wird, und auf den Radius CD^1 die Perpendikel By^1, Ax^1 gefällt werden, $\triangle BE^1y^1 \backsim \triangle AE^1x^1$ (El. VI. 4.).

$$\text{also } By^1 : Ax^1 = \begin{cases} BE^1 : E^1A \\ BP : AQ^1 \\ p : q \end{cases}$$

Aufgabe 107. (*Fig.* 49.)

Einen, der Lage und Gröfse nach, gegebenen Kreisbogen BC in einem Punkte Q so zu theilen, dafs das Rechteck aus den Perpendikeln BM, CO, welche von seinen Endpunkten auf den, durch den Punkt Q gezogenen, Radius gefällt werden, dem Quadrate der gegebenen geraden Linie a gleich werde.

Analysis.

Es sey Q der gesuchte Punkt, so ist, wenn $CLB=R$ gemacht, und mit P der Durchschnitt der Linien CL,

QP, welche letztere $\#AB$, bezeichnet wird,

$$BAM = \begin{cases} AOP & \text{(El. I. 29.)} \\ OCP & \text{(El. VI. 8.)} \end{cases}$$

also $CO : OP = AB : BM$

folglich $AB : OP = \begin{cases} BM . CO & \text{(El. VI. 16.)} \\ \alpha^2 \end{cases}$

mithin $AB : \alpha = \alpha : OP$ (El. VI. 17.)

demnach ist OP, also $HK = 2OP$ gegeben, wenn CO bis zum Durchschnitt H mit dem Kreisbogen verlängert wird, und $HKL = R$, folglich ist H, mithin auch die Lage und Gröſse der geraden Linie CH, somit der Halbirungspunkt O derselben, also die gerade Linie AO der Lage nach, und der Durchschnitt Q mit dem Bogen gegeben.

Construction.

Man mache $AD = DC$, $EC \# AB \# CG$, $FC = \alpha = CE$, $FG \# DE$, $CLB = R$, $GH \# CL$, ziehe von C eine gerade Linie CH zum Durchschnitt H der Linie GH mit dem Bogen BC, halbire CB in O, und ziehe die, den Bogen B in Q schneidende, gerade Linie AO, so ist Q der gesuchte Punkt.

Determination.

Damit GH dem Bogen CB begegne, muſs

$$CG \overline{\overline{<}} LB \text{ seyn;}$$

$$\text{also } \left.\begin{matrix} \alpha \\ FC \end{matrix}\right\} : CG \overline{\overline{>}} \alpha : LB$$

$$\left.\begin{matrix} DC \\ \frac{1}{2}AB \end{matrix}\right\} : \left\{\begin{matrix} CE \\ \alpha \end{matrix}\right.$$

folglich $\frac{1}{2}AB . BL \overline{\overline{>}} \alpha^2$

mithin $AB . BL \overline{\overline{>}} 2\alpha^2$.

Beweis.

Es ist $AB \cdot BL \gtreqless 2\alpha^2$ (Det.)

also $\frac{1}{2}AB \cdot BL \gtreqless \alpha^2$

folglich $\frac{1}{2}AB : \alpha \gtreqless \alpha : BL$

$DC : CE$

$FC : CG$

α

mithin $CG \gtreqless BL$

demnach berührt (Fig. 49. a.) der Kreis den Bogen CB in B, oder schneidet ihn (Fig. 49. b.).

Im ersten Fall ist $\triangle AOB \backsim \triangle COP$ (El. VI. 4.)

also $AB : BO = CO : OP$

folglich $AB \cdot OP$

$\frac{1}{2}AB \cdot 2OP$

$CD \cdot BL$

$DC \cdot CG$

$FC \cdot CE$

α^2

$= BO \cdot OC$

Im zweiten Fall ist, wenn $BMA = Q$ und $OP \parallel AB$, $\triangle AMB \backsim \triangle COP$ (El. VI. 4.)

also $AB : BM = CO : OP$

folglich $BM \cdot CO = AB \cdot OP$

$= \frac{1}{2}AB \cdot 2OP$

$= CD \cdot \begin{cases} HK \\ CG \end{cases}$

$= EC \cdot CF$

$= \alpha^2$.

Zusatz 1.

Verlängert man (Fig. 49. b.) GH bis zum zweiten Durchschnitt H^1 mit dem verlängerten Bogen CB, so bestimmt H^1 einen zweiten Punkt Q^1 auf dem Bogen CB mit der gegebenen Eigenschaft, wie leicht erhellet.

Zusatz 2.

Für einen (Fig. 44. a.), von dem Halbirungspunkte Q des Bogens CB verschiedenen, Punkte q ist, wenn die Linien Aq, Co, oh, hk, Bm gezogen werden,

$\triangle ABm \sim \triangle Cop$ (El. VI. 4.)

also $AB : Bm = Co : op$

folglich $\left.\begin{matrix} AB \cdot op \\ \frac{1}{2}AB \cdot hl \end{matrix}\right\} = Bm \cdot Co$

Da $BO \cdot OC = \frac{1}{2}AB \cdot BL$, und $\frac{1}{2}AB \cdot BL > \frac{1}{2}AB \cdot hk$, so ist auch $BO \cdot OC > Bm \cdot CO$, mithin bestimmt der Halbirungspunkt von BC ein gröfseres Rechteck, als jeder andere Punkt des Bogens. Auch bestimmen, wie eben so erhellet, die, dem Halbirungspunkte, näher liegenden Punkte gröfsere Rechtecke, als die entfernteren.

Aufgabe 108. (*Fig.* 50.)

Einen, der Gröfse und Lage nach, gegebenen Kreisbogen AB in einem Punkte E so zu theilen, dafs das Verhältnifs der Segmente DE, EG der, in dem Punkte E an den Kreis gelegten, Tangente, welche zwischen dem Berührungspunkte und den Verlängerungen der, durch die Endpunkte der Bogen gezogenen, Halbmesser, enthalten sind, dem Verhältnisse der gegebenen geraden Linien p, q gleich sey.

Analysis.

Es sey E der gesuchte Punkt, dals also

GE : ED = p : q

so ist GE+ED : GE−ED = p+q : p−q

DG : GL = AH : GK (El. III. 30.); wenn LE=ED; wenn AKH durch den Durchschnitt der Linie CL mit dem Bogen gezogen ist, und H den Durchschnitt mit CG bezeichnet;

AO : OM = wenn AOB=R=KMO;

also ist (Dat. 33. 28. 2.) OM der Gröfse nach, somit der Punkt M, mithin die Lage der geraden Linie MK, folglich der Durchschnitt K derselben mit dem Bogen AB, also die gerade Linie AK, mithin die Lage des Perpendikels CU auf AK, und dessen Durchschnitt U mit dem Bogen gegeben.

Construction.

Man mache AOB=R, OP=p, QP=PQ'=q, Q'M ∥AQ, MK∥CB, CU perpendikular auf die gerade Linie AK, und verlängere CU bis zum Durchschnitt mit dem Bogen in E, so ist E der gesuchte Punkt.

Beweis.

Es ist AO : OM = QO : OQ'

AH : HK = p+q : p−q (El. VI. 2.)

DG : GL = wenn DEG eine Tangente ist (El. III. 16.);

also $2MB.BC = 2BC^2 + \left\{\begin{matrix} 2BC.CM \\ CB^2 + \alpha^2 \end{matrix}\right.$

$= BC^2 + \alpha^2$

folglich $CM : MB = BC^2 - \alpha^2 : BC^2 + \alpha^2$,

Es ist aber $OC : CM = 1 : \cos.ACB$

mithin $OC ; MB = BC^2 - \alpha^2 : (BC^2 + \alpha^2)\cos.ACB$

demnach muſs seyn $BC^2 - \alpha^2 \gtreqless (BC^2 + \alpha^2)\cos.ACB$

somit $BC^2(1 - \cos.ACB) \gtreqless \alpha^2(1 + \cos.ACB)$

folglich $BC^2 : \alpha^2 \gtreqless \left\{\begin{matrix} 1 + \cos.ACB : 1 - \cos.ACB \\ 1 : \tan.\frac{1}{2}ACB^2 \end{matrix}\right.$

mithin $BC : \alpha \gtreqless 1 : \tan.\frac{1}{2}ACB$

demnach $\alpha \lesseqgtr BC.\tan.\frac{1}{2}ACB$.

Beweis.

Es ist $\alpha \lesseqgtr BC.\tan.\frac{1}{2}ACB$.

Nun ist $ACB < R$

also $\frac{1}{2}ACB < \frac{1}{2}R$

folglich $\tan.\frac{1}{2}ACB < 1$

mithin $\alpha < BC$

demnach läſst sich die Linie $BH = \alpha$, als Sehne, in den Halbkreis über BC legen.

Ferner ist $BC : \alpha \gtreqless 1 : \tan\frac{1}{2}ACB$

also $BC^2 : \alpha^2 \gtreqless \left\{\begin{matrix} 1 : \tan.\frac{1}{2}ACB^2 \\ 1 + \cos.ACB : 1 - \cos.ACB \end{matrix}\right.$

folglich $BC^2(1-\cos.ACB) \gtreqless \alpha^2(1+\cos.ACB)$

mithin $BC^2-\alpha^2 \gtreqless (BC^2+\alpha^2)\cos.ACB$.

Es ist aber $OC : MB = BC^2-\alpha^2 : (BC^2+\alpha^2)\cos.ACB$

somit auch $OC \gtreqless MB$

also berührt (Fig. 51. a.), oder schneidet (Fig. 51. b.) der Kreis die Linie BD, welche in B auf BC perpendikular aufgerichtet ist.

Und es ist $BDF = R - BCD - \begin{cases} CDF \\ R - ACB \end{cases}$

$= ACD$

also $\triangle ACG \backsim \triangle BDF$ (El. VI. 4.)

folglich $CA : AG = DB : BF$

mithin $AG \cdot BD = \begin{cases} CA \cdot BF \\ CB \cdot BF \\ BH^2 \\ \alpha^2. \end{cases}$

Zusatz 1.

Es erhellet von selbst, dafs es im Fall eines Durchschnittes zwey Punkte mit der gegebenen Eigenschaft giebt.

Zusatz 2.

Da im Fall des Berührens (Fig. 51. a.) $BDF \left\{ \begin{matrix} = FCD, \\ OCD \end{matrix} \right.$

so ist E der Halbirungspunkt des Bogens, und die Punkte G, D fallen zusammen.

Zusatz 3.

Da es einen Durchschnitt giebt, wenn $\alpha > BC.\tan.\frac{1}{2}BAC$, so ist das Rechteck aus den Segmenten der Tan-

genten, welches der Halbirungspunkt des Bogens bestimmt, gröfser, als jedes, welches durch einen anderen Punkt bestimmt wird. Auch bestimmen die auf einerley Seite des Halbirungspunktes näher liegenden Punkte gröfsere Rechtecke, als die entfernteren.

Aufgabe 110. (*Fig.* 52.)

An zwey, der Gröfse und Lage nach, gegebene Kreise, deren Mittelpunkte C, D sind, von einem Punkte einer, der Lage nach gegebenen, geraden Linie AB gleiche Tangenten zu ziehen.

Analysis.

Es seyen LM, MK die gesuchten Tangenten, so ist, wenn MC, CL, MD, DK gezogen werden,

$$ML^2=MC^2-CL^2,\quad MK^2=MD^2-DK^2$$

$$\text{also } MC^2-CL^2=MD^2-DK^2$$

$$\text{folglich } MC^2-MD^2=CL^2-DK^2$$

(El. I. 47.) CH^2-HD^2 wenn $MHC=R$;

(El. II. 4.) $(CH+HD)(CH-HD)$

$DC.CG$ wenn $GH=HD$;

Da CL^2-DK^2 gegeben ist, so ist $DC.CG$, und weil DC gegeben ist, CG (Dat. 61.), folglich GD, mithin $GH=\frac{1}{2}CD$, somit der Punkt H, demnach die Lage der Linie HM, also der Punkt M gegeben.

Aufgabe 111. (*Fig.* 53. a.)

Den Ort für die Punkte zu suchen, in welchem die, in einer Ebene, an zwey, der Gröfse und Lage nach, gegebene Kreise, deren Mittelpunkte A, B sind, gezogene Tan-

genten CM, MD, deren Verhältnifs dem Verhältnifse der gegebenen geraden Linien p, q gleich ist, zusamtreffen.

Analysis.

Es seyen CM, MD zwey Tangenten, deren Verhältnifs $=p:q$, es sey FG eine beiden Kreisen gemeinschaftliche Tangente, und E so bestimmt, dafs $FE:EG=p:q$, so ist, wenn die gerade Linie AB gezogen, $MIA=R=EHA$ gemacht, und durch M, E ein Kreis beschrieben wird, dessen Mittelpunkt auf der geraden Linie AB, oder ihrer Verlängerung, in O liegt, auch die geraden Linien MO, OE gezogen werden,

$$AO^2+\left\{\begin{matrix}OM^2\\OE^2\end{matrix}\right\}=\left\{\begin{matrix}AM^2+2AO\,.\,OI\\AE^2+2AO\,.\,OH\end{matrix}\right\}\text{ (El. II. 13.)}$$

$$\text{also } AE^2-AM^2=\left\{\begin{matrix}2AO(IO-OH)\\2AO\,.\,IH\end{matrix}\right.$$

$$AF^2+FE^2-AC^2-CM^2=FE^2-CM^2$$

$$\text{Eben so ist } BO^2+\left\{\begin{matrix}OM^2\\OE^2\end{matrix}\right\}=\left\{\begin{matrix}BM^2+2BO\,.\,OI\\BE^2+2BO\,.\,OH\end{matrix}\right\}\text{ (El. II. 13.)}$$

$$\text{also } BE^2-BM^2=\left\{\begin{matrix}2BO(IO-OH)\\2BO\,.\,IH\end{matrix}\right.$$

$$BG^2+GE^2-BD^2-DM^2=GE^2-DM^2$$

$$\text{folglich } FE^2-CM^2:GE^2-DM^2=\left\{\begin{matrix}2AO\,.\,IH:2BO\,.\,IH\\AO:OB.\end{matrix}\right.$$

$$\text{Da } FE:EG=\left\{\begin{matrix}p:q\\CM:MD\end{matrix}\right.$$

$$\text{so ist } FE^2:EG^2=CM^2:MD^2.$$

also $FE^2 - CM^2 : EG^2 - MD^2 = FE^2 : EG^2$
$AO : OB = p^2 : q^2$

folglich ist AO : OB, mithin (Dat. 8.) der Punkt O, somit die gerade Linie OE, demnach der, aus O, als Mittelpunkt, mit einem Radius =OE, beschriebene Kreis gegeben. Da der Punkt M auf dem Umfange desselben liegt, so ist der gesuchte Ort gefunden.

Zusatz.

Sind drey Kreise in einer Ebene, der Gröfse und Lage nach, gegeben, so giebt der Durchschnitt zweyer Oerter den Punkt, an welchem drey, in gegebenem Verhältnisse stehende, Tangenten an die Kreise in gegebenem Verhältnisse gezogen werden können.

Aufgabe 112. (*Fig.* 53. b.)

An zwey, der Gröfse und Lage nach, gegebene Kreise, deren Mittelpunkte B, C sind, von einem Punkte einer, der Lage nach gegebenen, geraden Linie FG, die Tangenten DA, AE zu ziehen, welche mit der Linie FG gleiche Winkel bilden.

Analysis.

Es seyen DA, AE die gesuchten Tangenten, so ist, wenn EA über A hinaus verlängert wird, HAK=DAH. Macht man BHA=R, verlängert BH um LH=HB, und zieht BA, AL, so ist

BAH=HAL (El. I. 4.)

also DAB=LAK

folglich $\triangle DAB \sim \triangle AKL$ (El. I. 26.), wenn LKA= R gemacht, und BD gezogen wird;

mithin LK=DB

demnach ist ein aus L mit LK beschriebener Kreis, der Gröfse und Lage nach, gegeben, und weil AK eine Tangente dieses Kreises ist, die Aufgabe auf die andere reducirt: an zwey, der Gröfse und Lage nach, gegebene Kreise eine gemeinschaftliche Tangente zu ziehen.

Aufgabe 113. (*Fig.* 54.)

Zwischen zwey, der Gröfse und Lage nach, gegebene concentrische Kreise ein, der Art nach gegebenes, Dreieck ABC zu legen.

Analysis.

Es sey ABC das gesuchte Dreieck, so ist, wenn CA bis zum Durchschnitt D mit dem gröfseren Kreise verlängert wird, BD der Gröfse nach gegeben (Dat. 91.). In so fern der Punkt D als gegeben angesehen wird, ist also auch der Punkt B gegeben. Da BAC gegeben ist, so ist der Winkel DAB, folglich ein über DB des Winkels DAB fähiger Kreisabschnitt, mithin der Punkt A (Dat. 28.), somit das Dreieck ABC gegeben.

Aufgabe 114. (*Fig.* 55.)

Ein Quadrat zu beschreiben, in welchem der Ueberschufs der Diagonale über die Seite einer gegebenen geraden Linie gleich sey.

Analysis.

Es sey ABCD das gesuchte Quadrat, so ist, wenn EA=AB, CEF=R gemacht wird,

$\triangle CEF \sim \triangle CBA$

folglich $CE : EF = CB : BA$

also $CE = EF$.

Zieht man die gerade Linie AF, so ist $\triangle AEF \sim \triangle ABF$, weil $EA = AB$, $AF = FA$, $\angle AEF = R = ABF$, also ist $EF = FB$, folglich ist BF gegeben. Da $CF^2 = CE^2 + EF^2 = 2CE^2$, so ist CF, mithin CB, somit CB^2 gegeben.

Aufgabe 115. (*Fig.* 56.)

Einen Kreis zu beschreiben, welcher einen, der Gröfse und Lage nach, gegebenen Kreis, dessen Mittelpunkt C ist, und eine der Lage nach gegebene gerade Linie MN berühre, und durch einen gegebenen Punkt A gehe.

Analysis.

Es sey ADG der gesuchte Kreis, K der Mittelpunkt, $\left\{\begin{matrix} G \\ F \end{matrix}\right\}$ der Berührungspunkt $\left\{\begin{matrix} \text{des Kreises} \\ \text{der Linie} \end{matrix}\right\}$, so ist, wenn die durch G gehende gerade Linie CK, und die, den gegebenen Kreis in B, H schneidende, auf MN perpendikulare gerade Linie CE, auch sowohl die gerade Linie BG, als GF, FK gezogen wird,

$\triangle BCG \sim \triangle GKF$ (El. VI. 6.)

also $KGF = CGB$

folglich ist BGF eine gerade Linie (El. I. 15. Conv.), mithin $DB \cdot BA = GB \cdot BF$ (El. III. 36.), wenn die, den Kreis ADG in D schneidende, gerade Linie AB gezogen wird;

=HB : BE (El. III. 31. VI. 4. 16.), wenn die gerade Linie GH gezogen wird;

somit AB : BE=HB : BD (El. VI. 16.)

demnach ist BD, also der Punkt D gegeben, folglich die Aufgabe auf die andere reducirt: einen Kreis zu beschreiben, welcher durch zwey gegebene Punkte gehe, und eine der Lage nach gegebene gerade Linie berühre.

Aufgabe 116. (*Fig.* 57.)

Einen Kreis zu beschreiben, welcher zwey, der Lage nach gegebene, gerade Linien BA, AD, und einen zwischen denselben, der Lage nach gegebenen, keine derselben erreichenden Kreis, dessen Mittelpunkt C sey, berühre.

Analysis.

Es seyen O, K, L, M der Mittelpunkt und die Berührungspunkte des gesuchten Kreises, so ist, wenn KL, LM, MK gezogen, auch letztere bis zu den Durchschnitten F, E mit dem gegebenen Kreise verlängert werden, und wenn man die gerade Linie EF zieht, auch in M die gemeinschaftliche Tangente TU beider Kreise anlegt, KMT } =KLM (El. III. 32.)
UMF }
(El. III. 32.) MEF }

also KL ∥ EF (El. I. 29.)

folglich KA : AL=GA : AH, wenn die Verlängerung von EF die Linien GA, AH in G, H schneidet;

mithin GA=AH (El. III. 17.)

Zieht man die (El. III. 12.) durch M laufende gerade Linie OC, so ist, wenn die geraden Linien KO, FC gezogen werden, $\triangle KOM \sim \triangle MCF$ (El. VI. 7.)

also $MOK = MCF$

folglich $KO \# FC$

mithin $FBA = OKA$, wenn die verlängerte FC der Linie AG in B begegnet;

$= R$

demnach ist die Lage der Linie CB (Dat. 33.), somit der Punkt F (Dat. 28.) gegeben.

Da eben so gezeigt werden kann, dafs der Punkt E gegeben sey, so sind auch die Punkte G, H gegeben. Macht man $GI = HE$, und zieht die gerade Linie IK, so ist $\triangle KGI \sim \triangle LEH$ (El. I. 4.)

also $KIG = \begin{cases} LEH \\ ELK \text{ (El. I. 29.)} \\ GKF \text{ (El. III. 32.)} \end{cases}$

folglich $\triangle KGF \sim \triangle IGK$ (El. VI. 4.)

mithin $FG : GK = KG : GI$

demnach ist GK, somit der Punkt K, also sind auch die Punkte M, L gegeben, folglich ist der gesuchte Kreis gefunden.

Anmerkung.

Fig. 57. giebt in den beiden Theilen (Fig. 57. a. b.) Anleitung, wie 4 Kreise mit den gegebenen Eigenschaften zu finden sind.

Aufgabe 117. (*Fig.* 58.)

Einen Kreis zu beschreiben, welcher zwey, der Gröfse und Lage nach gegebene, ungleiche Kreise, deren Mittelpunkte A, B seyen, und eine, der Lage nach gegebene, gerade Linie CD, welche keinen der Kreise erreicht, berühre.

Analysis.

Es seyen O, M, N, P der Mittelpunkt und die Berührungspunkte des gesuchten Kreises, so ist, wenn die geraden Linien MN, NP, PM gezogen, bis zu den Durchschnitten H, G, F, E mit den Kreisen verlängert, und EG, FH gezogen werden,

EG ∥ FP, FH ∥ EP (El. III. 32.)

also $\triangle EGM \sim \triangle MNP \sim \triangle NHF$ (El. VI. 4.)

folglich $\triangle EAM \sim \triangle MOP \sim \triangle FBH$ (El. III. 20. VI. 4.)

mithin EA ∥ OP ∥ FB

somit ECP = FDP = R (El. I. 29.), wenn die verlängerten EA, FB die Linie CD in C, D schneiden;

demnach sind die Punkte E, F, C, D gegeben (Dat. 33. 28.). Zieht man die geraden Linien EF, AB, so schneiden die Verlängerungen derselben einander in dem Punkte K, so dafs AK : KB = EA : BF (El. VI. 4.), also ist (Dat. 8.) der Punkt K gegeben.

Macht man die Sehne GI ∥ EF, und zieht die gerade Linie IM, welche verlängert der Linie EK in L begegne, so ist EPF = PEG (El. I. 29.)

$$= 2R - \begin{cases} GIM \\ MLK \end{cases}$$

$$= MLE$$

also FE : EP = ME : EL (El. VI. 4.).

Es ist CE : EP = ME : EU, wenn U der Durchschnitt der Linie EC mit dem Kreisumfange ist;

folglich FE . EL = CE . EU (El. VI. 16.)

mithin FE : EC = UE : EL

demnach iss EL (Dat. 2.), somit KL gegeben. Legt man in G eine Tangente GQ an den Kreis, welche der verlängerten FE in Q begegne, so ist

$$QGM = \begin{cases} GIM & \text{(El. III. 32.)} \\ MLK \end{cases}$$

also LK : KM = GK : KQ

folglich LK . KQ = GK . KM.

Da GK . KM gegeben ist (Dat. 95.), so ist LK . KQ, mithin KQ (Dat. 61.), somit der Punkt Q, also der Punkt G, somit der Kreis MNP gegeben.

Aufgabe 118. (*Fig.* 59.)

Einen Kreis zu beschreiben, welcher zwey, der Gröfse und Lage nach gegebene, einander ungleiche Kreise, deren Mittelpunkte A, B sind, berühre, und durch einen gegebenen Punkt F gehe.

Analysis.

Es seyen C, D, E der Mittelpunkt und die Berührungspunkte des gesuchten Kreises, so ist, wenn die gerade Linie DE gezogen, und bis zum Durchschnitt I mit der Verlängerung der geraden Linie AB verlängert wird, CDE = CED

also ADG = BEN, wenn AD, BE gezogen werden, und G, N die Durchschnittspunkte der verlängerten DE mit den Kreisen sind;

AGD = EBN (El. I. 5.), wenn die gerade Linie AG gezogen wird;

folglich AG ∥ EB (El. I. 28.).

mithin GAL = EBK (El. I. 29.)

somit GLA = EKB, wenn E, G mit den Durchschnitten K, L der Linie AG und ihrer Verlängerung mit den Kreisen verbunden wird (El. I. 5.);

EDH wenn D mit dem Durchschnitte H der Linie AB und des gröfseren Kreises verknüpft wird;

demnach $EDH + EKH = \begin{cases} EKB + EKH \\ 2R \end{cases}$

also liegen D, E, K, H auf dem Umfange eines Kreises (El. III. 22.), folglich ist

$HI \cdot IK = \begin{cases} DI \cdot IE \text{ (El. III. 36.)} \\ FI \cdot IM \text{ (El. III. 36.), wenn M den Durchschnitt der geraden Linie mit dem gesuchten Kreise bezeichnet;} \end{cases}$

mithin FI : IH = KI : IM

demnach ist IM der Gröfse nach gegeben.

Da AI : IB = AG : BE (El. VI. 4.)

so ist, wegen des gegebenen Verhältnisses AG : BE, der Punkt I (Dat. 8.), also die gerade Linie IF der Lage nach, folglich der Punkt M gegeben, mithin ist die

Aufgabe auf die andere reducirt: einen Kreis zu beschreiben, welcher durch zwey gegebene Punkte gehet, und einen, der Gröfse und Lage nach gegebenen, Kreis berührt.

Andere Analysis

nach Rob. Simson (s. dessen opera reliqua, App. p. 21.)

Es seyen C, D, E der Mittelpunkt und die Berührungspunkte des gesuchten Kreises, so ist, wenn DE bis zu dem Durchschnitte I mit der verlängerten AB verlängert wird, und, wie vorhin, die geraden Linien DC, CE, DG, EN, GA, AD, EB, BN gezogen werden,

CDE = CED
ADG = BEN
AGD

also AG ∥ ED

folglich AI : IB = GI : IE

mithin (Dat. 8.) der Punkt I gegeben.

Zieht man die, den gröfseren Kreis in Q schneidende, gerade Linie FD, so ist, wenn die geraden Linien QG, EF gezogen werden, und in D die zweyen Kreisen gemeinschaftliche Tangente TU angelegt wird,

TDG = DQG (El. III. 32.)
UDE
(El. III. 32.) DFE

also QG ∥ EF

folglich RI : IF = GI : IE (El. VI. 4.), wenn die verlängerte QG der verlängerten IF in R begegnet;

= AI : IB

mithin ist (Dat. 8.) der Punkt R gegeben. Demnach

gehen die Verlängerungen der Seiten des, in dem gröfseren Kreise liegenden, Dreieckes DGQ durch die, in gerader Linie gegebenen, Punkte E, F, I, also können die Punkte G, D, Q nach Aufg. 142. gefunden werden, folglich ist der gesuchte Kreis gegeben.

Aufgabe 119. (*Fig.* 60.)

An einem gegebenen Dreiecke drey Kreise zu beschreiben, wovon jeder die beiden anderen und zwey Seiten des Dreieckes berühre, so aber, dafs einer von ihnen die beiden übrigen umschliefse.

Analysis.

Es sey ABC das gegebene Dreieck; DIF und EIG seyen zwey der verlangten Kreise, die einander in I, die Seiten des Dreieckes aber in D, E, F, G berühren. Der dritte Kreis kann, wenn er jene berühren, sie umschliefsen, und zugleich zwey Seiten des Dreieckes berühren soll, nicht anders, als durch D und E gehen, und mufs die Seiten AB, AC in diesen Punkten berühren. DEP sey dieser dritte Kreis. Da die 3 Kreise einander berühren, so müfsen die gemeinschaftlichen Tangenten in den Berührungspunkten in einem Punkte zusammentreffen, oder, die Tangente an I mufs durch A gehen. AI treffe BC in K, so ist der Kreis DFI in dem Dreiecke ABK, und der Kreis EIG in dem Dreiecke AKC eingeschrieben; und diese Kreise wären bestimmt, wenn nur noch AK, oder der Punkt K gefunden wäre. Zieht man durch B und M, C und N gerade Linien, welche sich in O treffen, so ist O der Mittelpunkt eines in das gegebene Dreieck eingeschriebenen Kreises. Zieht man OK, so bleibt die Lage dieser Linie zu untersuchen.

Da der Kreis DOF im Dreieck ABK eingeschrieben ist, so ist AD=AI, BD=BF, KI=FK; daher 2AI=AB+AK—BK. Eben so, da der Kreis IGF im Dreieck AKC eingeschrieben ist, hat man 2AI=AC+AK—KC, daher AB—BK=AC—KC, oder AB—AC=BK—KC.

Es ist aber auch BC=BK+KC

daher AB+BC—AC=2BK

also steht OK senkrecht auf BC, somit ist der Punkt K, die Linie AK, und alles übrige gegeben.

Construction.

Man halbire zwey Winkel des gegebenen Dreieckes z. B. ABC, ACB; vom Punkte O, worin die halbirenden Linien zusammentreffen, fälle man eine senkrechte OK auf eine der Seiten BC; verbinde K mit A, und beschreibe in jedes der Dreiecke ABK, ACK einen Kreis ein. Die Kreise seyen DIF, EIG. Durch die Berührungspunkte D, E und die Mittelpunkte M, N ziehe man die geraden Linien DH, HE, und beschreibe aus H als Mittelpunkt mit DH, oder HE wieder einen Kreis, welcher der dritte der verlangten seyn wird.

Beweis.

Da DIF ein im Dreieck ABK eingeschriebener Kreis ist, so ist 2AD=AB+AK—BK; eben so ist in △ACK

2AE=AC+AK—CK

oder 4AD+2BK=2AB+2AK

4AE+2CK=2AC+2AK

Da aber wegen Halbirung der Winkel ABC, ACB der Punkt O von den drey Seiten des gegebenen Dreieckes gleich weit absteht, und OK senkrecht auf BC ist, so ist 2BK=AB+BC—AC

2CK=AC+BC—AB

daher ist $4AD+AB+BC-AC=2AB+2AK$

$4AE+AC+BC-AB=2AC+2AK$

oder $4AD=AB-BC+AC+2AK$

$4AE=AB-BC+AC+2AK$

mithin $AD=AE$. Also sind auch die Entfernungen des Punktes A von den Berührungspunkten der Kreise DF und EG mit AK gleich; oder diese Kreise berühren AK in demselben Punkte I, also auch einander selbst in diesem Punkte. Endlich da $AD=AE$, so ist $\triangle ADH \cong \triangle AEH$, $DH=HE$, also berührt der dritte aus H mit DH beschriebene Kreis auch die beiden anderen und die Seiten AB, AC in D und E.

Aufgabe 120. (Fig. 61.)

Auf der, der Lage nach gegebenen, geraden Linie AB, auf welcher die Punkte A, D, B gegeben sind, einen Punkt L zwischen D, B zu finden, das das, zwischen den Umfängen der über AB, DL beschriebenen Kreise liegende, Segment EF der, von B an den zweiten Kreis gezogenen, Tangente BF der Linie AD gleich sey.

Analysis. (Fig. 61. a.)

Es seyen O, DL, der Mittelpunkt und Durchmesser des gesuchten Kreises, F der Berührungspunkt der Tangente BF, deren Verlängerung dem Kreise über AB in E begegne, so ist, wenn die geraden Linien OF, AE gezogen werden, $AEB=R=OFB$ (El. I. 31. III. 18.)

also $AE \parallel OF$.

Zieht man die den Umfang des gegebenen Kreises in G schneidende gerade Linie $BG \parallel AE$, auch $FH \parallel AE$, welche

von der geraden Linie AG in H geschnitten werde, so ist $\left.\begin{matrix}EF\\DA\end{matrix}\right\}=AH$, $BF=HG$ (El. I. 34.).

Macht man $ADI=R$, und zieht den Durchschnitt I der Linie DI und FH mit dem Punkte A durch die gerade Linie AI zusammen, so ist

$$\triangle ADI \cong \triangle IAH$$

$$\text{also } DAI=IAH, \quad \left.\begin{matrix}DI\\FB\\HG\end{matrix}\right\}=IH \quad \text{(El. I. 26.)}$$

folglich ist, wenn die, den Bogen AEB in M schneidende, gerade Linie GI gezogen wird,

$$\left.\begin{matrix}KGI\\KGM\end{matrix}\right\}=\left\{\begin{matrix}IGH\\MGA\end{matrix}\right.$$

mithin arc.AM=arc.MB

somit $MAC=\frac{1}{2}R$, wenn die gerade Linie AM gezogen wird;

$$\text{demnach } MAI=\left.\begin{matrix}\frac{1}{2}R\\MGA\end{matrix}\right\}+\left\{\begin{matrix}DAI\\GAI\end{matrix}\right.$$

$$=MIA$$

also $AM=MI$

folglich liegt der Punkt I auf dem Umfange eines, der Gröfse und Lage nach gegebenen, Kreises, ist mithin, da er auch auf der, der Lage nach gegebenen, Linie DI liegt, gegeben, somit ist die gerade Linie MI der Lage nach, also der Durchschnitt G der Verlängerung derselben mit dem Kreise, mithin die Linie AG, somit $BF \# AG$, $IF \# BG$, also sowohl der Punkt F, als der Punkt O, somit die gerade Linie OD gegeben.

Zusatz.

Da der, aus M mit einem Radius =MA beschriebene, Kreis die Linie DI zweymal schneidet, so bestimmt der zweite Durchschnitt I′ (Fig. 61. b.) einen zweiten Kreis über der Linie DL′ mit der Eigenschaft, dafs das, zwischen die Peripherieen der Kreise fallende, Segment E′F′ der, vom B an den Kreis über DL gezogenen, Tangente BF′=AD wird, welches aus der Figur leicht erhellet.

Anmerkung 1.

Da HI=IK, wenn IKG=R gemacht wird, also ein um I als Mittelpunkt mit einem Radius =IH beschriebener Kreis die Linien AB, BG in D, K berührt, so ist

DB=BK (El. III. 17.)

also $BD-DA=BK-\begin{cases}DA\\AH\end{cases}$

$=BG-GA$

$=AE-EB$

mithin läfst sich △AEB nach Aufg. 7. Zus. 2., somit der Punkt O finden.

Anmerkung 2.

Da AE—EB=BD—DA (Anm. 1.)

so ist $\left.\begin{matrix}AE^2+EB^2\\AB^2\end{matrix}\right\}-2AE\,.\,EB=BD^2+DA^2-2BD.DA$

$AD^2+DB^2+2AD.DB$

also $2AD\,.\,DB=\begin{cases}AE\,.\,EB\\AB\,.\,EQ,\end{cases}$ wenn EQB=R;

folglich AB:BD=2AD:EQ

mithin ist EQ, somit E, und das Dreieck AEB, wie der Punkt O, gegeben.

Anmerkung 3.

Pappus führt in seinen collection. math. diese Aufgabe auf einen Fall der Schrift des Apoll. de sect. det. zurück. Kraft (Geom. subl. §. 208.) und Klügel (Wörterb. Art. Anw. der Alg. auf Geom.) bringen dieselbe auf eine quadratische Gleichung, welche zu keiner einfachen Auflösung führt.

Aufgabe 121.

Den Punkt zu finden, in welchem die Entfernungen dreyer, der Lage nach gegebenen, mit jenem Punkte in einerley Ebene sich befindenden, geraden Linien unter gegebenen Winkeln erscheinen. Siehe Euklids Data, herausgeg. von Schwab, Stuttgart 1780. Aufg. 28. Des Apoll. ebene Oerter, herausgeg. von Camerer, 2. Aufl., Aufg. 5. Ebene Trigonometrie von Pfleiderer, Tübingen 1802 §. 119.

Aufgabe 122. (Fig. 62.)

Auf den, in einer Ebene der Lage nach gegebenen, in einem Punkte sich schneidenden, geraden Linien BA, AC, AD die Punkte B, C, D zu finden, so dafs deren gegenseitige Entfernungen BC, CD, DB den gegebenen geraden Linien a, b, c gleich seyen.

Fall 1.

Es sey $c=a+b$ (Fig. 62. a.).

Analysis.

Es seyen die, in gerader Linie liegenden, Punkte B, C, D die gesuchten, so ist, wenn $CE \parallel AB$ gezogen, und bis zum Durchschnitt mit AD in E verlängert wird,

ECA=BAC (El. I. 29.), also △EAC der Art nach (Dat. 43.), folglich das Verhältnifs AC : CE gegeben. Da

BA : CE = BD : DC

= c : b, so ist auch das Verhältnifs BA : CE, somit das Verhältnifs BA : AC (Dat. 9.), mithin △BAC der Art nach (Dat. 41.), also der Winkel ACB gegeben. Da BC der Gröfse nach gegeben, so sind (Dat. 37. 34. 28.) die Punkte B, C, somit ist auch der Punkt D gegeben.

Construction und Beweis

lassen sich aus der Analysis leicht herleiten.

Fall 2.

Es sey c > a + b (Fig. 62. b.).

Analysis.

Es seyen B, C, D die gesuchten Punkte, so läfst sich, wenn BDE = BAC gemacht, und DE bis zum Durchschnitt E mit AC verlängert wird, ein Kreis durch die Punkte A, D, E, B beschreiben, also ist DBE = DAE, folglich ist das Verhältnifs BD : DE gegeben. Da auch das Verhältnifs BD : DC gegeben ist, so ist das Verhältnifs ED : DC gegeben. Da die Winkel BDC, BDE gegeben sind, so ist der Winkel EDC, folglich das Dreieck EDC der Art nach, mithin der Winkel DCE, somit der Winkel DCG, also das Dreieck DCG der Art nach, folglich das Verhältnifs CD : DG, mithin die Linie DG, somit die Linie BG gegeben. Also ist dieser Fall auf den vorhergehenden reducirt.

Construction, Determination, Beweis

ergeben sich aus der Analysis.

Aufgabe 123. (*Fig.* 63.)

Ein Dreieck zu beschreiben, dessen Grundlinie BC, Winkel A der Spitze gegeben seyen, und worin das Verhältniſs eines Schenkels BA zu demjenigen Segmente CD des anderen, welches zwischen der Grundlinie BC und einem, in einer Entfernung von der Spitze A = der gegebenen geraden Linie α gelegenen, Punkte D enthalten ist, dem Verhältniſse der gegebenen geraden Linien p, q gleich sey.

Analysis.

Es sey $\triangle BAC$ das verlangte, so ist verm. (Dat. 76.)

$$\left.\begin{array}{l} (BA+AC)^2 \\ \left(\frac{p.BA+p.AC}{p}\right)^2 \\ \left(\frac{p.BA+p.CD+p\alpha}{p}\right)^2 \\ \left(\frac{(p+q)BA+p\alpha}{p}\right)^2 \\ \left(\frac{p+q}{p}\right)^2\left(BA+\frac{p}{p+q}\alpha\right)^2 \end{array}\right\} - BC^2 : \triangle ABC = 4EG : GA, \text{ wenn } EA = AC, AGE = R;$$

$$= 4 : \tan.\tfrac{1}{2}BAC$$

$$= 4\cos.\tfrac{1}{2}BAC : \sin.\tfrac{1}{2}BAC$$

Es ist $LB : BA = \sin.BAC : 1$, wenn $BLA = R$;

$$\left.\begin{array}{l} \tfrac{1}{2}CA.BL \\ \triangle ABC \end{array}\right\} : \left\{\begin{array}{l} \tfrac{1}{2}CA.AB \\ \frac{(\alpha+\frac{q}{p}AB)AB}{2} \end{array}\right\} = 2\sin.\tfrac{1}{2}BAC.\cos.\tfrac{1}{2}BAC : 1$$

---

also ist $\left(\frac{p+q}{p}\right)^2\left(BA+\frac{p}{p+q}\alpha\right)^2 - BC^2 : \frac{(\alpha+\frac{q}{p}AB)AB}{2}$

$$= 8\cos.\tfrac{1}{2}BAC^2 : 1$$

---

folglich $\left(BA+\frac{q}{p+q}\alpha\right)^2-\left(\frac{p}{p+q}\right)^2 BC^2 : \left\{\begin{matrix}\left(\alpha+\frac{q}{p}AB\right)AB \\ \frac{q}{p}\left(\frac{p}{q}\alpha+AB\right)AB\end{matrix}\right\}$

$=4p^2\cos.\frac{1}{2}BAC^2 : (p+q)^2$

---

mithin $\left(BA+\frac{p}{p+q}\alpha\right)^2-\left(\frac{p}{p+q}BC\right)^2 : \left(\frac{p}{q}\alpha+AB\right)AB$

$=4pq\cos.\frac{1}{2}BAC^2 : (p+q)^2$

d. i. $(BA+\beta)^2-\gamma^2 : (AB+\delta)AB=4pq\cos.\frac{1}{2}BAC^2 : (p+q)^2$,

wenn $\frac{p}{p+q}\alpha=\beta$, $\frac{p}{p+q}BC=\gamma$, $\frac{p}{q}\alpha=\delta$ gesetzt wird; oder es ist, wenn man $AB=bx=x$, $be=\beta$, $ae=ed'=\gamma$, $bc=\delta$ setzt, $\left.\begin{matrix}Ex^2-EA^2 \\ ax\,,\,xd\end{matrix}\right\} : bx\,.\,xc=4pq\cos.\frac{1}{2}BAC^2 : (p+q)^2$

also ist die Aufgabe auf Apollonius von Perga de sect. det. Buch II. Aufg. 3. reducirt.

Aufgabe 124. (*Fig.* 64.)

Durch drey, in einer Ebene der Lage nach gegebene, gerade Linien, AB, AC, CD, welche einander nicht in einem und demselben Punkte schneiden, eine gerade Linie DEF zu legen, deren zwischen jene Linien fallende Segmente DE, EF gegebenen geraden Linien gleich seyen.

Analysis.

Es sey DEF die gesuchte Linie, so ist, wenn EL $\#$BC gezogen wird, $\left.\begin{matrix}AE:EL=AB:BC \\ EL:CD=EF:FD\end{matrix}\right\}$ (El. VI. 4.)

$=BC:CG$, wenn $BC:CG=EF:FD$;

---

also AE : CD = AB : CG

folglich EB : DG = AB : CG (El. V. 19.)

also ist BE : DG gegeben. Da auch DE der Gröfse nach, und der Winkel DBE gegeben ist, so ist die Aufgabe auf die vorhergehende reducirt.

Anmerkung.

Die Aufgabe: auf jeder von drey, in einer Ebene der Lage nach gegebenen, nicht in einem Punkte sich schneidenden, geraden Linien einen Punkt zu finden, so dafs deren gegenseitige Entfernungen gegebenen geraden Linien gleich seyen, fällt zusammen mit der anderen:

Ein der Art und Gröfse nach gegebenes Dreieck in ein anderes, gleichfalls der Art und Gröfse nach gegebenes, Dreieck so zu legen, dafs die Winkelpunkte des ersteren auf die Seiten des letzteren, oder die Verlängerungen desselben fallen.

Aufgabe 125. (*Fig.* 65.)

Durch zwey, in der Ebene eines, der Gröfse und Lage nach gegebenen, Kreises, dessen Mittelpunkt C ist, gegebene Punkte A, B einen Kreis zu beschreiben, welcher den gegebenen Kreis so schneide, dafs die gemeinschaftliche Sehne FG der gegebenen geraden Linie M gleich sey.

Analysis.

Es sey FBGA der gesuchte Kreis, so ist, wenn die geraden Linien AB, FG gezogen, und, wo nöthig, verlängert werden, bis sie einander in O schneiden,

AO . OB = FO . OG

= DO . OE, wenn die beliebige gerade Linie OED durch den gegebenen Kreis gezogen wird;

also liegen A, B, E, D auf dem Umfange eines Kreises, welcher, da A, B gegeben sind, und E willkührlich angenommen werden kann, der Gröfse und Lage nach gegeben ist, folglich ist die gerade Linie DE der Lage nach, mithin der Durchschnitt O mit der, der Lage nach gegebenen, geraden Linie AB gegeben. Da von O in den gegebenen Kreis eine Sehne FG = der gegebenen Linie M gelegt werden kann, so ist der Punkt G, somit der, durch A, B, G zu beschreibende, Kreis gegeben.

Construction.

Man beschreibe durch A, B und den, auf dem Umfange des gegebenen Kreises willkührlich angenommenen, Punkt D einen, den Umfang des gegebenen Kreises in E schneidenden, Kreis, ziehe die, die (wo nöthig) verlängerte gerade Linie AB in O schneidende, gerade Linie DE, mache die Sehne HK des gegebenen Kreises = M, CLK = R, beschreibe aus C als Mittelpunkt mit einem Radius = CL einen Kreis, und lege an denselben eine Tangente OI, so wird, wenn OI den gegebenen Kreisumfang in G, F schneidet, ein durch A, B, G gelegter Kreis der verlangte seyn.

Determination.

Damit die Sehne HK = M in den Kreis gelegt werden könne, mufs M $\leqq$ als der Durchmesser des gegebenen Kreises seyn.

Beweis.

Da $M \leqq$ als des gegebenen Kreises Durchmesser ist (Det.), so läſst sich eine Sehne $HK = M$ in diesen Kreis legen, also ist CL kleiner, als der Halbmesser, folglich läſst sich von O eine Tangente an den gegebenen Kreis legen.

Ferner ist $AO \cdot OB = \begin{cases} EO \cdot OD \\ GO \cdot OF \end{cases}$

also liegt F auf dem Umfange des durch A, B, G gelegten Kreises.

Da $LC = CI$, wenn die gerade Linie CI gezogen wird, so ist $\overline{FG} = \begin{cases} HK \\ M \end{cases}$

folglich ist der durch A, B, G beschriebene Kreis der gesuchte.

Anmerkung 1.

Es erhellet von selbst, welche leichte Modificationen die Construction erleide, wenn $AB \# DE$ wird, oder A, B innerhalb des gegebenen Kreises, oder theils innerhalb, theils ausserhalb desselben gegeben werden.

Anmerkung 2.

In dieser Auflösung ist zugleich eine einfache Auflösung der Aufgabe enthalten: einen Kreis zu beschreiben, welcher durch zwey gegebene Punkte gehe, und einen, der Gröſse und Lage nach gegebenen, Kreis berühre.

Aufgabe 126. (*Fig.* 66.)

Ein Viereck ABCD zu beschreiben, in welchem die Seiten AB, BC, CD, DA den gegebenen geraden Linien M, N, P, Q gleich, und die an der Seite AB liegenden Winkel einander gleich seyen.

Analysis.

Es sey ABCD das gesuchte Viereck, so ist, wenn die Diagonale AC gezogen, und die, die Linie BC in F schneidende, gerade Linie DF ∥ AB gezogen wird,

$$\triangle CGF \backsim \triangle CAB$$

$$\text{also } \left.\begin{matrix} CB : BA \\ N : M \end{matrix}\right\} = \left\{\begin{matrix} CF \\ CB - \left\{\begin{matrix} BF \\ KE \\ AD \end{matrix}\right\} \end{matrix}\right\} : FG$$

wenn die der Linie DA parallel gezogene gerade Linie CE den Linien AB, DF in E, K begegnet;

$$= N - Q : FG$$

folglich ist $\left\{\begin{matrix} FG \\ FD - DG \end{matrix}\right\}$ gegeben.

Ferner ist $\triangle CKG \backsim \triangle ADG$

mithin $AD : CK = DG : GK$

$$\text{somit } \left.\begin{matrix} AD + CK \\ BC \end{matrix}\right\} : AD = \left\{\begin{matrix} DG + GK \\ DK \end{matrix}\right\} : DG.$$

Beschreibt man, aus C, als Mittelpunkt, mit einem Radius $= CF$, einen Kreis, dessen Peripherie die Linie DC und ihre Verlängerung in L, O schneide, so ist

$$DL = DC - CF \quad , \quad DO = DC + CF$$
$$= P - (N - Q) \qquad = P + (N - Q)$$

also sind LD, DO gegeben.

Wird die gerade Linie GI so bestimmt, dafs

$$CB : LD = DO : GI$$

so ist GI gegeben, und $CB \cdot GI = \left\{ \begin{matrix} LD \cdot DO \\ FD \cdot DK \end{matrix} \right.$

also $CB : FD = DK : GI$

Da $CB : AD = KD : DG$

so ist $FD : DA = IG : GD$

folglich $FD \cdot DG = DA \cdot IG$

mithin ist FD . DG gegeben, demnach (Dat. 85.) sowohl FD, als DG, somit das Viereck ABCD gegeben.

Construction.

Man mache FG= der vierten geometrischen Proportionallinie zu N, M, N—Q, errichte in G, F zu verschiedenen Seiten der Linie GF die Perpendikel FH=Q, GI= der vierten geometrischen Proportionallinie zu N, P+(N—Q), P—(N—Q), verknüpfe H mit I durch die gerade Linie HI, beschreibe über HI, als Durchmesser, einen Kreis, welcher der verlängerten GF in F begegne, construire über DF ein Dreieck DCF, dessen Seite CD =P, CF=N—Q, verlängere CF um FB=Q, ziehe AB∥DG, verknüpfe C, G durch die, in ihrer Verlängerung die Linie BA in A schneidende, gerade Linie CG, und ziehe die gerade Linie DA, so ist ABCD das gesuchte Viereck.

Determination und Beweis ergeben sich aus dem Gesagten sehr leicht.

Aufgabe 109. (*Fig.* 51.)

In einen, der Gröfse und Lage nach gegebenen, Kreis, dessen Mittelpunkt O ist, ein Viereck ABCD zu

beschreiben, dessen einander gegenüber liegende Seiten AB, CD, den gegebenen geraden Linien P, Q, gleich seyen, und in welchem die Diagonalen AC, BD in dem Verhältnisse der gegebenen geraden Linien m, n zu einander stehen.

Analysis.

Es sey ABCD das gesuchte Viereck, so sind, wenn die Durchmesser AE, DF, und die geraden Linien BE, FC gezogen werden, die Linien BE, FC gegeben.

Es ist, nach dem Ptolemäischen Satze,

$$AE.BD = AB.ED + AD.EB$$
$$DF.AC = DC.AF + AD.CF$$

also $DF.AC : AE.BD \left\{ \begin{matrix} \\ AC:BD \\ m:n \end{matrix} \right\} = DC.AF + AD.CF : AB.ED + AD.BE$

folglich $AB.ED + AD.BE = \frac{n}{m} DC.AF + \frac{n}{m} AD.CF$

$$= K. \left\{ \begin{matrix} AF \\ \\ ED \end{matrix} \right\} + L.AD, \quad \begin{matrix} \text{wenn } m:n \\ = DC:K, \\ m:n = CF:L; \end{matrix}$$

mithin $(AB - K)ED = (L - BE)AD$

somit $AD : DE = AB - K : L - BE$

demnach ist $AD : DE$

also $AD^2 : DE^2$

also $AD^2 + DE^2 \left\{ \begin{matrix} \\ AE^2 \end{matrix} \right\} : AD^2$, und $\left\{ \begin{matrix} AD^2 + DE^2 \\ AE^2 \end{matrix} \right\} : DE^2$

mithin sowohl AD, als DE, somit das Viereck gegeben.

Construction.

Man mache die Sehnen BA=P, GA=Q, ziehe den Durchmesser AE, und die geraden Linien BE, EG, bestimme AH so, dafs m:n=Q:AH, ziehe die, die Linie EG in I schneidende, gerade Linie HI∥AE, mache KA=AH, LE=EI, EAD=LKB, AC∥DG, und vollende das Viereck ABCD, so ist dasselbe das verlangte.

Beweis.

Es ist GD∥AC

also CD=AG
=Q.

Es ist LKB=EAD, LBK=ADE (El. III. 22.)

also AD:DE=KB:BL (El. VI. 4.)
$=BA-\left\{\begin{matrix}AK\\AH\end{matrix}\right\}:\left\{\begin{matrix}LE\\IE\end{matrix}\right\}-EB$

$=BA-\frac{n}{m}AG:\frac{n}{m}EG-EB$

folglich $\frac{n}{m}AD.EG-DA.EB=BA.DE-\frac{n}{m}DE.AG$

mithin $\frac{n}{m}(AD.EG+DE.AG)=BA.DE+DA.EB$

somit $m:n=AD.\left\{\begin{matrix}EG\\CF\end{matrix}\right\}+\left\{\begin{matrix}DE.AG\\AF.CD\end{matrix}\right\}:BA.DE+DA.EB$
$=AC:BD.$

Da auch AB=P, so ist ABCD das verlangte Viereck.

Zusatz.

Wenn statt der Seite CD der Winkel CBD der Diagonalen gegeben wäre, so ist, da, wegen der gege-

benen AB, ADR gegeben ist, auch DAC, somit DC gegeben, also die Aufgabe auf die vorige reducirt.

Aufgabe 128. (*Fig.* 68.)

Ein Rechteck zu construiren, dessen Seitenverhältnifs dem gegebenen Verhältnifse p:q gleich sey, und dessen Fläche um einen Raum, welcher dem Quadrate der gegebenen geraden Linie c gleich sey, abnehme, wenn man die Grundlinie und die Höhe um Linien abnehmen läfst, welche den gegebenen geraden Linien β, γ gleich sind.

1) Es sey $p:q=\beta:\gamma$ (Fig. 68. a.).

Analysis.

Es sey AHLM das gesuchte Rechteck, so ist, wenn $AB=\beta$, $AC=\gamma$ genommen wird,

$$MA:AH=BA:AC$$

$$\text{also } MA.AC=BA.AH$$

$$MB.\begin{Bmatrix}AC\\BD\end{Bmatrix}+BA.AC\Big\}$$

$$\text{folglich } MB.BD+BA.AC+BA.AH\Big\}=BA.AH$$

$$c^2+BA.AC$$

mithin ist $2BA.AH$, und da BA gegeben ist, $2AH$, somit AH, also auch AM, folglich das Rechteck gegeben.

Construction.

Man mache $BAC=R$, $BA=\beta$, $AC=\gamma$, $CD\parallel AB$, $BD\parallel AC$, $EG=CD$, $FG=c$, $FCG=EFG=R$, $AH=HG$, $HM\parallel CB$, $ML\parallel AC$, $HL\parallel AB$, so ist AMLH das verlangte Rechteck.

Determination.

Da HA>AC werden mufs, so mufs

$$\left.\begin{matrix} 2BA.AH \\ c^2+BA.AC \end{matrix}\right\} > 2BA.AC$$

also $c^2 > BA.AC$ seyn.

Beweis.

Da CEF<R, EFG=R

so ist CEF+EFG<2R;

also schneiden EC, FG einander.

Da c^2 $\left.\begin{matrix} FC^2 \\ EC.CG \\ BA.CG \end{matrix}\right\} > BA.AC$ (Det.) (El. VI. 8. 17.)

so ist CG>CA

also $\left.\begin{matrix} AG \\ 2AH \end{matrix}\right\} > 2CA$

folglich HA>AC.

Es ist HA:AM=CA:AB

mithin MA>AB.

Ferner ist $\left.\begin{matrix} FC^2 \\ c^2 \end{matrix}\right\} + BA.AC = \left\{\begin{matrix} BA.CG+BA.AC \\ BA.AG \\ 2BA.AH \end{matrix}\right.$

Da MA:AH=BA:AC

so ist MA.AC=BA.AH

also $c^2+BA.AC=BA.AH+MA.AC$

mithin $c^2=DC.CH+BA.AC+MB.BD$

2) Es sey $p:q<\beta:\gamma$ (Fig. 68. b.).

Analysis.

Es sey AVOM das gesuchte Rechteck, $BA=\beta$, $AC=\gamma$, $AP=p$, $AQ=q$, $CR\#PQ$, so ist

$$RA:AC=\begin{cases}PA:AQ\\ p:q\end{cases}$$

also $RA:AC<BA:AC$

folglich $RA<AB$.

Da $VA:AM=RA:AC$

so ist $VA.AC=RA.AM$

$$\text{mithin } BA.AM+VA.AC\begin{cases}=\\ c^2+\beta\gamma\end{cases}\begin{cases}BA.AM+RA.AM\\ (BA+AR)AM\end{cases}$$

demnach ist AM, somit AV, und das ganze Rechteck gegeben.

Construction.

Man mache $BAC=R$, $BA=\beta$, $CA=\gamma$, $CD\#AB$, $BD\#AC$, $HC=CD$, $FC=c$, $FCG=R=HFG$, $AP=p$, $AQ=q$, $CR\#PQ$, $KB=AR$, ziehe die gerade Linie KG, $RL\#AC$, durch den Durchschnitt L der Linien KG, LR nehme man $ML\#AB$, und durch den Durchschnitt M der Linien ML, AG ziehe man $MV\#PQ$, und vollende das Rechteck MAVO, so ist dasselbe das verlangte.

Determination.

Damit $AO > AB$ werde, muſs seyn

$$\left.\begin{matrix} MA : AB \\ LR : RK \\ GA : AK \\ GA : BA + AR \\ GA \cdot AB : (BA + AR)AB \\ c^2 + \beta\gamma \end{matrix}\right\} > \left\{\begin{matrix} MA : AV \\ q : p \\ CA : AR \\ CA \cdot AB : BA \cdot AR \\ \beta\gamma \end{matrix}\right.$$

also $c^2 : \left\{\begin{matrix} BA^2 \\ \beta^2 \end{matrix}\right\} > \left\{\begin{matrix} \beta\gamma : BA \cdot AR \\ q : p \end{matrix}\right.$ (Hauber §. 43.)

mithin $p : q > \beta^2 : c^2$.

Beweis.

Da $CHF < R$, $HFG = R$

so ist $CHF + HFG < 2R$,

also schneiden HC, FG einander.

Es ist $p : q > \beta^2 : c^2$

also $\left.\begin{matrix} c^2 : \beta^2 \\ GC \cdot AB : AB^2 \end{matrix}\right\} > \left\{\begin{matrix} q : p \\ CA \cdot AB : BA \cdot AR \end{matrix}\right.$

folglich $\left.\begin{matrix} GA \cdot AB : (BA + AR)\,AB \\ GA : \left\{\begin{matrix} BA + AR \\ AK \end{matrix}\right. \\ LR : RV \\ MA : AB \end{matrix}\right\} > \left\{\begin{matrix} q : p \text{ (Hauber §. 45.)} \\ MA : AV \end{matrix}\right.$

mithin $BA < AV$.

Da $\left.\begin{matrix} p : q \\ VA : AM \end{matrix}\right\} < \left\{\begin{matrix} \beta : \gamma \\ BA : AC \end{matrix}\right.$

so ist $VA : AB < MA : AC$

also auch $MA > AC$ (Hauber §. 11.).

Ferner ist $\left.\begin{array}{l} FC^2 \\ c^2 \end{array}\right\} \begin{array}{l} = HC.CG \\ = AB.CG \end{array}$

$$= \left\{\begin{array}{l} \left\{\begin{array}{l} AB \\ RK \end{array}\right\}.AG \\ RL.AK \\ MA.AK \end{array}\right\} - BA.AC \quad \text{(El. VI. 4. 16.)}$$

$$= MA.AB + \left\{\begin{array}{l} RA.AM \\ VA.AC \end{array}\right\} - BA.AC$$

$$= MA.AB + DB.BV.$$

Ueberdiefs ist $VA:AM = p:q$, also ist MAVO das verlangte Rechteck.

3) Es sey $p:q > BA:AC$.

Dieser Fall wird dem vorigen ähnlich behandelt.

Aufgabe 129. (*Fig.* 69.)

Ein Rechteck zu beschreiben, dessen Seitenverhältnifs dem Verhältnifse der gegebenen geraden Linien p, q gleich sey, und dessen Flächenraum sich um einen Raum = dem Quadrate der gegebenen geraden Linie c ändere, wenn man die Grundlinie um eine gegebene Linie α zunehmen, und die Höhe um eine gegebene Linie β abnehmen läfst.

1) Es sey $p:q = \alpha:\beta$.

Analysis.

Es sey By das gesuchte Rechteck, so ist, wenn $HB = \alpha$, $BA = \beta$, $HG \# AB$, $AG \# BH$, $AP = p$, $AQ = q$ gemacht werden, $GA:AB = \left\{\begin{array}{l} PA:AQ \\ VB:BZ \end{array}\right.$ (El. VI. 4.)

$$\text{also } GA.BZ \left\{ \begin{matrix} \\ HZ \end{matrix} \right\} = \left\{ \begin{matrix} AB.BV \\ Bx \end{matrix} \right.$$

$$\text{folglich } \left. \begin{matrix} HZ-ZG \\ BA.AG \\ \alpha.\beta \end{matrix} \right\} = \left\{ \begin{matrix} Bx-GZ \\ c^2 \end{matrix} \right.$$

mithin die Aufgabe unbestimmt, oder unmöglich, je nachdem $\alpha.\beta = c^2$, oder $\alpha.\beta \lessgtr c^2$.

2) Es sey $p:q < \alpha:\beta$.

Analysis.

Es sey By das gesuchte Rechteck, so ist, wenn $CB = \alpha$, $BA = \beta$, $CD \# BA$, $AD \# BC$, $AP = p$, $AQ = q$, $BG \# PQ$ gemacht werden, $GA:AB = PA:PQ$

$$\text{also } DA:AB > GA:AB$$

$$\text{folglich } DA > AG.$$

Auch ist $GA:AB = VB:BZ$ (El. VI. 4.)

$$\text{mithin } GA.BZ \left\{ \begin{matrix} \\ HZ \end{matrix} \right\} = \left\{ \begin{matrix} AB.BV \\ Bx \end{matrix} \right.$$

$$\text{demnach } \left. \begin{matrix} CZ-ZH \\ CK \\ (DA-AG)BZ \end{matrix} \right\} = \left\{ \begin{matrix} Cz-Bx \\ Dz-Bx \\ c^2 \end{matrix} \right\} + DA.AB$$

also ist $(DA-AG)BZ$, folglich BZ, somit BV, und das ganze Rechteck gegeben.

Construction.

Man mache $CB = \alpha$, $CBA = R$, $BA = \beta$, $CD \# AB$, $AD \# BC$, $AP = p$, $AQ = q$, $BG \# PQ$, $EA = AD$, $FA = c$, $EFL = R$, $GO \# BA$, $LO \# BC$, ziehe die, die Verlängerung von BA in Z schneidende, gerade Linie COZ, $ZV \# PQ$,

BV∥AD, und vollende das Rechteck BVYZ, so ist dasselbe das verlangte.

Beweis.

Es ist AEF<R, EFL=R

also AEF+EFL<2R,

folglich schneidet FL die Linie BZ.

Es ist $\left.\begin{matrix} p:q \\ PA:AQ \\ GA:AB \end{matrix}\right\} < \left\{\begin{matrix} \alpha:\beta \\ DA:AB \end{matrix}\right.$

also GA<AD

folglich schneidet die Verlängerung von CO die verlängerte BA.

Ferner ist $VB:BZ = \left\{\begin{matrix} PA:AQ \text{ (El. VI. 4.)} \\ p:q \\ GA:AB \end{matrix}\right.$

mithin $\left.\begin{matrix} VB.BA \\ Bx \end{matrix}\right\} = \left\{\begin{matrix} AG.BZ \text{ (El. VI. 16.)} \\ HZ \end{matrix}\right.$

demnach $\left.\begin{matrix} CZ-HZ \\ CK \\ CH.BZ \\ OH.BC \\ LB.BC \end{matrix}\right\} = \left\{\begin{matrix} CZ-Bx \\ DZ+DA.AB-Bx \end{matrix}\right.$

(El. VI. 4. 16.)

$\left.\begin{matrix} LA.AD \\ EA.AD \end{matrix}\right\} + BA.AD$

(El. VI. 8. 17.) ϵ^2

also $\epsilon^2 = Dz-Bx$.

3) Es sey $p:q > \alpha:\beta$.

Dieser Fall wird, wie der vorhergehende, behandelt.

Aufgabe 130. (*Fig.* 70.)

Ein Rechteck Alkh zu beschreiben, dessen Flächenraum um einen Raum, welcher dem Quadrate der gegebenen geraden Linie c gleich ist, zunehme, wenn man die Grundlinie und die Höhe um Linien, welche den gegebenen geraden Linien a, b, gleich sind, zunehmen läfst, und dessen Flächenraum um einen Raum, welcher dem Quadrate der gegebenen geraden Linie c gleich ist, zunehme, wenn man seine Grundlinie und Höhe um Linien, welche den gegebenen geraden Linien a', b' gleich sind, wachsen läfst.

Analysis.

Es sey Alkh das gesuchte Rechteck, sey BA=a, CA=b. Es sey auch ALKH ein Rechteck, welches um einen Raum $=c^2$ zunimmt, wenn man seine Grundlinie und Höhe um dieselben Linien AB=a, AC=b zunehmen läfst, so ist, wenn die Linien kh, KH, und kl, KL verlängert werden bis zu den Durchschnitten m, M, und O, o, mit den durch B und C mit AH und AB gezogenen Parallellinien,

$$mh \cdot hH = LO \cdot Oo$$

also $\left.\begin{matrix} Hh : Oo \\ Kn : nk \end{matrix}\right\} = LO : mh = CA : AB$, wenn n den Durchschnitt der Linien KL, kh bezeichnet;

$$= b : a$$

folglich ist $\triangle Knk$ der Art nach, mithin der Winkel nKk, somit die Lage der geraden Linie Kk, in so fern der Punkt K als gegeben angesehen werden kann, gegeben. Eben so ist die Lage der geraden Linie K'k gegeben, welches gezeigt wird, wenn man in der ange-

gebenen Analysis überall statt B, C u. s. w. setzt B′, C′ u. s. w.

Mithin ist der Punkt k, somit das ganze Rechteck Alkh gegeben.

Construction.

Man mache CAB=R, AB=a, AC=b, CD∥AB, BD∥AC, EC=CD, FC=c, EFG=R, verlängere CA bis zum Durchschnitt G mit der Linie FG, welcher immer existirt (Ax. 11.), nehme AH=HG, HK∥AB, ziehe DA, welche verlängert werde bis zum Durchschnitt mit AK in K, und ziehe Kk∥BC. Eben so bestimme man K′k, wenn man statt B, C u. s. w. setzt B′, C′ u. s. w. Durch den Durchschnitt k der Linien Kk, K′k ziehe man kl∥AC, kh∥AB, so ist Alkh das verlangte Rechteck.

Determination.

Damit Kk, K′k einander schneiden, darf nicht Kk ∥K′k, also nicht BC∥B′C′, folglich nicht a:b=a′:b′ seyn.

Ist $\frac{c^2-ab}{a} < \frac{c'^2-a'b'}{a'}$

also AG′>AG

und $\left.\begin{matrix} b:a \\ AH:HK \end{matrix}\right\} < \begin{cases} b':a' \\ AH':H'K' \\ AH:HV, \text{ wenn V der Durchschnitt der Linien HK, AK' ist;} \end{cases}$

also HK>HV

so mufs, damit das Schneiden innerhalb des Winkels LAG geschehe, wenn AL>AL′, und wenn Kk, K′k der Verlängerung der Linie BA in Q, Q′ begegnen,

seyn $LQ > \begin{cases} LQ' \\ L'Q' - L'L \end{cases}$ *).

Es ist $BA \cdot AG = c^2 - ab$, $B'A : AG' = c^2 - a'b'$

also $\frac{1}{2}AG \begin{cases} KL \end{cases} = \frac{c^2-ab}{2a}$, $\frac{1}{2}AG' \begin{cases} K'L' \end{cases} = \frac{c'^2-a'b'}{2a'}$

Auch ist $KL : LQ = b : a$, $K'L' : L'Q = b' : a'$

folglich $LQ = \frac{a}{b}KL$ $L'Q' = \frac{a'}{b'}K'L'$

$= \frac{c^2-ab}{2b}$ $= \frac{c'^2-a'b'}{2b'}$

Ferner ist $QL : LK = \begin{cases} CD : DB, \\ AB : BD \\ AL : LK \end{cases}$ $Q'L' : L'K' = \begin{cases} C'D' : D'B' \\ AB' : B'D' \\ L'A : L'K' \end{cases}$

mithin $QL = AL$, $Q'L' = L'A$

demnach $LA - AL' \begin{cases} LL' \end{cases} = QL - Q'L' = \frac{c^2-ab}{2b} - \frac{c'^2-a'b'}{2b'}$

also muſs seyn $\frac{c^2-ab}{2b} > \frac{c'^2-a'b'}{2b'} + \frac{c^2-ab}{2b} + \frac{c'^2-a'b'}{2b'}$

folglich $\frac{c^2-ab}{b} > \frac{c'^2-a'b'}{b'}$

mithin $c^2 - ab : c'^2 - a'b' > b : b'$.

Zu ganz ähnlichen Bestimmungen gelangt man, wenn $c^2 - ab > c'^2 - a'b'$

also $AG > AG'$.

*) Wenn $AL' < AL$, so führen die Bestimmungen auf dasselbe Resultat.

$$\text{Da } GH : HK = \begin{cases} AH : HK \\ AC : CD \\ BD : DC \\ KL : LQ \end{cases}$$

so ist GKQ eine gerade Linie.

Da eben so G′K′Q′ eine gerade Linie ist, so darf nicht AG=AG′ seyn, weil sonst der Durchschnitt von KQ, K′Q in G fiele, also darf auch nicht seyn

$$\frac{c'^2 - a'b'}{a'} = \frac{c^2 - ab}{a}.$$

Beweis.

$$\text{Da nicht } a : b \;\Big\}= \begin{cases} a' : b' \\ Q'L' : L'K' \end{cases} \text{ (Det.)}$$
$$QL : LK \;\Big\}$$

so ist nicht KQ ∥ K′Q′, also schneiden diese Linien einander.

$$\text{Da } \frac{c^2 - ab}{a} < \frac{c'^2 - a'b'}{a'}$$

so ist AG < AG′

also AH < AH′.

Es ist $c^2 - ab : c'^2 - a'b' > b : b'$

$$\text{also } \frac{c^2 - ab}{b} > \frac{c'^2 - a'b'}{b'}$$

$$\text{folglich } \frac{c^2 - ab}{2b} \Big\} > \begin{cases} \frac{c'^2 - a'b'}{2b'} - \frac{c^2 - ab}{2b} + \frac{c'^2 - a'b'}{2b} \\ L'Q' - L'L \end{cases}$$
$$LQ \;\Big\}$$
$$LQ'$$

also schneiden KQ, K′Q′ einander innerhalb des Winkels GAL.

Bezeichnet man den Durchschnitt der Linien KL, kh mit n, so ist $Kn : nk \;\Big\}= \begin{cases} BD : DC \\ OL' : mh \end{cases}$
$Hh : Ll \;\Big\}$

also $Hh.hm = OL.Ll$

folglich

$$BA.Ah+BA.AC+CA.Al = BA.AH+BA.AC+\begin{cases} CA.AL \\ BA.AH \\ MH.HG \end{cases}$$

$$= \begin{cases} DC.CG \\ EC.CG \\ FC^2 \\ c^2. \end{cases}$$

Eben so beweifst man, dafs $B'A.Ah+B'A.AC'+C'A.Al=c'^2$, mithin ist Alkh das verlangte Rechteck.

Aufgabe 131. (*Fig.* 71.)

Ein Rechteck Alkh zu beschreiben, dessen Flächenraum um Räume, welche den Quadraten der gegebenen geraden Linien $\begin{Bmatrix} c \\ c' \end{Bmatrix}$ gleich sind, abnehme, wenn man die Grundlinie und die Höhe um Linien, welche den gegebenen Linien $\begin{Bmatrix} a, & b \\ a', & b' \end{Bmatrix}$ gleich sind, abnehmen läfst.

Analysis.

Es sey Alkh das gesuchte Rechteck, sey $BA=a$, $CA=b$. Es sey auch ALKH ein Rechteck, welches um einen Raum $=c^2$ abnehme, wenn man seine Grundlinie und Höhe um die Linien a, b abnehmen läfst, so ist, wenn m, M und o, O die Durchschnitte der Linien kh, KH und kl, KL mit den Verlängerungen von Bd und CD bezeichnen, $mh.hH=LO.Oo$

$$\text{also } \begin{matrix} hH : Oo \\ Kn : nk \end{matrix} \Big\} = \begin{cases} LO : mh \\ CA : AB, \text{ wenn } Kn \# Hh, \\ \qquad kn \# HK; \\ b : a \end{cases}$$

folglich ist $\triangle Knk$ der Art nach, somit der Winkel nKk, mithin die Lage der geraden Linie Kk gegeben, in so fern der Punkt K als der Lage nach gegeben angesehen werden kann. Eben so ist die Lage der geraden Linie $K'k$ gegeben, welches gezeigt wird, wenn man in dem vorhergehenden Theile der Analysis überall statt B, C u. s. w. setzt B', C' u. s. w. Folglich ist der Punkt k, somit das Rechteck gegeben.

Construction.

Man mache $CAB=R$, $BA=a$, $AC=b$, $CD\#AB$, $BD\#AC$, $EA=AB$, $AF=c$, $EFG=R$, verlängere AC bis zum Durchschnitt G mit FG, welcher immer existirt (Ax. 11.), nehme $CH=HG$, $HK\#AB$, ziehe AD, welche verlängert werde bis zum Durchschnitt mit HK in K, und ziehe $Kk\#BC$. Eben so bestimme man $K'k$, wenn man in dem bisherigen Theile der Construction statt B, C u. s. w. setzt B', C' u. s. w. Durch den Durchschnitt k der Linien Kk, $K'k$ ziehe man $kl\#AC$, $kh\#AB$, so ist Alkh das verlangte Reckteck.

Determination.

Da die Abnahme eines Rechteckes, wenn man Grundlinie und Höhe um gegebene Linien abnehmen läfst, das Aggregat von drey Rechtecken ist, wovon das eine das Rechteck aus den gegebenen Linien ist, so mufs sowohl $c^2 > ab$, als $c'^2 > a'b'$ seyn.

Damit Kk, $K'k$ einander begegnen, darf nicht $Kk\#K'k$, also nicht $BC\#B'C'$, folglich nicht $a:b=a':b'$ seyn.

$$\text{Ist } \frac{c^2}{a}\Big\}_{AG} < \Big\{\frac{c'^2}{a'}_{AG'}$$

so muſs, wenn, wie es in vorliegender Figur der Fall ist, $AH < AH'$, $H'K' < HK$ ist, d. i. wenn $\frac{c^2+ab}{2a} < \frac{c'^2+a'b'}{2a'}$ und $\frac{c^2+ab}{2b} < \frac{c^2+a'b'}{2b'}$ ist, damit das Schneiden innerhalb des Scheitelwinkels von BDC geschehe, seyn

$$BP < BQ$$

wenn P, Q die Durchschnitte der Linien Kk, K'k mit der Verlängerung von BD bezeichnen.

Es ist $KM : MP = \begin{cases} BA : AC \\ AB : BD \\ KM : \begin{cases} MD \\ CH \\ HG \end{cases} \end{cases}$

also $MP = \frac{1}{2}CG$

folglich $BP = AG$

$$= \frac{c^2}{a}$$

Es ist $K'H' : H'R' = B'A : AC'$, wenn R' der Durchschnitt der Linien K'k, AG' ist;

$$= D'C' : C'A$$

$$= K'H' : H'A$$

also $H'R' = H'A$

$$= \tfrac{1}{2}CG' + AC'$$

$$= \frac{c'^2 - a'b'}{2a'} + b'$$

$$= \frac{c'^2 - a'b' + 2a'b'}{2a'}$$

$$= \frac{c'^2 + a'b'}{2a'}$$

Ferner ist $H'R' : H'K' = b' : a'$
$\frac{c'^2+a'b'}{2a'}$

folglich $H'K' = \frac{c'^2+a'b'}{2b'}$

mithin $K'U (= H'K' - H'U) = \frac{c'^2+a'b'}{2b'} - a$, wenn U der Durchschnitt der verlängerten BD mit H'K' ist;

$= \frac{c'^2+a'b'-2ab'}{2b'}$

Endlich ist $K'U : UQ = a' : b'$
$\frac{c'^2+a'b'-2ab'}{2b'}$

mithin $UQ = \frac{c'^2+a'b'-2ab'}{2a'}$

somit $BQ = \frac{c'^2+a'b'-2ab'}{2a'} + \frac{c'^2+a'b'}{2a'}$

$= \frac{2c'^2+2a'b'-2ab'}{2a'}$

$= \frac{c'^2+a'b'-ab'}{a'}$

also muſs seyn $\frac{c^2}{a} < \frac{c'^2+a'b'-ab'}{a'}$

folglich $c^2 : c^2+a'b'-ab' < a : a'$.

Auf ganz ähnlichem Wege gelangt man zu den Bestimmungen, wenn $\frac{c^2+ab}{2} > \frac{c'^2+a'b'}{2a'}$ und $\frac{c^2+ab}{2b} > \frac{c'^2+a'b'}{2b'}$

oder wenn $b : a > b' : a'$, oder wenn $\frac{c^2}{a} > \frac{c'^2}{a'}$.

Ist $\left.\begin{matrix}\frac{c^2}{a}\\ AG\end{matrix}\right\} = \left\{\begin{matrix}\frac{c'^2}{a'}\\ AG'\end{matrix}\right.$, so wird $CP = B'P'$, also schneiden Kk, K'k einander nicht innerhalb des Winkels ODP.

Beweis.

$$\left.\begin{matrix}\text{Da } c^2\\ BA.AG\end{matrix}\right\} > ab, \quad \left.\begin{matrix}c'^2\\ B'A.AG'\end{matrix}\right\} > a'b'$$

so ist $AG > b$, $AG' > b'$.

Da nicht $a : b = a' : b'$, so schneiden die Linien Kk, K'k einander.

Da $c^2 : c'^2 + a'b' - ab' < a : a'$

so ist $\left.\begin{matrix}\frac{c^2}{a}\\ AG\\ BP\end{matrix}\right\} < \left\{\begin{matrix}\frac{c'^2 + a'b' - ab'}{a'}\\ BQ\end{matrix}\right.$

Da in vorliegendem Falle auch $AH < AH'$, $HK > H'K'$, so schneiden die Linien Kk, K'k einander innerhalb des Winkels ODP.

Auch ist $\left.\begin{matrix}Kn : nk\\ Hh : Ll\end{matrix}\right\} = \left\{\begin{matrix}BD : DC\\ OL : mh\end{matrix}\right.$

also $Hh . hm = OL . Ll$

folglich $\left.\begin{matrix}BA . Ah + DB . Bl\\ BA . AC + DC . Ch + DB . Bl\end{matrix}\right\} = BA . AH + \left\{\begin{matrix}DB . BL\\ DC . CH\\ MH . HG\\ AB . HG\end{matrix}\right.$

$= BA . AG$

$= c^2$.

Eben so wird bewiesen, dafs $B'A . AC' + D'C' . C'h + D'B' . B'l = c'^2$, also ist Alkh das gesuchte Rechteck.

Aufgabe 132. (Fig. 72.)

Ein Rechteck Alkh zu beschreiben, dessen Flächenraum um einen Raum, welcher dem Quadrate der gegebenen geraden Linie {c / c'} gleich ist, {zunehme / abnehme}, wenn man seine Grundlinie und seine Höhe um Linien, welche den gegebenen geraden Linien {a, b / a', b'} gleich sind, {zunehmen / abnehmen} läßt.

Analysis.

Es sey Alkh das verlangte Rechteck, so ist, wenn {ALKH / AL'K'H'} ein zweites Rechteck ist, welches um denselben Flächenraum bey derselben {Zunahme / Abnahme} der Grundlinie und Höhe {zunimmt / abnimmt}, die gerade Linie {Kk / K'k} der Lage nach gegeben, wie Aufgabe {130. / 131.}, also auch der Durchschnitt k, somit das Rechteck Alkh.

Construction.

Man mache BAC=R, BA=a, AC=c, BD∥AC, CD∥AB, EC=CD, FC=c, EFG=R, AH=HG, HK∥AB, ziehe die gerade Linie DA, verlängere dieselbe, bis sie der Linie HK begegnet, nehme Kk∥BC, B'A=a', AC'=b', AE'=AB', AF'=c', E'F'G'=R, C'H'=H'G', H'K'∥AB, ziehe AD', verlängere AD' bis zum Durchschnitt mit H'K' in K', nehme K'k∥B'C', durch den Durchschnitt k der Linien Kk, K'k ziehe man kh∥AB, kl∥AB, so ist, wenn h, l die Durchschnitte

Aufgabe 130. (*Fig.* 70.)

Ein Rechteck Alkh zu beschreiben, dessen Flächenraum um einen Raum, welcher dem Quadrate der gegebenen geraden Linie c gleich ist, zunehme, wenn man die Grundlinie und die Höhe um Linien, welche den gegebenen geraden Linien a, b, gleich sind, zunehmen läfst, und dessen Flächenraum um einen Raum, welcher dem Quadrate der gegebenen geraden Linie c gleich ist, zunehme, wenn man seine Grundlinie und Höhe um Linien, welche den gegebenen geraden Linien a', b' gleich sind, wachsen läfst.

Analysis.

Es sey Alkh das gesuchte Rechteck, sey BA=a, CA=b. Es sey auch ALKH ein Rechteck, welches um einen Raum $=c^2$ zunimmt, wenn man seine Grundlinie und Höhe um dieselben Linien AB=a, AC=b zunehmen läfst, so ist, wenn die Linien kh, KH, und kl, KL verlängert werden bis zu den Durchschnitten m, M, und O, o, mit den durch B und C mit AH und AB gezogenen Parallellinien,

$$mh \cdot hH = LO \cdot Oo$$

also $\left.\begin{matrix} Hh : Oo \\ Kn : nk \end{matrix}\right\} = LO : mh = CA : AB$, wenn n den Durchschnitt der Linien KL, kh bezeichnet;

$$= b : a$$

folglich ist $\triangle Knk$ der Art nach, mithin der Winkel nKk, somit die Lage der geraden Linie Kk, in so fern der Punkt K als gegeben angesehen werden kann, gegeben. Eben so ist die Lage der geraden Linie K'k gegeben, welches gezeigt wird, wenn man in der ange-

gebenen Analysis überall statt B, C u. s. w. setzt B′, C′ u. s. w.

Mithin ist der Punkt k, somit das ganze Rechteck Alkh gegeben.

Construction.

Man mache CAB=R, AB=a, AC=b, CD∦AB, BD∦AC, EC=CD, FC=c, EFG=R, verlängere CA bis zum Durchschnitt G mit der Linie FG, welcher immer existirt (Ax. 11.), nehme AH=HG, HK∦AB, ziehe DA, welche verlängert werde bis zum Durchschnitt mit AK in K, und ziehe Kk∦BC. Eben so bestimme man K′k, wenn man statt B, C u. s. w. setzt B′, C′ u. s. w. Durch den Durchschnitt k der Linien Kk, K′k ziehe man kl∦AC, kh∦AB, so ist Alkh das verlangte Rechteck.

Determination.

Damit Kk, K′k einander schneiden, darf nicht Kk ∦K′k, also nicht BC∦B′C′, folglich nicht a:b=a′:b′ seyn.

$$\text{Ist } \frac{c^2-ab}{a} < \frac{c'^2-a'b'}{a'}$$

also AG′>AG

und $\left.\begin{matrix} b:a \\ AH:HK \end{matrix}\right\} < \begin{cases} b':a' \\ AH':H'K' \\ AH:HV, \text{ wenn V der Durchschnitt der Linien HK, AK' ist;} \end{cases}$

also HK>HV

so mufs, damit das Schneiden innerhalb des Winkels LAG geschehe, wenn AL>AL′, und wenn Kk, K′k der Verlängerung der Linie BA in Q, Q′ begegnen,

der Linien kh, kl mit AG, AB sind, Alkh das verlangte Rechteck.

Determination.

Da die Zunahme und Abnahme eines Rechteckes, wenn Grundlinie und Höhe zunehmen, oder abnehmen, ein Aggregat von drey Rechtecken ist, wovon das eine das Rechteck aus den Zunahmen, oder Abnahmen ist, so mufs $c^2 > ab$, $c'^2 > a'b'$ seyn.

Damit Kk, K'k einander schneiden, darf nicht BC $\#$ B'C' werden, also mufs $a : b \gtrless a' : b'$ seyn.

Ist nun $\left.\begin{matrix} \frac{c^2-ab}{2a} \\ AH \end{matrix}\right\} > \left\{\begin{matrix} \frac{c'^2}{2a'} \\ AH' \end{matrix}\right.$ und $\left.\begin{matrix} \frac{c^2-ab}{2b} \\ HK \end{matrix}\right\} < \left\{\begin{matrix} \frac{c'^2}{2b'} \\ HK' \end{matrix}\right.$

so mufs, damit der Punkt k innerhalb des Vertical-Winkels von B'D'C' falle, B'Q > B'P' seyn, wenn Q, P' die Durchschnitte der Linien K'k und Kk mit der Verlängerung von B'D' sind.

Es ist $K'M' : M'P' = B'A : AC'$
$= D'C' : C'A$
$= K'M' : \begin{cases} M'D' \\ H'C' \\ H'G' \end{cases}$

also $M'P' = H'G'$

folglich $B'P' = \frac{c'^2}{a'}$.

Es ist, wenn U den Durchschnitt der Linien KH, Q bezeichnet, $GH : HK \left\{\begin{matrix} \\ b : a \end{matrix}\right. = QU : \begin{cases} UK \\ KH - HU \\ a' \end{cases}$

Auch ist $AH : HK = b : a$
$\frac{c^2-ab}{2a}$

also $HK = \frac{c^2-ab}{2b}$

folglich ist $b : a = QU : \begin{cases} \frac{c^2-ab}{2b} - a' \\ \frac{c^2-ab-2a'b}{2b} \end{cases}$

mithin $QU = \frac{c^2-ab-2a'b}{2a}$

somit $B'Q = \frac{c^2-ab}{2a} + \frac{c^2-ab-2a'b}{2a}$
$= \frac{c^2-ab-a'b}{a}$

demnach mufs seyn $\frac{c^2-ab-a'b}{a} > \frac{c'^2}{a'}$

also $c^2-ab-a'b : c'^2 > a : a'$.

Auf ähnlichem Wege wird die Determ. gefunden, wenn nicht $\frac{c^2-ab}{2a} > \frac{c'^2}{2a'}$.

Beweis.

Da $c^2 > ab$, $c'^2 > a'b'$, so ist $GC > OA$, $G'A > AC'$.

Da $a : b \gtrless a' : b'$, so schneiden Kk, $K'k$ einander.

Da $c^2-ab-a'b' : c'^2 > a : a'$

so ist $\frac{c^2-ab-a'b'}{a} > \frac{c'^2}{a'}$

also $B'Q > B'P'$, wie aus der Determin.

leicht erhellet, folglich schneiden Kk, K'k einander innerhalb des Verticalwinkels von B'D'C'.

Auch ist $BA.AC+BA.Ah+CA.Al=c^2$
$B'A.AC'+B'A.C'h+B'D'.D'o=c'^2$
wie aus Aufgabe 130. und 131. hervorgeht, also ist Alkh das gesuchte Rechteck.

Aufgabe 133. (*Fig.* 73.)

Ein Rechteck Aomh zu beschreiben, welches um, den Quadraten der gegebenen geraden Linien $\left\{\begin{matrix} c \\ c' \end{matrix}\right\}$ gleiche, Räume sich verändere, wenn man seine Grundlinie um Linien, welche den gegebenen Linien a, a' gleich sind, zunehmen, und seine Höhe um Linien, welche den gegebenen Linien b, b' gleich sind, abnehmen läfst.

Analysis.

Es sey Aomh das verlangte Rechteck, so ist, wenn AOMH ein zweites Rechteck ist, welches um denselben Flächenraum abnimmt, wenn man seine Grundlinie und seine Höhe um dieselben Linien AB, AD zu- und abnehmen läfst, wie das Rechteck Aomh, und wenn die Durchschnitte der Linien mo, MH mit den Verlängerungen von CD, BC mit n, L bezeichnet werden,

$$no.oO=LH.Hh$$

$$\text{also } \left\{\begin{matrix} Oo:Hh \\ Mq:mq \end{matrix}\right\} = \left\{\begin{matrix} LH:no \\ BA:AD \end{matrix}\right.$$

folglich ist $\triangle Mmq$ der Art nach, mithin der Winkel mMq, somit, in so fern der Punkt M als der Lage nach gegeben angesehen werden kann, die Lage der geraden Linie Mm gegeben.

Eben so ist, wenn AO′M′H′ ein Rechteck ist, welches um denselben Raum abnimmt, wie Aomh, wenn man die Grundlinie und die Höhe um dieselben Linien AB′, AD′ zu- und abnehmen läfst, aus ähnlichen Gründen, die Lage der geraden Linie M′m gegeben. Mithin ist der Durchschnitt m der Linien Mm, M′m, somit das ganze Rechteck gegeben.

Construction.

Man mache ABC=R, AB=a, AC=b, CD∦AB, AD∦BC, ED=DC, DF=c, EFG=R, HG=GD, HM ∦GK∦CD, ziehe die gerade Linie BD, welche verlängert werde bis zum Durchschnitt mit GK in K, nehme KO∦AG, HM∦AO, Mm∦BD.

Eben so bestimme man M′, indem man statt B, C, u. s. w. setzt B′, C′ u. s. w., und ziehe M′m∦B′D′. Durch den Durchschnitt m der Linien Mm, M′m ziehe man mo∦AD, ml∦AO, so ist Aomh das gesuchte Rechteck.

Determination.

Damit Mm, M′m einander schneiden, darf nicht Mm∦M′m seyn, also mufs $a:b \gtrless a':b'$ seyn.

Beweis.

Es ist $a:b \left\{\begin{matrix}>\\<\end{matrix}\right\} a':b'$

$BA:AD \left\{\begin{matrix}>\\<\end{matrix}\right\} B'A:AD'$

also schneiden BD, B′D′, folglich auch Mm, M′m einander.

Es sey $\frac{c^2}{a} < \frac{c'^2}{a}$, $ab < a'b'$

$$\text{so ist } \left.\begin{matrix}\frac{c^2+ab}{a}\\ AG\end{matrix}\right\} < \left\{\begin{matrix}\frac{c'^2+a'b'}{a'}\\ AG'\end{matrix}\right.$$

$$\text{also auch } \left.\begin{matrix}\frac{c^2+ab}{a}+\frac{c^2}{a}\\ AG+GH\\ AH\end{matrix}\right\} < \left\{\begin{matrix}\frac{c'^2+a'b'}{a'}+\frac{c'^2}{a}\\ AG'+G'H'\\ AH'\end{matrix}\right.$$

$$\text{Es ist } mq:qM = \begin{cases} DA:AB \\ DG:GK \\ HG:GK \\ MK:KG \end{cases}$$

also liegen m, M, G in einer geraden Linie.

Da eben so die Punkte M', m, G' in einer geraden Linie liegen, so schneiden sich Mm, M'm innerhalb des Vertikalwinkels von ADC.

$$\text{Ferner ist } \left.\begin{matrix}mq:qM\\ Ll:Oo\end{matrix}\right\} = \left\{\begin{matrix}DA:AB\\ NO:lh\end{matrix}\right.$$

$$\text{also } \left.\begin{matrix}Ll.lh\\ Lh\end{matrix}\right\} = \left\{\begin{matrix}NO.Oo\\ No\end{matrix}\right.$$

$$\text{folglich } Ch-Do = \begin{cases} CH-\left\{\begin{matrix}DO\\ CG\end{matrix}\right. \\ GL \\ EG \\ \frac{ED.DG}{c^2} \end{cases}$$

$$\text{Eben so ist } \left.\begin{matrix}mq':q'M'\\ L'l':O'o\end{matrix}\right\} = \left\{\begin{matrix}D'C':C'B'\\ l'h:N'O'\end{matrix}\right.$$

$$\text{also } \left.\begin{matrix}L'l'.l'h\\ l'H'\end{matrix}\right\} = \left\{\begin{matrix}N'O'.O'o\\ N'o\end{matrix}\right.$$

folglich $C'h - D'o = \left\{\begin{array}{l} C'H' - \left\{\begin{array}{l} D' \\ C'G' \end{array}\right. \\ G\,L' \\ E'G' \\ 'D'.D'G' \\ c'^2 \end{array}\right.$

mithin ist Aomh das gesuchte Rechteck.

Anmerkung.

Aus vorstehenden vier Aufgaben lassen sich die Auflösungen folgender Aufgaben herleiten:

Ein Rechteck zu beschreiben, dessen Flächenraum sich um einen gegebenen Raum vermehre, oder vermindere, wenn man seine Grundlinie und seine Höhe um gegebene Linien zunehmen, oder abnehmen läfst, und dessen Flächenraum sich um einen gegebenen Raum verändere, wenn man seine Grundlinie um eine gegebene Linie zunehmen, und die Höhe um eine gegebene Linie abnehmen läfst.

Aufgabe 134. (*Fig.* 74.)

Die Seiten zweyer Rectangel zu finden, deren Flächenräume den Quadraten der gegebenen geraden Linien a, α, und in welchen die Summe der Grundlinien und die Summe der Höhen den gegebenen geraden Linien G, H gleich seyen.

Fall. 1.

Es sey $a = \alpha$. (Fig. 74. a.)

Analysis.

Es seyen AN, NC die gesuchten Rechtecke, also AM+NQ=AB=G, AP+PD=AD=H, so ist, wegen

$$a = \alpha$$

$$\text{also } \left.\begin{matrix} a^2 \\ AM.MN \end{matrix}\right\} = \left\{\begin{matrix} \alpha^2 \\ QN.NR, \end{matrix}\right.$$

$$\left.\begin{matrix} RN:AM \\ DP:PN \end{matrix}\right\} = \left\{\begin{matrix} MN:NQ \text{ (El. VI. 16.)} \\ NM:MB \end{matrix}\right.$$

folglich liegen die Punkte D, N, B in einer geraden Linie (El. VI. 26.), mithin ist das Parallelogramm NMBQ der Art nach gegeben (El. VI. 21.). Macht man AE=EB, EO∦AD, durch den Durchschnitt O der Linien EO, BD die Linie OH∦AB, so ist das Parallelogramm OEBH gleichfalls der Art, und, wegen der gegebenen BE, der Gröſse nach (Dat. 56.) gegeben.

$$\text{Da } AU = UB, \text{ also } \left.\begin{matrix} AU + UM \\ AN \\ a^2 \end{matrix}\right\} = UB + NH$$

$$\text{so ist } \left.\begin{matrix} OEBH - UB - NH \\ UV \end{matrix}\right\} = OEBH - \alpha^2$$

also ist UV der Gröſse nach, und weil UV ∽ OEBH, auch der Art nach, folglich UN, mithin EM, somit der Punkt M, und das Parallelogramm AN, demnach auch NC gegeben.

Construction.

Man mache BA=G, BAD=R, DA=H, DC∦AB, BC∦AB, AE=EB, ET∦AD, ziehe die Diagonale BD, welche der Linie ET in O begegne, nehme OH∦AB, FB=a=BG, FK∦HG, beschreibe über BE einen Halbkreis, mache EKL=R, verbinde den Punkt E mit dem Durchschnitte L der Linie KL und des Umfanges des Halbkreises, nehme ME=EL, MR∦AD, und ziehe durch den Durchschnitt N der Linie MR mit BD die Linie PQ∦AB, so ist das verlangte geleistet.

Determination.

Damit KL den Umfang treffe, muſs $KB \gtrless BE$ seyn

also $\left.\begin{matrix} KB.BH \\ GB.BF \\ a^2 \end{matrix}\right\} \gtrless \left\{\begin{matrix} EB.BH \\ \frac{1}{4}AB.BD \end{matrix}\right.$

Beweis.

Es ist $\left.\begin{matrix} a^2 \\ GB.BF \\ KB.BH \end{matrix}\right\} \leqq \left\{\begin{matrix} \frac{1}{4}AB.BD \\ EB.BH \end{matrix}\right.$

also $KB \leqq BE$.

folglich hat KL einen Punkt mit dem Umfange des Halbkreises gemein.

Ist KB=BE, so ist $\left.\begin{matrix} EB.BH \\ AE.EO \\ HO.OT \end{matrix}\right\} = \left\{\begin{matrix} GB.BF \\ a^2 \end{matrix}\right.$

Da auch AE+OH=AE+EB, und AW+OT=AW+WD

=AB =AD

so sind AO, OC die gesuchten Rechtecke.

Ist KB<BE

so ist $UV : EH = \left\{\begin{matrix} UN^2 \\ ME^2 \end{matrix}\right\} : EB^2$ (El. VI. 20.)

$= KE : EB$ (El. VI. 20. Zus. 2.)

$= OK : EH$ (El. VI. 1.)

also UV=OK

folglich $EH-UV = EH-OK$

$VQ + \left\{\begin{matrix} QM+MU \\ EP \end{matrix}\right\} = \left\{\begin{matrix} KB.BH \\ GB.BF \\ a^2 \end{matrix}\right.$

$NE \left\{\begin{matrix} \\ \\ AN \end{matrix}\right.$

(El. I. 43.) NC

Zusatz.

Macht man auch M'E=EL, M'R'#AD, N'Q'#AB, so ist HE=EW

$$=AV'+\begin{cases}V'E\\ OQ' \text{ (El. I. 43.)}\\ OP' \text{ (El. I. 36.)}\end{cases}$$

$$=AN'+\begin{cases}V'U'\\ VU \text{ (El. I. 36.)}\end{cases}$$

also $AN' = HE-VU$

(El. I. 43.) $N'C = a^2$

folglich haben auch die Rechtecke AN', N'C die gegebene Eigenschaft.

Fall 2.

Es sey $a > \alpha$. (Fig. 74. b.)

Analysis.

Es seyen AN, NC die gesuchten Rectangel;

also AN>NC

folglich $AN+ND > NC+ND$

$AM \cdot MR > DP \cdot PQ$

mithin $DP : \begin{cases}AM\\ PN\end{cases} < \begin{cases}MR:PQ \text{ (Hauber §. 52.)}\\ DA:AB\\ DP:PU, \text{ wenn U der Durchschnitt der Linien PQ, BD ist;}\end{cases}$

somit PN>PU.

Zieht man durch den Punkt U die, die Linien AB, CD in T, V schneidende, gerade Linie VT#AD, so ist

$$AN = a^2 = \begin{cases}AU\\ CU\end{cases} + UM$$

$$= \left\{ \begin{matrix} CN \\ \alpha^2 \end{matrix} \right\} + TR$$

$$\text{also } \left\{ \begin{matrix} TR \\ AD.TM \end{matrix} \right\} = \left\{ \begin{matrix} a^2 - \alpha^2 \\ (a+\alpha)(a-\alpha) \end{matrix} \right\}$$

folglich $AD : a+\alpha = a-\alpha : TM$

mithin ist TM, somit $\left\{ \begin{matrix} AB - TM \\ AT + BM \end{matrix} \right\}$ gegeben.

Da $DA : AB = DP : PU$

$$= \left\{ \begin{matrix} DP \cdot QN \\ NC \\ \alpha^2 \end{matrix} \right\} : \left\{ \begin{matrix} PU \cdot QN \\ AT.BM \end{matrix} \right.$$

so ist AT.BM, somit (Dat. 86.) sowohl AT, als BM, also sind die Punkte U, P, N, Q, folglich die Seiten der Rechtecke AN, NC gegeben.

Construction.

Man mache BA=G, AD=H, DC∥AB, BC∥AD, OA=AB, beschreibe über DO einen Halbkreis, welcher der verlängerten BA in G begegne, nehme EA=α, EF=a, HA=AF, FK∥DH, EL∥GO, LS∥AB, beschreibe über BK einen, die Linie LS in S erreichenden, Halbkreis, mache SMA=R, MT=AK, MR∥TV∥AD, ziehe die Diagonale BD, welche der Linie TV in U begegne, ziehe die, die Linien AD, MR, BC in P, N, Q schneidende, gerade Linie UP, so sind AN, NC die gesuchten Rechtecke.

Determination.

Damit der Halbkreis über BK der Linie LS begegne, muſs seyn $AL \leqq \frac{1}{2}BK$

$$\text{also } \left.\begin{matrix} EA:AL \\ GA:AO \\ DA:AG \end{matrix}\right\} \overline{\overline{>}} \left\{\begin{matrix} EA:\tfrac{1}{2}BK \text{ (El. V. 8.)} \\ 2\alpha:\left\{\begin{matrix} BK \\ BA-AK \end{matrix}\right. \end{matrix}\right.$$

$$\text{folglich } \left.\begin{matrix} DA.AB-DA.AK \\ \text{(El.VI.8.16.I.47.) } AG^2-a^2+\alpha^2 \end{matrix}\right\} \overline{\overline{>}} 2\alpha.AG \text{ (Hauber §. 53.)}$$

$$\text{mithin } AG^2-2\alpha.AG+\alpha^2 \overline{\overline{>}} a^2$$

$$\text{somit } AG-\alpha \overline{\overline{>}} a$$

$$\text{demnach } \left.\begin{matrix} AG \\ \sqrt{BA.AD} \end{matrix}\right\} \overline{\overline{>}} a+\alpha.$$

Beweis.

$$\text{Es ist } \left.\begin{matrix} \sqrt{BA.AD} \\ AG \end{matrix}\right\} \overline{\overline{>}} a+\alpha$$

$$\text{also } AG^2-2\alpha.AG+\alpha^2 \overline{\overline{>}} a^2$$

$$\text{folglich } \left.\begin{matrix} AG^2 \\ DA:AB \end{matrix}\right\} - \left\{\begin{matrix} a^2-\alpha^2 \\ AF^2 \\ DA.AK \end{matrix}\right\} \overline{\overline{>}} 2\alpha.AG$$

$$DA.(BA-AK)$$

$$\text{mithin } \left.\begin{matrix} DA:AG \\ GA:AO \\ EA:AL \\ \alpha^2 \end{matrix}\right\} \overline{\overline{>}} \left\{\begin{matrix} 2\alpha:BA-AK \\ \alpha:\tfrac{1}{2}BK \end{matrix}\right.$$

$$\text{somit } AL \overline{\overline{<}} \tfrac{1}{2}BK$$

demnach berührt, oder schneidet die Linie LS den Kreis.

$$\left.\begin{array}{r}\text{Da } DA:AB\\ \text{(El.VI.20.Zus.2.) } GA^2:AO^2\\ \left.\begin{array}{r}EA^2\\ \alpha^2\end{array}\right\}:AL^2\end{array}\right\}=\left\{\begin{array}{l}DP:PU\\ CQ:AT\\ CQ.QN:\left\{\begin{array}{l}AT.BM\\ KM.MB\\ SM^2\text{(El.VI.8.)}\\ AL^2\end{array}\right.\end{array}\right.$$

so ist $CQ.QN=\alpha^2$

$$\text{folglich } \left.\begin{array}{r}CN+MV\\ \left.\begin{array}{r}CU\\ AU\end{array}\right\}+UM\\ AN\end{array}\right\}\begin{array}{l}=\alpha^2+\left\{\begin{array}{l}DA.AK\\ a^2-\alpha^2\end{array}\right.\\ =a^2\end{array}$$

Da auch $AM+NQ=AM+MB$, $AP+NR=AP+PD$
$= AB$ $= AD$

so sind AN, NC die gesuchten Rechtecke.

Zusatz.

Es erhellet von selbst, daſs es im Fall eines Durchschnittes der Linie LS mit dem Kreise ein zweites Paar Rechtecke mit der gegebenen Eigenschaft giebt.

Fall 3.

Es sey $a<\alpha$.

Dieser Fall wird eben so behandelt, wie Fall 2.

Anmerkung 1.

Die Aufgabe läſst sich auch in folgender Art behandeln.

Analysis. (Fig. 75.)

Es seyen AMNP, NQCR die gesuchten Rechtecke, so ist, wenn durch den Durchschnitt W der Linie NP mit der geraden Linie AR die, die Linien AB, CD in V, S schneidende, gerade Linie VS#AD gezogen wird,

$$SA : AD.DS = AN : a^2 \quad \text{(El. I. 43.)}$$

also $DA : a = a : DS$ (El. VI. 17.)

folglich ist DS, somit der Punkt S gegeben.

Ferner ist $RS : SW = RD : DA$ (El. VI. 4.)

$$CR.RS : CR.SW = RD : DS$$
$$CR.RN = a^2 \qquad AD.DS = a^2 \quad \text{(El. VI. 1.)}$$

also $RD.DS : CR.RS = a^2 : \alpha^2$.

Da die Punkte D, S, C gegeben sind, so ist die Aufgabe auf Apoll. de sect. det. Buch I. Aufg. 3. Fall 3. reducirt.

Construction.

Man mache BA=G, BAD=R, AD=H, DC∥AB, BC∥AD, FC=CT=HC=a, FU∥BT, DS=CU, CE=α, HEG=R, GK∥HU, CKL=R=DSO, LK=KC, OS=SD, beschreibe über der geraden Linie OD einen Halbkreis, welcher der Linie CD in R begegne, ziehe RM∥AD, verlängere SO bis zum Durchschnitt W mit der geraden Linie AR, und ziehe WN∥AB so sind AN, NC die gesuchten Rechtecke.

Determination.

Damit der Halbkreis über OL der Linie CD begegne, muſs verm. Apoll. l. c. Det. seyn

$$HC : CG \geqq$$
(El. VI. 20. Zus. 2.) $$HC^2 : CE^2$$
$$a^2 : \alpha^2$$

$$\left\{\begin{array}{l} SD:CD+DS-2\sqrt{CD.DS} \\ \left\{\begin{array}{l} SD.DA \\ BC.CU \\ a^2 \end{array}\right\} : \left\{\begin{array}{l} CD.DA+AD.DS-2AD\sqrt{CD.DS} \text{ (El. VI. 1.)} \\ G.H+a^2 \left\{\begin{array}{l} -2H\sqrt{G.\frac{a^2}{H}} \\ -2a\sqrt{G.H} \end{array}\right. \end{array}\right. \end{array}\right.$$

also $\alpha^2 \leqq a^2+G.H-2a\sqrt{G.H}$ (El. V. 10.)

folglich $\alpha \leqq \sqrt{G.H}-a$

mithin $a+\alpha \leqq \sqrt{G.H}$.

Beweis.

Es ist $a+\alpha \leqq \sqrt{G.H}$

also, berührt, oder schneidet der Kreis die Linie CD. Ferner ist verm. Apoll. l. c. Bew.

$$SD.DR : SR.RC = AC : CG$$
$$= a^2 : \alpha^2$$

also $SR.RC : \alpha^2 = SD.DR : \left\{\begin{array}{l} a^2 \\ AD.DS \end{array}\right.$

$$= RD : DA$$
$$= RS : SW$$
$$= SR.RC : \left\{\begin{array}{l} SW.RC \\ CN \end{array}\right.$$

folglich $\alpha^2 = CN$.

Da auch $AN = AS = AD.DS = a^2$, und $AM+NQ = AB = G$, $AP+NR = AD = H$, so sind AN, NC die gesuchten Rechtecke.

Zusatz.

Es erhellet leicht, dafs im Fall eines Durchschnittes der zweite Durchschnittspunkt R′ gleichfalls zwey Rechtecke mit der gegebenen Eigenschaft bestimme.

Anmerkung. 2.

In ähnlicher Art wird die Aufgabe behandelt, wenn, statt der Summe der Grundlinien und der Summe der Höhen, der Unterschied der Grundlinien und der Unterschied der Höhen gegeben wird.

Anmerkung 3.

Die in Anm. 2. enthaltene Aufgabe läfst sich vermöge derselben Analysis, wie in Anm. 1., auf dieselbe Aufg. in Apoll. de sect. det. reduciren.

Aufgabe 135. (*Fig.* 76.)

Die Seiten zweyer Rectangel zu finden, deren Flächenräume den Quadraten der gegebenen geraden Linien a, α, und in welchen der Unterschied der Grundlinien und die Summe der Höhen den gegebenen geraden Linien G, H gleich seyen.

Analysis. (Fig. 76. a.)

Es seyen AN, NC die gesuchten Rectangel, also BA, AD gegebene Linien, jene $=G$, diese $=H$, so ist, wenn man, durch den Durchschnitt U der Diagonale BD des gegebenen Parallelogrammes DABC mit der verlängerten Seite NQ des Parallelogrammes QNRC, die die Linien DC, AB in V, T schneidende, gerade Linie

VT#AD zieht, $AN \left\{ a^2 \right\} = \left\{ \begin{matrix} AU \\ CU \end{matrix} \right\} + UM$ (El. I. 43.)

$= TR - \left\{ \begin{matrix} CN \\ \alpha^2 \end{matrix} \right\}$

also $a^2 + \alpha^2 = TR$

$= AD \,.\, MT$

folglich $AD : \sqrt{a^2 + \alpha^2} = \sqrt{a^2 + \alpha^2} : MT$ (El. VI. 17.), mithin ist MT, somit $\left\{ \begin{matrix} MT - AB \\ BM - AT \end{matrix} \right\}$ gegeben.

Da $DA : AB = DP : PU$

$= \left\{ \begin{matrix} DP \,.\, QN \\ \alpha^2 \end{matrix} \right\} : \left\{ \begin{matrix} PU \,.\, QN \\ AT \,.\, BM \end{matrix} \right\}$

so ist AT . BM, demnach sowohl AT, als BM (Dat. 86.), also sind die Punkte U, P, N, Q, somit die Seiten der Rechtecke AN, NC gegeben.

Construction.

Man mache BA = G, BAD = R, DA = H, BC#AD, CD#AB, OA = AB, beschreibe über DO einen, der verlängerten BA in G begegnenden, Halbkreis, nehme AE = α, AEx = R, xE = a, FA = Ax = AH, TK#DH, BW = WK, EL #GO, LS#AB, MW = WS, AT = MK, TU#AD#MR, und ziehe durch den Durchschnitt U der Linien TU, BD die die Linien AD, MN, BC in P, N, Q schneidende, gerade Linie PN#AB, so sind AN, NC die gesuchten Rechtecke.

Beweis.

Es ist $DA:AB = DP:PU$
(El.VI.20.Zus.2.) $GA^2:AO^2 = CQ:AT$
$E\blacktriangle^2 : AL^2 = CQ.QN : AT.BM$ (El.VI.1)
α^2 $KM.MB$
BS^2 (El.II.6.)
AL^2

also $\alpha^2 = CQ.QN$

folglich $a^2+\alpha^2-\alpha^2 = Ax^2 - CQ.QN$
a^2 AF^2
$DA.AK$ (El.VI.4.17.)
$DA.TM$
$= MU + UC$
UA
$= AN.$

Da $AM-QN = AM-MB$, $AP+CQ = AP+PD$
$= AB$ $= AD$

so haben die Rechtecke AN, NC die gegebene Eigenschaft.

Zusatz.

Macht man auch $M'W = WS$, $T'A = M'K$, $T'U' \parallel AD \parallel M'R'$, zieht man durch den Durchschnitt U' der Linie T'U' mit der verlängerten BD die Linie $U'Q' \parallel AB$, und verlängert man M'R', BC, bis sie der Linie U'Q' in N', Q' begegnen, so ist

$DA:AB = DP':P'U'$ (El. VI. 4.)
$\alpha^2 : AL^2$ $CQ':AT'$
$CQ'.Q'N' : AT'.BM'$
$KM'.M'B$
BS^2 (El. II. 6.)
AL^2

also $\alpha^2 = CN'$

folglich $a^2 + \alpha^2 - \alpha^2 \left\{ \begin{matrix} \\ a^2 \end{matrix} \right\} = \left\{ \begin{matrix} Ax^2 \\ DA.AK \\ DA.M'T' \end{matrix} \right\} - CN'$

$$= T'N' - \left\{ \begin{matrix} CU' \\ U'A \end{matrix} \right.$$

$$= AN'.$$

Da $AM' + CR' = AM' + M'B$, und $AP' - N'R' = AN' - P'D$,
$= AB$ $= AD$

so sind AN', $N'C$ zwey Rechtecke mit den gegebenen Flächenräumen, in welchen die Summe der Grundlinien $= G$, die Differenz der Höhen $= H$.

Anmerkung.

Dieselbe Aufgabe läfst sich auch in folgender Weise behandeln.

Analysis. (Fig. 76. b.)

Es seyen $AMNP$, $NQCR$ die gesuchten Rechtecke, so ist, wenn, durch den Durchschnitt W der geraden Linie NP mit der geraden Linie AR, die, die Linien AM, DR in V, S schneidende, gerade Linie $VS \# AD$ gezogen wird, $\left\{ \begin{matrix} AS \\ AD.DS \end{matrix} \right\} = \left\{ \begin{matrix} AN \text{ (El. I. 43.)} \\ a^2 \end{matrix} \right.$

also $AD : a = a : DS$,

folglich ist DS, somit der Punkt S gegeben.

Ferner ist $RS : SW \left\{ \begin{matrix} \\ CR.RS : \left\{ \begin{matrix} CR.SW \\ CQ.QN \\ \alpha^2 \end{matrix} \right. \end{matrix} \right\} = \left\{ \begin{matrix} RD : DA \\ RD.DS : \left\{ \begin{matrix} SD.DA \\ a^2 \end{matrix} \right. \end{matrix} \right.$

also $RD.DS : CR.RS = a^2 : \alpha^2$.

Da S, C, D gegeben sind, so ist die Aufgabe auf Apoll. de sect. det. Buch I. Aufg. 4. Fall 1. reducirt.

Aufgabe 136. (*Fig.* 77.)

Die Seiten zweyer Rectangel zu finden, deren Flächenräume den Quadraten der gegebenen geraden Linien a, α, und in welchen der Ueberschufs der Grundlinie des ersten über die des zweiten, und der Ueberschufs der Höhe des zweiten über die des ersten den gegebenen geraden Linien G, H gleich seyen.

Fall 1.

Es sey a=α. (Fig. 77. a.)

Analysis.

Es seyen APNM, CQNR die gesuchten Rectangel, also AP=AM—NQ=G, AD=CQ—PA=H,

AN=NC

folglich $\left.\begin{matrix} AQ \\ AB, BQ \end{matrix}\right\} = \left\{\begin{matrix} BR \\ CB . BM \end{matrix}\right.$

so ist $\left.\begin{matrix} AB : BC \\ BA : AD \end{matrix}\right\} = \left\{\begin{matrix} MB : BQ \\ NQ : QB \end{matrix}\right.$

mithin liegen die Punkte D, B, N in einer geraden Linie. Halbirt man AB in G, und zieht GH∥AD, auch durch den Durchschnitt H der Linie BD mit GH die gerade Linie HK∥AB, so ist, wenn KH, HL den Linien NR, PQ in K, L begegnen, KB=BL

=LA

also BK+ML=AN

$=a^2$

folglich HLNK=a^2+GE

mithin ist HLNK der Gröfse und Art nach gegeben, somit sind KH, HL, und die Rechtecke AN, NC gegeben.

Construction.

Man mache AB=G, ABC=R, CB=H, CD∥AB, AD∥BC, BG=GA, GH∥BC, ziehe die, die Linie GH in H schneidende, Diagonale BD, HE∥AB, bezeichne den Durchschnitt der Linien HE, BG mit E, nehme FB=a=LB, FO∥CL, beschreibe über GO einen Halbkreis, verlängere CB bis zum Durchschnitt mit demselben in S, mache MG=GS, MR∥BC, ziehe durch den Durchschnitt N der verlängerten Linie MR mit der verlängerten Diagonale die Linie NP∥AB, und verlängere DA bis zum Durchschnitt mit NP in P, so sind AN, NC die gesuchten Rectangel.

Beweis.

Es ist $EG : LK = BG^2 : \begin{cases} GM^2 \text{ (El. VI. 20.)} \\ GS^2 \end{cases}$

$= BG : GO$ (El. VI. 20. Zus. 2.)

$= EG : HO$ (El. VI. 1.)

also LK=HO

folglich $\left.\begin{matrix} EM \\ BL \\ LA \end{matrix}\right\} + MQ + QG \Big) = EO$

$= FB \cdot BL$ (El. VI. 4. 16.)

$= a^2$

$\left.\begin{matrix} AN \\ NC \end{matrix}\right\}$

Da auch AM—NQ=AM—MB, und CQ—AP=CQ—QB

$= AB$ $= BC$

$= G$ $= H$

so sind AN, NC die gesuchten Rechtecke.

Zusatz.

Macht man auch $M'G=GM$, $M'N' \# BC$, $N'Q' \# AB$, so ist $N'C=AN$, $AN'=NC$

also $AN'=\alpha^2$, $N'C=a^2$.

Da $CR'-AM'=BM'-M'A$, und $AP'-CQ'=BQ'-Q'C$
$=AB$ $=BC$
$=G$ $=H$

so haben auch die Rechtecke AN', $N'C$ die gegebenen Eigenschaften.

Fall 2.

Es sey $a>\alpha$. (Fig. 77. b.)

Analysis.

Es seyen $APNG$, $CQNR$ die gesuchten Rechtecke,

also $AN>NC$

folglich $\left.\begin{matrix} AQ \\ AB.BQ \end{matrix}\right\} > \left\{\begin{matrix} GC \\ CB.BG \end{matrix}\right.$

mithin $\left.\begin{matrix} AB:BC \\ BA:AD \\ TQ:QB \end{matrix}\right\} > \left\{\begin{matrix} GB:BQ \\ NQ:QB \end{matrix}\right.$ (Hauber §. 52.)

wenn die verlängerten DB, PQ einander in T schneiden;

somit $TQ>QN$.

Ferner ist $\left.\begin{matrix} AN-NC \\ a^2-\alpha^2 \\ (a+\alpha)\ (a-\alpha) \end{matrix}\right\} = AQ-GC$
$= SR-GC$, wenn TS ($\# AD$) der verlängerten DC in S begegnet;
$=RG.GH$
$=CB.GH$

also $CB : a+\alpha = a-\alpha : GH$

folglich ist $GH = HA - AG$ gegeben

mithin $GH+AB = HA-BG$ gegeben.

Da $DA : AB = DP : PT$

$= CQ : AH$

$= \left\{\begin{matrix} CQ \cdot BG \\ CN \\ \alpha^2 \end{matrix}\right\} : AH \cdot BG$

so ist $AH \cdot BG$, somit (Dat. 85.) sowohl AH, als BG, demnach sind die Punkte T, N, P, somit die Rechtecke gegeben.

Construction.

Man mache $AB = G$, $ABC = R$, $CB = H$, $AD \# BC$, $CD \# AB$, $LB = \alpha$, $LF = a$, $WB = BF$, $FK \# CW$, $AO = OK$, $EB = BA$, beschreibe über EC den, die Linie BA in V schneidenden, Halbkreis, ziehe $LM \# VE$, durch den Durchschnitt M der verlängerten CB mit LM die, der verlängerten DA in U begegnende, gerade Linie $MU \# AB$, mache $HO = OU$, $HG = BK$, ziehe $HT \# GN \# CB$, durch den Durchschnitt T der Linie HT mit der verlängerten DB die Linie $TQ \# AB$, und bezeichne den Durchschnitt der Linien TQ, GN mit N, so sind AN, NC die gesuchten Rechtecke.

Beweis.

Es ist $DA \cdot AB = DP : PT$

$CB : BE = CQ : AH$

(El. VI. 20. Zus. 2.) $VB^2 : BE^2 = CQ \cdot BG : AH \cdot BG$

$LB^2 : \left\{\begin{matrix} BM^2 \\ AU^2 \\ AH.HK \\ AH.BG \end{matrix}\right.$

α^2

(El. II. 6.)

also $\alpha^2 = CQ \cdot BG$

folglich $\alpha^2 + a^2 - \alpha^2 = NC + \begin{cases} BF^2 \\ CB \cdot BK \\ RG \cdot GH \end{cases}$

$= \begin{cases} CH \\ BP \end{cases} + NB$

$= AN.$

Da auch $AG - QN = AG - GB$, und $CQ - AP = CQ - QB$

$= AB$ $= BC$

$= G$ $= H$

so haben AN, NC die gegebenen Eigenschaften.

Zusatz.

Macht man auch $H'O = OU$, $G'H' = BK$, $H'T' \# AD$, $T'Q' \# AB$, so ist

$$LB^2 : \begin{cases} AU^2 \\ KH' \cdot H'A \\ BG' \cdot AH' \end{cases} \begin{cases} = DP' : P'T' \\ = CQ' : AH' \\ = CQ' \cdot BG' : AH' \cdot BG' \end{cases}$$

also $\alpha^2 = \begin{cases} CQ' \cdot BG' \\ CN' \end{cases}$

folglich $a^2 - \alpha^2 + \alpha^2 = CN' + \begin{cases} BF^2 \\ CB \cdot BK \\ R'G' \cdot G'H' \\ R'H' \end{cases}$ (El. VI. 4. 17.)

$= N'B - \begin{cases} BS' \\ BP' \end{cases}$

$= AN'$

Da $CR' - AG' = BG' - AG'$, und $AP' - R'N' = AP' - P'D$

$= AB$ $= AD$

$= G$ $= H$

so sind auch AN', CN' Rechtecke mit den gegebenen Eigenschaften.

Fall 3.

Es sey $a<\alpha$. (Fig. 77. c.)

Analysis.

Es seyen APNG, CQNR die gesuchten Rechtecke,

also AN<NC

folglich $\left.\begin{matrix}AQ\\AB.BQ\end{matrix}\right\}<\left\{\begin{matrix}GC\\CB.BG\end{matrix}\right.$

mithin $\left.\begin{matrix}AB:BC\\BA:AD\\TQ:QB\end{matrix}\right\}<\left\{\begin{matrix}GB:BQ\\NQ:QB\end{matrix}\right.$ (Hauber §. 52.)

wenn die verlängerten DB, PQ einander in Q schneiden;

somit TQ<QN.

Ferner ist $\left.\begin{matrix}NC-AN\\a^2-\alpha^2\\(a+\alpha)(a-\alpha)\end{matrix}\right\}=CG-\left\{\begin{matrix}AQ\\BS,\end{matrix}\right.$ wenn TS (∥AD) der verlängerten DC in S begegnet;

$=HG.GR$

also $RG:a+\alpha=a-\alpha:GH$

folglich ist GH=GA—AH gegeben

mithin AB—GH=HA—BG gegeben.

Da $DA:AB=DP:PT$

$=CQ:AH$

$=\left\{\begin{matrix}CQ.BG\\\alpha^2\end{matrix}\right\}:AH.BG$

so ist AH.BG, somit (Dat. 86.) sowohl AH, als BG,

demnach sind die Punkte T, N, P, und die Rechtecke AN, NC gegeben.

Construction.

Buchstäblich, wie zu Fall 2.

Beweis.

$$\text{Es ist } \left.\begin{array}{l} DA:AB \\ VB^2:BE^2 \\ LB^2:\left\{\begin{array}{l} BM^2 \\ AU^2 \end{array}\right. \\ \alpha^2:\left\{\begin{array}{l} AH.HK \\ AH.BG \end{array}\right. \end{array}\right\} = \left.\begin{array}{l} DP:PT \\ CQ:AH \\ \left\{\begin{array}{l} CQ.BG \\ CN \end{array}\right\}:AH.BG \end{array}\right.$$

also $CN=\alpha^2$

$$\text{folglich } \alpha^2-\left\{\begin{array}{l} \alpha^2+a^2 \\ a^2 \end{array}\right\} = CN-\left\{\begin{array}{l} BF^2 \\ CB.BK \\ RG.GH \\ RH \end{array}\right.$$

$$= \left\{\begin{array}{l} CH \\ BP \end{array}\right\}+BN$$

$$= AN.$$

Da auch $AG-QN=AG-GB$, und $CQ-AP=CQ-QB$

$=AB$ $\quad$ $=BG$

$=G$ $\quad$ $=H$

so haben die Rechtecke AN, NC die gegebenen Eigenschaften.

Zusatz.

Macht man auch $H'O=OU$, $H'T'\#AD$, $T'Q'\#CD$, $HG=BK$, $GN\#AD$, so ist

$$\alpha^2 : \left\{\begin{matrix} DA : AB \\ AU^2 \\ AH' \,.\, H'K \\ AH' \,.\, BG' \end{matrix}\right\} = \left\{\begin{matrix} DP' : P'T' \\ CQ' : AH' \\ CQ' \,.\, BG' \\ CN' \end{matrix}\right\} : BG' \,.\, AH',$$

also $\alpha^2 = CN'$

folglich $\alpha^2 - \alpha^2 + a^2 = CN' - \left\{\begin{matrix} BF^2 \\ CB \,.\, BK \\ R'G' \,.\, G'H' \\ R'H' \end{matrix}\right.$

$$= BN' - \left\{\begin{matrix} CH' \\ BP' \end{matrix}\right.$$

$$= AN'.$$

Da $CR' - AG' = CR' - R'D$, und $AP' - CQ' = AP' - P'D$

$= AB$ $= AD$

$= G$ $= H$

so sind auch CN', $N'A$ Rechtecke mit der gegebenen Eigenschaft.

Aufgabe 137. (Fig. 78.)

Die Seiten zweyer gleichen Rechtecke mit ungleichen Höhen zu finden, deren Grundlinien zusammengenommen der gegebenen geraden Linie G gleich, und welche überdiefs so beschaffen seyen, dafs die Rechtecke, welche auf denselben Grundlinien stehen, aber die verwechselten Höhen haben, den Quadraten der gegebenen geraden Linien a, α gleich seyen.

Analysis.

Es seyen OF, FC die gesuchten Rechtecke, also DF, BE die durch Verwechselung der Höhen auf denselben

Grundlinien gebildeten, so ist $\left.\begin{matrix} DF:BE \\ DA.AF.BF.FE \end{matrix}\right\} = a^2:\alpha$.

$$\left.\begin{matrix} Da\ OF \\ AF.FE \end{matrix}\right\} = \left\{\begin{matrix} FC \\ FB.BC \end{matrix}\right.$$

so ist $AF:FB = BC:FE$

also $AF^2:FB^2 = \left\{\begin{matrix} BC.AF \\ DA.AF \end{matrix}\right\} : BF.FE$

folglich $AF^2:FB^2 = a^2:\alpha^2$

mithin $AF:FB = a:\alpha$

demnach ist $AF:FB$ gegeben, somit ist AF, also sind der Punkt F, die Linien DA, AO, und die Rechtecke gegeben.

Construction.

Man mache $BA=G$, $BAG=BAD=R$, $AG=a$, $GH=\alpha$, $FGK=R=BHL=AKM$, $GF \# BH$, ziehe durch den Durchschnitt F der Linien GF, AB die Linie $FE \# AD$, und mache $MK=KL$, $DA=AK$, $ME \# AB$, $DC \# AB$, $BC \# AD$, so sind OF, FC die gesuchten Rechtecke.

Beweis.

Es ist $AF:FB = \left\{\begin{matrix} AG:GH \\ AK:KL \\ DA:AO \end{matrix}\right.$

also $\left.\begin{matrix} FA.AO \\ OF \end{matrix}\right\} = \left\{\begin{matrix} DA.FB \\ FC \end{matrix}\right.$

Ferner ist $FA:AG = GA: \left\{\begin{matrix} AK \\ AD \end{matrix}\right.$

also $FA.AD = \left\{\begin{matrix} AG^2 \\ a^2 \end{matrix}\right.$

Auch ist $BF : GH = FA : AG$

$= GA : AK$

$= HG : \begin{cases} KL \\ AO \\ BN \end{cases}$

also $FB . BN = \begin{cases} GH^2 \\ \alpha^2 \end{cases}$

folglich sind OF, FC die gesuchten Rectangel.

Anmerkung 1.

Auf ganz ähnliche Weise wird die Aufgabe aufgelöst, wenn statt der Summe der Grundlinien die Differenz derselben gegeben wird.

Anmerkung 2.

Dieselbe Aufgabe läfst sich auch in folgender Art behandeln.

Analysis. (Fig. 79.)

Es seyen AMNP, NQCR die gesuchten Rechtecke, so ist, wenn durch den Durchschnitt W der verlängerten NP mit der verlängerten geraden Linie AR die, die verlängerten Linien AM, RD in V, S schneidende, gerade Linie VS ∥ AD gezogen wird, $AS = \begin{cases} AN \\ AD . DS \end{cases} \begin{cases} a^2 \end{cases}$

also $AD : a = a : DS$

folglich ist DS, somit der Punkt S gegeben.

Ferner ist $RS : SW = \begin{cases} RD : DA \\ RD . DS : \begin{cases} AD . DS \\ a^2 \end{cases} \end{cases}$

$CR . RS : \begin{cases} CR . SW \\ QC . CR \\ \alpha^2 \end{cases}$

also $SD . DR : CR . RS = a^2 : \alpha^2$.

Da die Punkte S, D, C gegeben sind, so ist die Aufgabe auf Apoll. de sect. det. Buch I. Aufg. 4. Fall 2. reducirt.

Aufgabe 138. (*Fig.* 80.)

Die Seiten zweyer Rectangel zu finden, in welchen die Summe der Grundlinien der gegebenen geraden Linie G, die Summe der Flächen dem Quadrate der gegebenen geraden Linie S gleich sey, und die Rechtecke, welche auf denselben Grundlinien mit verwechselten Höhen gebildet werden, den Quadraten der gegebenen geraden Linien a, α gleich seyen.

Analysis.

Es seyen OF, FC die gesuchten Rechtecke, so ist

$$OF+FC=S^2,\ DF=a^2,\ FN=b^2$$

also $\left.\begin{matrix}OF+FC+DF+FN\\ OC\end{matrix}\right\}=S^2+a^2+b^2$

folglich ist OC, mithin OD gegeben. Da auch AB = AF+FB gegeben ist, so sind zwey Rechtecke DF, FN von gegebenen Flächenräumen mit gegebener Summe der Grundlinien und gegebener Summe der Höhen zu beschreiben, mithin ist die Aufgabe auf Aufg. 134. reducirt.

Anmerkung.

Auf ähnliche Art werden die Aufgaben behandelt, wenn statt der Summe der Grundlinien die Differenz derselben, oder statt der Summe der Flächen die Differenz der Flächen gegeben ist.

Aufgabe 139. (*Fig.* 81.)

Auf einer, der Lage nach gegebenen, eine andere, der Lage nach gegebene, gerade Linie AB zwischen zwey in derselben gegebenen Punkten A, B schneidenden geraden Linie DE einen Punkt D zu finden, so dafs der Unterschied der Winkel DAB, DBA dem gegebenen Winkel α gleich sey.

Fall 1. (Fig. 81. a. b.)

Der Winkel DEA ist $=R$.

Analysis.

Es sey D der gesuchte Punkt, so ist, wenn CE$=$EA gemacht, und die gerade Linie DC gezogen wird,

$$BDC = \left\{\begin{matrix} DCA \\ DAC \end{matrix}\right\} - DBC.$$

$$= \alpha.$$

Da auch $BC = BE - \left\{\begin{matrix} EC \\ EA \end{matrix}\right.$, also gegeben ist, so liegt der Punkt D auf dem Umfange eines, der Gröfse und Lage, nach gegebenen Kreisabschnittes (El. III. 33.), ist also, da er auch auf der Linie DE liegt, gegeben.

Construction.

Man mache CE$=$EA, beschreibe über BC einen Kreisabschnitt, welcher eines Winkels $=\alpha$ fähig ist. Der Punkt D, in welchem derselbe die Linie DE erreicht, ist der gesuchte.

Determination.

Damit über BC ein Abschnitt, des Winkels α fähig, beschrieben werden könne, darf nicht BC$=0$, also nicht

$BE = \begin{cases} EC \\ EA \end{cases}$ seyn. Und damit der Kreis die Linie DE erreiche, mufs, wenn G der Mittelpunkt und GH ein Perpendikel auf DE ist, seyn $GC \geqq \begin{cases} GH \\ FE \\ \frac{BC+CA}{2} \\ \frac{BE+EA}{2} \end{cases}$

Es ist $\left.\begin{matrix} FC \\ \frac{BE-EA}{2} \end{matrix}\right\} : CG = \sin.\alpha : 1$

also mufs seyn $\frac{BE-EA}{2} : \frac{BE+EA}{2} \geqq \sin.\alpha : 1$

folglich $BE : EA \leqq \begin{cases} 1+\sin.\alpha : 1-\sin.\alpha \\ \tan.(45^0+\frac{1}{2}\alpha)^2 : 1 \end{cases}$ (Propositionum de ration. inter se diversis demonstr. ed. Hauber. Tub. 1793. §. 9.) (Trigon. Formeln von Diesterweg. Bonn 1822. §. 42.)

Beweis.

Es ist nicht $BE = EA$ (Det.), also läfst sich über BC ein Abschnitt, des Winkels α fähig, beschreiben.

Es ist $BE : EA \leqq \begin{cases} (\tan.45^0+\frac{1}{2}\alpha)^2 : 1 \text{ (Det.)} \\ 1+\sin.\alpha : 1-\sin.\alpha \end{cases}$

also $\frac{BE-EA}{2} : \begin{cases} \frac{BE+EA}{2} \\ GH \end{cases} \geqq \begin{cases} \sin.\alpha : 1 \text{ (Hauber §. 39.)} \\ FC : CG \\ \frac{BE-EA}{2} : CG \end{cases}$

folglich $GH \leqq GC$ (El. V. 10.)

mithin berührt, oder schneidet der Kreis die Linie DE.

Ferner ist $BDC = \left\{\begin{matrix} ACD \\ DAC \end{matrix}\right\} - DBA$

also ist der Punkt D der verlangte.

Zusatz 1.

Da der Winkel BDC (Fig. 81. a.) gröfser ist, als eder andere Winkel, welchen zwey, von B, C zu irgend einem anderen Punkte der Linie ED gezogene, gerade Linien mit einander bilden, so bestimmt der Berührungspunkt ein Dreieck mit gröfserem Unterschiede der Winkel an der Grundlinie, als jeder andere Punkt der Linie DE, auch von zwey auf derselben Seite des Berührungspunktes liegenden der näher liegende ein Dreieck mit gröfserem Unterschiede, als der entferntere.

Zusatz 2.

Es ergiebt sich von selbst, dafs man im Fall des Durchschnittes (Fig. 81. b.) zwey Punkte mit der gegebenen Eigenschaft erhält.

Fall 2. (Fig. 81. c.)

Der Winkel DEA ist >R.

Analysis.

Es sey D der gesuchte Punkt, so ist, wenn AKD =R, CK=KA gemacht, DC gezogen, und mit L der Durchschnitt derselben mit AB bezeichnet wird,

$$DLB = ALC$$

$$\text{also } \left\{\begin{matrix} LDB \\ CDB \end{matrix}\right\} + LBD = LAC + \left\{\begin{matrix} LCA \\ DAC \end{matrix}\right\}$$

$$\text{folglich } CDB = 2LAC + \left\{\begin{matrix} BAD \\ a \end{matrix}\right\} - DBA$$

mithin ist der Winkel CDB der Gröfse nach gegeben.

Da auch BC der Lage und Gröfse nach gegeben ist, so liegt D auf dem Umfange eines der Gröfse und Lage nach gegebenen Kreisabschnittes (El. III. 33.) ist also, da er auch auf DE liegt, gegeben.

Construction.

Man mache AKD=R, CK=KA, beschreibe über der geraden Linie BC einen Abschnitt, welcher eines Winkels =2BAC+α fähig ist. Der Punkt D, in welchem derselbe mit DE zusammentrifft, ist der verlangte.

Determination.

Damit der Kreisbogen die Linie DE erreiche, mufs, wenn G des Kreises Mittelpunkt, und GHD=R ist, seyn

$$GC \gtrless \left\{\begin{matrix} GH \\ KM \end{matrix}\right\}, \text{ wenn } GMC = R.$$

Es ist $\left\{\begin{matrix} FC \\ \frac{1}{2}BC \end{matrix}\right\} : CG = \sin.FGC : 1$
$= \sin.(2BAC+\alpha) : 1$

also $CG = \dfrac{BC}{2\sin.(2BAC+\alpha)}$

Auch ist $\left\{\begin{matrix} GC \\ \dfrac{BC}{2\sin.(2BAC+\alpha)} \end{matrix}\right\} : CM = 1 : \left\{\begin{matrix} \cos.GCM \\ \sin.(R-GCM) \\ \sin.(R-BCM-\left\{\begin{matrix} GCF \\ R-\left\{\begin{matrix} BDC \\ 2BAC+\alpha \end{matrix}\right) \end{matrix}\right. \\ \sin.(2R-BCM+2BAC+\alpha) \\ \sin.(2R-ABC+BAC+\alpha) \\ \sin.(BAC-ABC+\alpha) \end{matrix}\right.$

folglich $CM = \dfrac{BC.\sin.(BAC-ABC+\alpha)}{2\sin.(2BAC+\alpha)}$

mithin $KM = AK + \frac{BC.\sin.(BAC - ABC + \alpha)}{2\sin.(2BAC + \alpha)}$

demnach mufs seyn

$$\frac{BC}{2\sin.(2BAC+\alpha)} \geq AK + \frac{BC.\sin.(BAC-ABC+\alpha)}{2\sin.(2BAC+\alpha)}$$

also $BC \geq 2AK.\sin.(2BAC+\alpha) + BC.\sin.(BAC-ABC+\alpha)$

folglich $BC(1-\sin.(BAC-ABC+\alpha)) \geq 2AK.\sin.(2BAC+\alpha)$

mithin $BC:AK \geq 2\sin.(2ABC+\alpha) : 1-\sin.(BAC-ABC+\alpha)$.

Beweis.

Es ist $BC:AK \geq 2\sin.(2BAC+\alpha):1-\sin.(BAC-ABC+\alpha)$, also berührt, oder schneidet der Kreis die Linie KD.

Ferner ist $CDB = 2LAC + \alpha$

also $LDB + LBD = 2LAC + \alpha + LBD$

$LAC + \begin{cases} LCA \\ DAC \end{cases}$

folglich $\left.\begin{matrix} DAC - LAC - LBD \\ DAB - ABD \end{matrix}\right\} = \alpha$.

Zusatz 1.

Da der Winkel CDB, wenn D der Berührungspunkt ist, gröfser ist, als jeder andere, welchen die, von irgend einem Punkte der Linie KD zu den Punkten B, C gezogenen, geraden Linien mit einander bilden, so bestimmt der Berührungspunkt ein Dreieck, mit gröfserem Unterschiede der Winkel an der Grundlinie, als jeder andere Punkt der Linie DE; und von zwey, auf derselben Seite des Berührungspunktes liegenden, Punkten bestimmt der nähere ein Dreieck mit gröfserem Unterschiede, als der entferntere.

Zusatz 2.

Es erhellet von selbst, dafs es im Fall eines Durchschnittes zwey Punkte mit der gegebenen Eigenschaft giebt.

Aufgabe 140. (*Fig.* 82.)

Einen Kreis zu beschreiben, welcher durch zwey gegebene Punkte A, B gehe, und eine, der Lage nach gegebene, gerade Linie DE in D, E so schneide, dafs der auf DE liegende Kreisabschnitt einen gegebenen Winkel α fasse.

Analysis.

Es sey C der Mittelpunkt, es seyen DC, CB Radien des gesuchten Kreises, so ist, wenn das Perpendikel CH auf AB gezogen, und, wo nöthig, bis zum Durchschnitt G mit DE verlängert wird, und wenn von einem beliebigen Punkte I der Linie CH die Linien IK, IL den Linien CD, CB paralliel gezogen, auch bis zum Durchschnitt mit DE in K, L verlängert werden,

$$DC : KI = CG : GI$$
$$= CB : IL$$

also $KI = IL$.

Macht man $CMD = R$, so ist $DCM = \alpha$ (El. III. 20.)

also $\left.\begin{matrix} CDM \\ IKG \end{matrix}\right\} = R - \alpha$.

folglich ist IKG gegeben; mithin ist, da der Punkt I, in der (Dat. 33.) der Lage nach gegebenen geraden Linie, beliebig angenommen werden kann, die Linie KI der Lage und Gröfse nach (Dat. 33.), somit auch IL,

demnach BC der Lage nach (Dat. 34.), also der Punkt C (Dat. 28.), und der Radius CB gegeben.

Aufgabe 141. (*Fig.* 83.)

In einen, der Gröfse und Lage nach, gegebenen Kreis ein Dreieck zu legen, von welchem die Verlängerungen zweyer Seiten durch zwey, ausserhalb des Kreises in derselben Ebene, gegebene Punkte A, B gehen, die dritte Seite aber der die Punkte A, B verbindenden geraden Linie parallel sey.

Analysis.

Es sey $\triangle CDE$ das verlangte, so ist, wenn $ADG = ABC$ gemacht wird, und G den Durchschnitt der Linien AB, DG bezeichnet,

$DA : AG = BA : AC$ (El. VI. 4.)

---

also $BA \cdot AG = DA \cdot AC$ (El. VI. 16.)

$= AF^2$, wenn die gerade Linie AF den Kreis in F berührt (El. III. 36.);

---

folglich $BA : AF = FA : AG$ (El. VI. 17.)

mithin ist AG der Gröfse nach (Dat 91. 2.), somit der Punkt G gegeben.

Da $ADG = ABC$

$= DEC$

so berührt GD den Kreis in D (El. III. 32. Conv.), also ist der Punkt D (Dat. 94.), folglich die gerade Linie AD der Lage nach, mithin der Punkt C (Dat. 28.), somit der Punkt E (Dat. 28.), und das ganze Dreieck DEC gegeben.

Construction.

Man lege von A an den Kreis die Tangente AF, ziehe die gerade Linie FB, mache AFG=ABF, lege von dem Durchschnitte G der Linie FG mit der Linie AB eine Tangente GD an den Kreis, ziehe durch die Punkte A, D eine gerade Linie, welche dem Kreise in C begegne, und durch B, C die, den Kreis in E schneidende, gerade Linie CE, so ist, wenn die gerade Linie DE gezogen wird, $\triangle CDE$ das verlangte.

Beweis.

Es ist $DA.AC=AF^2$ (El. III. 36.)
$=BA.AG$ (El. VI. 4. 17.)

also $DA:AG=BA:AC$ (El. VI. 17.)

folglich $AGD=ACB$ (El. VI. 4.)
$=GDE$ (El. III. 32.)

mithin $DE \parallel AB$.

Da auch die Verlängerungen der Seiten DC, CE durch die Punkte A, B laufen, so ist $\triangle DCE$ das verlangte.

Zusatz.

Es erhellet von selbst, dafs es wegen der zweiten Tangente, welche von G an den Kreis gezogen werden kann, ein zweites Dreieck mit der gegebenen Eigenschaft giebt.

Aufgabe 142. (*Fig.* 84.)

In einen, der Gröfse und Lage nach, gegebenen Kreis ein Dreieck zu legen, dessen drey Seiten in ihrer Ver-

längerung durch drey, ausserhalb des Kreises, in derselben Ebene, in gerader Linie liegende Punkte A, B, F, laufen.

Analysis.

Es sey △DEC das verlangte, so ist, wenn die gerade Linie DH∥AB den Kreis in H schneidet, und die, die Linie AF in G schneidende, gerade Linie HE gezogen wird, EGB=GHD (El. I. 29.)

=EHD

=DCE (El. III. 21.)

=ACB

---

also GB:BE=CB:BA (El. VI. 4.)

---

folglich GB.BA=CB.BE (El. VI. 16.)

=BK^2, wenn die gerade Linie BK den Kreis in K berührt (El. III. 36.);

---

mithin AB:BK=KB:BG (El. III. 17.);

demnach ist BG der Gröfse nach, somit der Punkt G gegeben. Da die Verlängerungen der Seiten DE, EH des Dreieckes DEH durch die gegebenen Punkte G, F laufen, und die dritte Seite DH∥AB ist, so ist, nach der vorigen Aufgabe, der Punkt E, somit der Punkt C, folglich der Punkt D, und das ganze Dreieck gegeben.

Aufgabe 143. (*Fig.* 85.)

In einen, der Gröfse und Lage nach, gegebenen Kreis ein Dreieck zu legen, von welchem die Verlängerungen zweyer Seiten durch die, ausserhalb des Kreises, in derselben Ebene, gegebenen Punkte A, B gehen, die Verlängerung der dritten mit der, durch die Punkte A, B

gezogenen, geraden Linie einen Winkel bilde, welcher dem gegebenen Winkel α gleich sey.

Analysis.

Es sey $\triangle DCE$ das verlangte, so ist, wenn $BEG = BAC$ gemacht, und der Durchschnitt der Linie EG mit der geraden Linie AB durch G bezeichnet wird,

$AB : BC = EB : BG$ (El. VI. 4.)

also $AB \cdot BG = EB \cdot BC$ (El. VI. 16.)

$= HB \cdot BK$, wenn KH ein von B gezogener Durchmesser des Kreises ist (El. III. 36.);

folglich ist $AB : BH = KB : BG$ (El. VI. 16.);

mithin ist BG der Gröfse nach, somit der Punkt G gegeben.

Da $\left.\begin{matrix} GEB \\ CAB \end{matrix}\right\} = \begin{cases} CEL, \text{ wenn L den Durchschnitt der verlängerten GE mit dem Kreise bezeichnet;} \\ CDL \text{ (El. III. 21.)} \end{cases}$

so ist $DL \# AB$

also $LDE = \left\{\begin{matrix} DFG \\ \alpha \end{matrix}\right.$

folglich ist EL (Dat. 91.) der Gröfse nach, mithin das von des Kreises Mittelpunkt O auf EL gefällte Perpendikel OM ebenfalls der Gröfse nach, somit auch ein aus O als Mittelpunkt mit einem Radius $= OM$ beschriebener Kreis der Gröfse und Lage nach, also die von G an denselben gezogene Tangente GM der Lage nach (Dat. 94.), folglich der Durchschnittspunkt E derselben mit dem gegebenen Kreise (Dat. 28.), mithin der Punkt C (Dat. 28.), somit der Punkt D, und das ganze Dreieck gegeben.

Construction.

Man ziehe von B aus den Durchmesser KH des gegebenen Kreises, verbinde H mit K durch die gerade Linie AH, mache BKG=BAH, bezeichne den Durchschnitt der Linie KG mit der geraden Linie AB durch G, mache HON=2α, HOQ=QON, bezeichne mit Q den Durchschnitt der Linie OQ mit der, die Endpunkte der Radien H, N verbindenden geraden Linie HN, beschreibe aus O als Mittelpunkt mit einem Radius =OQ einen Kreis, lege an denselben die Tangente GM, welche den unmittelbar gegebenen Kreis in E schneide, ziehe die gerade Linie BE, welche in ihrer Verlängerung denselben Kreis in C erreiche, verbinde A mit C durch die, diesen Kreis in D schneidende, gerade Linie AC, und D mit E durch die gerade Linie DE, so ist CDE das gesuchte Dreieck.

Beweis.

Es ist AB:BH=KB:BG (El. VI. 4.)

also AB.BG=KB.BH (El. VI. 16.)
=EB.BC (El. III. 36.)

folglich AB:BC=EB:BG (El. VI. 16.)

mithin BAC=BEG (El. VI. 4.)
=CEL
=CDL (El. III. 21.)

demnach $\frac{1}{2}$LD$\parallel$AB

somit LDE=DFG, wenn F der Durchschnitt der verlängerten DE mit der verlängerten AB ist.

(El. III. 20.) $\frac{1}{2}$HON
α

Aufgabe. 152.

Ein Dreieck zu beschreiben, in welchem der Winkel der Spitze, und die Summe der denselben einschliessenden Seiten gegeben seyen, und die Höhe die vierte geometrische Proportionallinie zu der Grundlinie, der Summe der Grundlinie und einer gegebenen geraden Linie, und dem Ueberschusse der Grundlinie über dieselbe Linie sey.

Aufgabe 153.

Ein Dreieck zu beschreiben, in welchem der Winkel der Spitze, und die Summe der denselben einschliessenden Seiten gegeben seyen, und die Höhe die vierte geometrische Proportionallinie zu der Grundlinie, der Summe des Ueberschusses einer gegebenen geraden Linie über die Grundlinie und einer anderen gegebenen geraden Linie, und dem Ueberschusse jener Summe über die andere gegebene Linie sey.

Aufgabe 154.

Ein Dreieck zu beschreiben, in welchem der Winkel der Spitze, und die Summe der denselben einschliessenden Seiten gegeben seyen, und die Höhe die vierte geometrische Proportionallinie zu der Grundlinie, der Summe einer gegebenen geraden Linie und des Ueberschusses einer anderen gegebenen geraden Linie über die Grundlinie, und dem Ueberschusse jener gegebenen Linie über diesen Ueberschuſs sey.

also FE . ED = AE . EC (El. VI. 16.)
= UE . EQ (El. III. 36.), wenn UQ ein von E gezogener Durchmesser ist;

folglich DE : EU = QE : EF

mithin ist EF der Gröfse nach, somit der Punkt F gegeben.

Verlängert man FC bis zum Durchschnitt mit dem Kreise in L, und zieht die gerade Linie BL, so ist

LBA + ACL = 2R (El. III. 22.)
= FCA + ACL

also $\left.\begin{matrix} LBA \\ LBD \end{matrix}\right\} = \left\{\begin{matrix} FCA \\ EDA \end{matrix}\right.$

folglich LB ∥ DF.

Da NOM = MAE
= NAC
= NBC

so ist BC ∥ OM

mithin LBC = DEM;

demnach ist LBC ein gegebener Winkel, also ist auch CL, folglich ein von des Kreises Mittelpunkt O auf CL gefälltes Perpendikel OP der Gröfse nach, mithin ein aus O als Mittelpunkt mit einem Radius = OP beschriebener Kreis der Gröfse und Lage nach, somit die von F an denselben gezogene Tangente FP der Lage nach, demnach der Durchschnitt C derselben mit dem unmittelbar gegebenen Kreise, also der Durchschnitt A der geraden Linie EC mit demselben Kreise, folglich der Punkt B, somit der Punkt N, und das ganze Dreieck gegeben.

Construction.

Man ziehe von M durch den Mittelpunkt O den Durchmesser HG, verbinde O mit G durch die gerade Linie OG, mache MHE=GOM, ziehe von dem Durchschnitte E der geraden Linien AE, OM den Durchmesser UQ, verbinde Q mit D durch die gerade Linie DQ, mache EUF=EDQ, ziehe die gerade Linie ED, welche, wenn es nöthig ist, verlängert werde bis zum Durchschnitt mit UF in F, mache GOR=2FEM, ROS =SOG, beschreibe aus O als Mittelpunkt mit einem Radius =OS, wenn S der Durchschnitt der Linie OS mit der, die Endpunkte G, R der Radien GO, OR verbindenden, geraden Linie GR ist, einen Kreis, lege an denselben die Tangente FT, welche den unmittelbar gegebenen Kreis in C schneide, ziehe die, denselben Kreis in A schneidende, gerade Linie EC, verlängere die, die Punkte M, A verbindende gerade Linie MA bis zum Durchschnitt mit diesem Kreise in N, verlängere die, die Punkte D, A verbindende, gerade Linie DA bis zum Durchschnitt mit demselben Kreise in B, und ziehe die geraden Linien BA, ON, NB, so ist △ABN das verlangte.

Beweis.

Es ist OM : MG = HM : ME (El. VI. 4.)

also OM . ME = HM . MG (El. VI. 16.)
= AM . MN (El. III. 36.)

folglich OM : MN = AM : ME (El. VI. 16.)

mithin MNO = MEA (El. VI. 4.).

Anmerkung.

Setzt man in den zunächst vorhergehenden 13 Aufgaben, statt der Summe der den Winkel der Spitze einschliessenden Seiten, den Unterschied, oder die Summe der Quadrate derselben, oder den Umfang des Dreieckes, so erhält man 39 andere, in ähnlicher Art auflösbare, Aufgaben.

Bonn, 1825.

Gedruckt bey Anton Hacker

mit Büschler'schen Schriften.

mithin der Punkt K, somit die gerade Linie KD gegeben; demnach liegt der Punkt G auf dem Umfange eines, der Gröfse und Lage nach, gegebenen Kreisabschnittes (El. I. 33), ist also (Dat. 28.) gegeben, folglich ist auch der Punkt H, mithin der Punkt E, somit der Punkt F, und das ganze Viereck gegeben.

Aufgabe 146. (*Fig.* 88.)

In einen, der Gröfse und Lage nach, gegebenen Kreis ein Fünfeck FGHIK zu legen, dessen Seiten in ihrer Verlängerung durch die gegebenen Punkte A, B, C, D, E laufen.

Analysis.

Es sey FGHIK das gesuchte Fünfeck, so ist, wenn BHL=BAG, der Punkt L gegeben, und, wenn die gerade Linie LH bis zum Durchschnitt mit dem Kreisumfange verlängert wird, OF∥AB, wie Aufg. 145. Aus denselben Gründen ist der Punkt M gegeben, und PQ∥LC, wenn die gerade Linie CL gezogen, und CIM=CLH gemacht wird. Defsgleichen ist N gegeben, und QP∥ME, wenn ME gezogen, EKN=EMI gemacht, NK bis zum Durchschnitt Q mit dem Kreise verlängert, und QP gezogen wird. Also ist END=QRD, wenn die gerade Linie DN bis zum Durchschnitt mit QP verlängert wird.

Da QSD=QRD—RQS, wenn die verlängerte DR der verläng. QF in S begegnet;

$$=DNE-\begin{cases}FQP\\CLB\end{cases}$$

so ist QSD gegeben. Mithin ist FQK ein in den Kreis

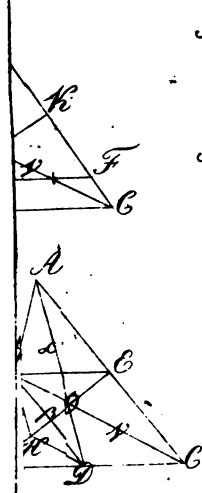

Fig: 31

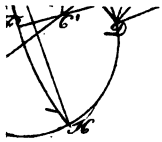

Fig. 39. f.

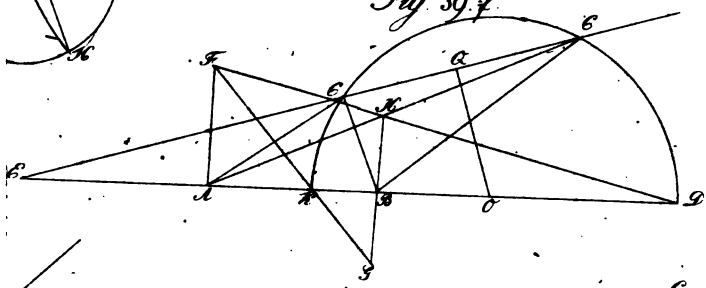

Fig. 39. h.

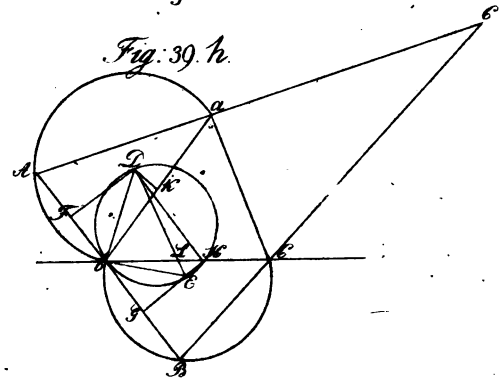

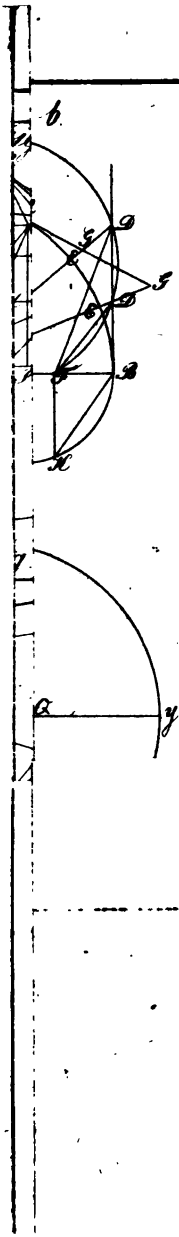
b
D
G
E
F
C
D
A
B
H
Q
y

Taf. 12.

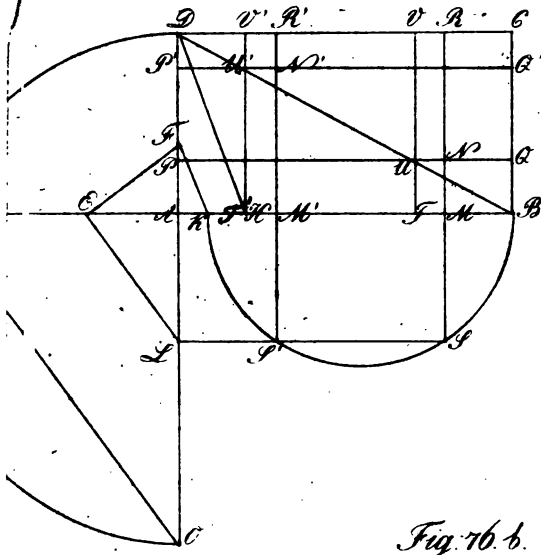

Fig. 74. b.

Fig. 76. a.



Fig. 76. b.

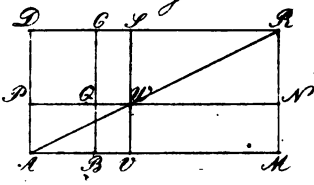

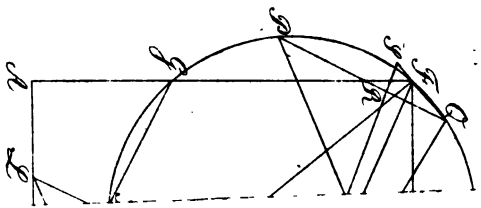

APR 6 - 1954